112 年特種考試地方政府公務人員考試試題

等　　別：三等考試
類　　科：各類科（除公職社會工作師、公職獸醫師、公職建築師外）
科　　目：國文（作文與測驗）
考試時間：2 小時　　座號：_____

更多地特考試科目的歷屆題庫
立即上網搜尋“地特歷屆考古題懶人包”
高鋒公職補習班整理
Line@帳號：@gaofeng
連絡電話：07-236-7296

※注意：㈠禁止使用電子計算器。
㈡本科目試題包括作文及測驗兩部分，請妥適分配各題作答時間。

甲、作文部分：（80 分）
㈠作答時請將試題題號及答案依照順序寫在申論試卷上，並以藍、黑色鋼筆或原子筆由左至右橫式作答，於本試題上作答者，不予計分。
㈡不得於試卷上書寫姓名或座號。

心理學家指出：人之所以不自由，是因為人從出生開始，就會不斷的去尋找、去獲取一個「位置」，這種位置其實是無中生有的，但終究每個人都得有一個位置。例如兩個人結婚之後，男人取得了丈夫的位置，女人取得了妻子的位置；再來，原本沒有位置的嬰兒出生之後，就會在夫妻兩人已經慢慢發展出的相處模式中，擠出一個位置來，進而影響了夫妻原來的位置及其互動。有時候母子的關係特別親暱，而使得丈夫覺得被忽略，三人之間的感情與互動，就會跟著改變。此時，丈夫與妻子必須重新定義自己的位置，將「父親、母親」的責任加進去。

事實上，每個人終其一生，都在想盡辦法、各憑本事，尋找自己所要的位置，尋找位置不僅是無中生有，而且也是自我肯定的方式。尋求位置或取得位置可以用「定位」兩個字來詮釋，用什麼來定位自己和別人、如何定位自己和定位別人、什麼是最適合自己的定位，是每個人都必須深思的課題。

根據上文，請就下列兩問題作答：
一、文中的「位置」，為何會造成人的不自由？（20 分）
二、請以「**如何找到正確的自我定位**」為題，作文一篇，闡述自己的體驗與想法。（60 分）

乙、測驗部分：（20分）　　代號：1301
㈠本試題為單一選擇題，請選出一個正確或最適當答案。
㈡共10題，每題2分，須用2B鉛筆在試卡上依題號清楚劃記，於本試題或申論試卷上作答者，不予計分。

1 「最近小弟的店剛開張，歡迎王大哥『蒞臨寶號』，前來敘舊，以示『音容宛在』，身體康健。我們很久沒有見面，這次一定要好好『說長道短』，聊個過癮。他日得空，也希望能到『府上拜訪』。」
上文是小李寫給王大哥的簡訊，邀請他前來自己開幕的店，『　』處何者用法正確？
(A)蒞臨寶號　(B)音容宛在　(C)說長道短　(D)府上拜訪

2「冬至是古代的大日子，有不少食俗與冬至相關，如北方吃餃子，南方吃餛飩之俗。此食風起於漢代，傳說冬至天寒，戶外活動易凍傷耳朵，名醫張仲景熬煮去寒嬌耳湯，以羊肉、花椒做成耳狀麵食驅寒，遂成日後北方水餃。冬至一陽生，天地從陰中生陽，混沌初開，餛飩即由此得名，廣東人的雲吞亦借此音，但福建人把餛飩叫扁食，象徵天地之間扁扁隆起的形狀。又有傳說餛飩是西施所創，因吳王夫差胃口不佳，為其所做的小食。」
根據上文，下列敘述何者錯誤？
(A)冬至為陰行至極，陽氣始生之日，是節氣循環的關鍵
(B)由於冬至苦寒，水餃與餛飩皆為熱食，可以驅逐寒氣
(C)北方吃水餃，南方食餛飩，起於漢代，皆與西施有關
(D)餛飩在南方不同地方各有其名，皆有傳說或象徵之源

3「自然人所有之最大起飛重量二百五十公克以上之遙控無人機，及政府機關（構）、學校或法人所有之遙控無人機，應由其所有人檢附下列文件向交通部民用航空局（以下簡稱民航局）申請註冊，並於註冊完成後，將民航局賦予之註冊號碼標明於遙控無人機上顯著之處後，始得操作：一、自然人：檢附申請書及國民身分證或僑民居留證明影本。二、政府機關（構）、學校及法人：檢附申請書及其登記證明文件。」
下列何種情境合乎上述規定？
(A)阿香買來自用的無人機不到二百公克，所以就不需要註冊
(B)小花網購買自用的二百五十公克無人機，不用註冊可起飛
(C)阿德用公司名義買無人機僅二百四十九公克，就不需註冊
(D)小明幫學校購買一百公克輕型無人機，可立即在戶外試飛

4「1995 年，惠普（Hewlett-Packard）聯合創始人戴維．帕卡德（David Packard）談及一些企業領導者面臨的危險時，曾發出過這樣的警告：這些領導者在職場上做的『加法』太多，『減法』太少。直到今日，仍有太多領導者喜歡不斷做『加法』。並不是說『加法』不好，只是當領導者給員工增派任務，增加軟體、會議、規則、培訓，以及各種要求，組織會變得過於複雜，員工將不堪重負。同時，資源會太過分散，以至於工作中各方面都會受到影響。對許多企業來說，反其道而行，才是成功的關鍵。減法讓頭腦清醒，有時間專注於真正重要的事，為創造性工作奠定了基礎，留出了失敗、擔憂與討論的空間，可以去嘗試那些看似瘋狂的想法。這些想法可以改變一家企業，讓員工變得更快樂，更有效率。」
根據上文，中國先秦諸子思想，何者符合文中所述的成功關鍵？
(A)儒家　(B)道家　(C)墨家　(D)法家

5「『文明』在最初只是匿藏於人類顱骨中的一個執念，只是在說『我想知道』而已。想知道什麼？什麼都想知道。也正是在這樣的欲力驅動之下，人類發現知識、主導宗教、建立制度、辯證概念、創造文明，從而意圖以文明規範事物、解釋世界、理解世界。這些『理論』成形之後，由於人類對自己的執念與智慧之自信，理論遂成了主導一切的壓倒性力量。」
關於「文明」的敘述，下列那一個選項最接近上文旨意？
(A)就是人類對於完美世界的投射　(B)不證自明而成為壓倒性的力量
(C)由人類對顱骨蘊藏的執念形成　(D)是由許多理論所主導而建構的

6「有人在死滅的枯木裡找到生命，聽到大風呼嘯，聽到巨雷的霹靂，聽到火焰嘶嘶燃燒的聲音，聽到暴雨，聽到蟲蝕，也聽到被冰雪壓到斷裂的嘎嘎叫聲。大寒之前，最後一個節氣，總會告訴我們凝寒死滅的真正意義吧！無端想起他的詩句：『寒凝大地發春華』。一切寒凝死滅之後，才有春天的花綻放嗎？」
下列何者最接近本文意旨？
(A)時過於期，否終則泰　(B)日中則昃，月盈則食
(C)樂則行之，憂則違之　(D)觀乎天文，以察時變

7「有些演員越遠離自己的性格、環境和成長過程，反而演得越好，因此不能一概而論。不過，演員的存在感還是不能完全倚靠虛構，即使是荒誕無稽的故事，裡頭的人類也需要呼吸、飲食和行走，不可能完全切離現實來塑造其肉體、聲音和皺紋的生命史。」
根據上文，下列選項最符合文意的是：
(A)角色的性格、環境和成長過程，要越遠離演員的真實越好
(B)即使角色是虛構的，也要能夠符合現實社會的人類存在感
(C)導演要特別注意，演員在演出時呼吸、飲食和行走的樣態
(D)演員要能對劇中人物的肉體、聲音、皺紋等加以學習揣摩

8「遠大的事業，需要毅力和耐心一點一滴地累積出來。莊子筆下鯤化鵬飛的過程中，首要強調積厚之功，其後文說：『夫水之積也不厚，則其負大舟也無力……風之積也不厚，則其負大翼也無力。』行文中，『化』、『怒』(『努』)、『海運』、『積厚』等關鍵語詞，無不蘊含著鯤化鵬飛需要具備主客觀條件：海水深厚，才能畜養巨鯤；海風強勁，才能運送大鵬——這是所需的客觀條件。鯤的潛藏海底，深畜厚養，乃能『化而為鵬』，鯤的變化需要經年累月的養育之功，乃能由量變到質變——『積厚』的工夫是完成生命氣質變化的充分而必要的主觀條件。」
下列選項，何者最符合本文意旨？
(A)凡事但求盡心，功成不必在我
(B)沒有沉潛積厚之功，生命氣質無法轉變
(C)沒有付出與好運，無法成就偉大的功業
(D)人生必須不斷的努力，才能夠脫穎而出

9「臺灣因為地勢問題仰賴水庫蓄水，但河川夾帶上游泥沙，水庫底不斷產生淤泥。淤泥這種具備黏性且高含水的特質，過去除了填海造陸外，便只能作為建築物的輕質骨材，可是近年新的價值被提煉出來。臺灣陶土生產不多，便有在地業者與藝術家透過對水庫淤泥特性的研究，嘗試用這項材料取代陶土。線型經濟讓原料只從『搖籃到墳墓』，有限的地球資源不斷消耗，而製造過程則不斷有廢棄物產出，現代的循環經濟則是『搖籃到搖籃』的設計原則，廢棄物可以轉為原料，讓資源不停地循環使用。水庫淤泥透過循環經濟的概念，就可以讓這些廢棄物，藉由原有特性，重新發揮新的價值。」
下列那個選項最符合上文的要旨？
(A)水庫淤泥的特性在於具黏性且含水量低
(B)線型經濟可以讓所有的廢棄物轉為原料
(C)現代循環經濟仍處在需要扶助的搖籃期
(D)運用廢棄物的特性可以取代既有的原料

10 「『虛擬實境』與『擴增實境』已逐漸應用在各種領域中，並且相當程度地協助人類解決生活中遭遇到的諸多問題。因為『科技始終來自於人性』，科技是一種工具，所以自始至終都應該為人所用，目的是為了幫助人類改善生活。以教育領域來說，教師可以採用 VR 技術工具，帶領學生進行浸入式學習。教師也可以採用 AR 技術工具與學生互動，直接畫出圖像文字，讓學習這件事變得更為生動有趣。學生有了身歷其境的真實感受後，還是要回到現實的世界中，就感官經驗轉換成與人溝通互動的語言與文字，並且應用高層次的思考能力，深入分析探討其意義。如此才是科技工具的正用而非誤用。」

關於使用新科技在教學上，下列何者最符合上文要旨？

(A)新科技可以讓學生沉浸在更加美好的世界

(B)學生使用新科技可以享受更好的感官刺激

(C)新科技的使用仍需教師引導學生進行思考

(D)未來新科技可以取代教師來教導學生互動

測驗式試題標準答案

考試名稱：112年特種考試地方政府公務人員考試

類科名稱：環保行政、體育行政、新聞(選試英文)、資訊處理、法律廉政、觀光行政(選試觀光日語)、水土保持工程、農業行政、地政、景觀、交通行政、教育行政、原住民族行政、一般民政、法制、水利工程、環保技術、動物技術、交通技術、電子工程、環境檢驗、電力工程、林業技術、商業行政、衛生技術、農業技術、工業工程、化學工程、土木工程、養殖技術、衛生行政、都市計畫技術、一般行政、財稅行政、社會行政、人事行政、環境工程、戶政、食品衛生檢驗、經建行政、職業安全衛生、統計、財經廉政、會計、機械工程、客家事務行政、文化行政、建築工程、勞工行政、測量製圖

科目名稱：國文（作文與測驗）（試題代號：1301）

更多地特考試科目的歷屆題庫
立即上網搜尋“地特歷屆考古題懶人包”
高鋒公職補習班整理
Line@帳號：@gaofeng
連絡電話：07-236-7296

單選題數：10題　　單選每題配分：2.00分

複選題數：　　複選每題配分：

標準答案：

題號	第1題	第2題	第3題	第4題	第5題	第6題	第7題	第8題	第9題	第10題
答案	D	C	A	B	D	A	B	B	D	C

題號	第11題	第12題	第13題	第14題	第15題	第16題	第17題	第18題	第19題	第20題
答案										

題號	第21題	第22題	第23題	第24題	第25題	第26題	第27題	第28題	第29題	第30題
答案										

題號	第31題	第32題	第33題	第34題	第35題	第36題	第37題	第38題	第39題	第40題
答案										

題號	第41題	第42題	第43題	第44題	第45題	第46題	第47題	第48題	第49題	第50題
答案										

題號	第51題	第52題	第53題	第54題	第55題	第56題	第57題	第58題	第59題	第60題
答案										

題號	第61題	第62題	第63題	第64題	第65題	第66題	第67題	第68題	第69題	第70題
答案										

題號	第71題	第72題	第73題	第74題	第75題	第76題	第77題	第78題	第79題	第80題
答案										

題號	第81題	第82題	第83題	第84題	第85題	第86題	第87題	第88題	第89題	第90題
答案										

題號	第91題	第92題	第93題	第94題	第95題	第96題	第97題	第98題	第99題	第100題
答案										

備　　註：

112 年特種考試地方政府公務人員考試試題

等　　別：三等考試
類　　科：各類科（除公職社會工作師、公職獸醫師、公職建築師外）
科　　目：法學知識與英文（包括中華民國憲法、法學緒論、英文）
考試時間：1 小時　　座號：_____

※注意：㈠本試題為單一選擇題，請選出一個正確或最適當答案。
㈡共50題，每題2分，須用2B鉛筆在試卡上依題號清楚劃記，於本試題上作答者，不予計分。
㈢禁止使用電子計算器。

更多地特考試科目的歷屆題庫
立即上網搜尋“地特歷屆考古題懶人包”
高鋒公職補習班整理
Line@帳號：@gaofeng
連絡電話：07-236-7296

1 依憲法及司法院大法官相關解釋，有關行政院與立法院之關係，下列敘述何者錯誤？
(A)立法委員有向行政院院長質詢之權
(B)立法院有向行政院調閱文件之權
(C)行政院有向立法院提出施政報告且備詢之義務
(D)立法委員如認為行政院院長有違法失職，得對之提出彈劾案

2 下列何者不屬於憲法明文規定之平等？
(A)國民教育機會平等　(B)兩性實質地位平等　(C)各民族語言平等　(D)平等選舉原則

3 依據憲法增修條文及憲法訴訟法之相關規定，關於解散違憲政黨之審理程序，下列敘述何者正確？
(A)人民因憲法權利遭受特定政黨不法侵害，得向憲法法庭提出系爭政黨違憲解散之聲請
(B)違憲政黨之解散事項，應由憲法法庭審理之
(C)大法官受理政黨違憲解散之聲請後，必要時得行言詞辯論
(D)宣告政黨解散之判決，其評決應經大法官現有總額過半數之同意

4 依憲法增修條文第 10 條規定，下列何者不在憲法基本國策保障範圍內？
(A)國家獎勵中醫研究發展　(B)國家鼓勵退役軍人攻讀學位
(C)國家保障新移民之工作　(D)國家提供創業貸款促進科技產業新創及升級

5 關於憲法上人民選舉、罷免、創制、複決權之行使，下列何者沒有立法形成空間？
(A)選舉權人之積極資格　(B)被選舉人之消極資格
(C)各種選舉之婦女當選名額　(D)憲法中之各種選舉以無記名投票行之

6 依司法院大法官解釋之意旨，下列何者非屬憲法第 13 條宗教自由之保障範圍？
(A)不信仰宗教　(B)公立學校開設宗教課程
(C)組織教會　(D)定時禮拜

7 下列何者非屬總統之職權？
(A)依法任免文武官員　(B)依法行使特赦權　(C)依法提出預算案　(D)統率全國陸海空軍

8 地方法院法官於審理案件時，對於應適用之法律，依其合理之確信，認為有牴觸憲法之疑義者，得如何處理？
(A)層轉最高法院表示法律見解　(B)直接宣告該法律違憲
(C)停止訴訟程序，聲請憲法法庭判決　(D)逕自拒絕適用違憲法律

9 下列何者不是憲法本文規定之地方自治團體？
(A)省　(B)直轄市　(C)縣　(D)鄉鎮市

10 監察院對軍人提出彈劾案時，應移送何機關進行審議？
(A)國防部　(B)軍事法院　(C)行政法院　(D)懲戒法院

11 下列何者是認為「法是一些條件的統合，在這些條件下，個人的意志與其他人的意志，可依據自由的一般法則而相互結合」的哲學家？
(A)亞里斯多德（Aristoteles）　(B)霍布斯（Hobbes）
(C)康德（Kant）　(D)黑格爾（Hegel）

12 臺灣法體系在戰後繼受了許多美國法的制度與概念，下列何者屬之？
(A)懲罰性損害賠償　(B)契約自由　(C)罪刑法定　(D)慰撫金

13 關於法規的訂定及名稱，下列敘述何者錯誤？
(A)「法律」由立法院通過，得名之為「律」
(B)「法規命令」由行政機關基於法律授權而訂定，得名之為「通則」
(C)「地方自治法規」由地方立法機關通過、各該地方行政機關公布者，係「自治條例」
(D)地方立法機關得訂定「自律規則」，並報各該上級政府備查

14 關於法律解釋方法，下列敘述何者錯誤？
(A)論理解釋有時亦稱體系解釋
(B)論理解釋乃從法律條文之邏輯結構和體系，考量整體法規範之意義而做之解釋
(C)法條規定之文意若過寬，此時應採取擴充解釋之方法，使其意義出現
(D)由法條字面之意思，推論其反對結果，從而探求法文真意的解釋方法，稱為反面解釋

15 關於刑法之職務上行為受賄罪，下列敘述何者錯誤？
(A)賄賂與職務上行為之間必須有對價性
(B)本罪客體之賄賂，係指金錢或其他得以金錢計算之財物
(C)職務上行為除作為外，亦包括不作為
(D)公務員接受好友年節贈禮，即成立職務上行為受賄罪

16 下列何者不屬於公司法第 8 條規定之有限公司的公司負責人？
(A)董事 (B)經理人 (C)發起人 (D)清算人

17 關於勞動基準法第 9 條之 1 離職後競業禁止之規定，下列敘述何者錯誤？
(A)雇主有應受保護之正當營業利益，始可為競業禁止約定
(B)競業禁止之期間、區域、職業活動之範圍及就業對象，須未逾合理範疇
(C)雇主對勞工因不從事競業行為所受損失須給合理補償
(D)前述合理補償，可包括勞工於工作期間所受領之給付

18 鄉（鎮、市）民代表及鄉（鎮、市）長選舉，由下列何者辦理之？
(A)鄉（鎮、市）選舉委員會 (B)縣選舉委員會
(C)省選舉委員會 (D)中央選舉委員會

19 依民法之規定，下列何種請求權，不會因為 2 年間不行使而消滅？
(A)承租人之償還費用請求權 (B)承租人之工作物取回權
(C)買受人之交付標的物請求權 (D)承攬人之報酬請求權

20 關於性別平等工作法所規範「生理假」，下列敘述何者正確？
(A)女性受僱者每個月皆可請生理假 1 日
(B)生理假併入病假計算的部分，薪資可全額領取
(C)為避免女性受僱者濫用生理假，女性受僱者請生理假原則上應提出證明文件
(D)女性受僱者只有因生理日導致工作有困難時，才可以請生理假

21 The report has to be redone because it is totally _____ of organization and content.
(A) deployed (B) devoid (C) exclusive (D) excessive

22 Because John did not get enough exposure to sunlight, his test results showed that he was at the risk of vitamin D _____.
(A) deficiency (B) superfluity (C) degeneration (D) sufficiency

23 The manager is unlikely to _____ this proposal, for it involves huge investment without promising outcome.
(A) introspect (B) discredit (C) contravene (D) endorse

24 He didn't feel any _____ for his school days, which were nothing but exams and unreasonable expectations from parents and teachers.
(A) commencement (B) nostalgia (C) sympathy (D) reconciliation

25 He lives in the immediate _____ of the school, not only shortening the time on commuting but also sparing more time for sleep.
(A) veracity (B) velocity (C) vicinity (D) verbosity

26 Sarah has been a hard-working employee in the company, but _____ speaking, she needs more professional expertise before she can be promoted.
(A) frequently (B) previously (C) technically (D) uniquely

27 Lina is the leader of this group project; she needs to _____ and help improve her group members' work performance.
(A) boycott (B) duplicate (C) retrieve (D) supervise

28 We are often _____ of the amount of salt we consume. Hence, we should check nutrition labels to see how much sodium is in a product before purchasing it.
(A) independent (B) fond (C) deprived (D) unaware

29 According to the report, the government is to increase spending next year in a bid to stimulate domestic demand and GDP growth as exports might continue to fall due to a _____ global economy.
(A) booming (B) sluggish (C) buoyant (D) thriving

30 As commodity prices have grown _____ recently, low-income families are struggling to put food on the table.
(A) exponentially (B) numerously (C) ostensibly (D) vengefully

31 The high-tech company planned to _____ new program engineers who specialized in troubleshooting computer systems.
(A) recur (B) recollect (C) refund (D) recruit

32 The team had a great season and made it to the playoffs; _____, they were ultimately defeated in the final game.
(A) hence (B) likewise (C) accordingly (D) nevertheless

33 If you park next to the "No Parking" sign, you will get a ticket for a traffic _____.
(A)ventilation (B) version (C) victimization (D) violation

34 His _____ and outgoing personality had a positive effect on his ability to collaborate with his co-workers.
(A) extraverted (B) inflexible (C) obstinate (D) refractory

35 The lawyer’s _____ argument, with its logical reasoning and supporting evidence, convinced the jury of his client’s innocence.
(A) feeble (B) ineffective (C) persuasive (D) unconvincing

36 The new smartphone _____ a high-resolution camera that can capture great photographs even in low-light conditions.
(A) overthrows (B) abandons (C) dismantles (D) features

37 Nowadays, it is essential for salespeople to learn some problem-solving _____ to cope with difficult situations they will encounter in the workplace.
(A) facilities (B) strategies (C) reservations (D) transformations

38 The young artist was determined to _____ his skills as a musician, practicing diligently every day.
(A) lace (B) race (C) hone (D) zone

39 The newly-married couple found it hard to save money because they had to spend a large _____ of their budget on food and rent.
(A) proportion (B) proposal (C) promotion (D) progression

40 The _____ probe caused the data to be corrupted, affecting the accuracy of the experiment’s results.
(A) efficient (B) malfunctioning (C) affluent (D) outstanding

請依下文回答第 41 至第 45 題：

Wolf pack leadership has long been of great interest to many scientists. What makes a wolf decide to __41__ out on its own and assert leadership of its pack? That question has long __42__ scientists. Now, a new study shows that gray wolves infected with the parasite Toxoplasma gondii are more likely to become top dogs than uninfected wolves. The finding forces us to think more broadly about what influences how animals act, says Kira Cassidy, a __43__ biologist. Toxoplasma gondii is a single-celled parasite that infects at least one-third of the world’s human population at any given time with the disease toxoplasmosis. __44__ the infection is usually mild, it can be fatal to the young or immune-suppressed. It’s famous for its ability to __45__ its hosts, most notably in making rodents reckless around house cats. Toxoplasma can only reproduce in the intestines of domestic or wild cats, yet it is widespread in nature, and can infect any warm-blooded animal.

41 (A) strike (B) churn (C) phase (D) blurt

42 (A) laminated (B) intrigued (C) paralleled (D) traversed

43 (A) marine (B) nutritional (C) wildlife (D) forensic

44 (A) While (B) What (C) Which (D) How

45 (A) transplant (B) manipulate (C) demobilize (D) impoverish

請依下文回答第 46 至第 50 題：

Soon after ChatGPT debuted in 2022, researchers tested what the artificial intelligence (AI) chatbot would write after it was asked questions peppered with conspiracy theories and false narratives. The results — in writings formatted as news articles, essays and television scripts — were so troubling that the researchers minced no words in their criticism of the new technology. Researchers predict that generative technology like ChatGPT could make disinformation cheaper and easier to produce for an even larger number of conspiracy theorists and spreaders of disinformation. Personalized, real-time chatbots could share conspiracy theories in increasingly credible and persuasive ways, researchers say, smoothing out human errors like poor syntax and mistranslations and advancing beyond easily discoverable copy-paste jobs. And they say that no available mitigation tactics can effectively combat it.

Predecessors to ChatGPT, which was created by the company OpenAI, have been used for years to pepper online forums and social media platforms with comments and spam. Microsoft had to halt activity from its Tay chatbot within 24 hours of introducing it on Twitter in 2016 after trolls taught it to spew racist and xenophobic language. ChatGPT is far more powerful and sophisticated. Supplied with questions loaded with disinformation, it can produce convincing, clean variations on the content within seconds, without disclosing its sources. Recently, Microsoft and OpenAI introduced a new Bing search engine and web browser that can use chatbot technology to plan vacations, translate texts or conduct research.

OpenAI researchers have long been nervous about chatbots falling into villainous hands. In a 2019 paper, they voiced their concern about their chatbot’s capabilities to lower costs of disinformation campaigns and aid in the malicious pursuit of monetary gains, particular political agendas, and/or desires to create chaos or confusion. OpenAI uses machines and humans to monitor content that is fed into and produced by ChatGPT. The company relies on both its human AI trainers and feedback from users to identify and filter out toxic training data while teaching ChatGPT to produce better-informed responses. OpenAI’s policies prohibit use of its technology to promote dishonesty, deceive or manipulate users or attempt to influence politics; the company offers a free moderation tool to handle content that promotes hate, self-harm, violence or sex.

46 What is the main idea of this passage?
(A) ChatGPT should not be used by conspiracy theorists and fake news spreaders.
(B) ChatGPT developers believe their chatbot can help users discern misinformation.
(C) Newly developed chatbots like ChatGPT can produce well-formatted news articles.
(D) Misinformation is a serious problem with ChatGPT, which is hard to solve.

47 Which of the following statements is true about the Tay chatbot?
(A) It was removed from shelves on the first day in the market.
(B) It was an advanced chatbot developed by OpenAI.
(C) Microsoft debuted it in 2016 to compete with ChatGPT.
(D) It was a failure because it was slow in learning new content.

48 According to the passage, what could be the best use of ChatGPT?
(A) Screening out sensitive content that promotes hate, self-harm, violence or sex.
(B) Designing travel itineraries, designing studies, or writing TV scripts instantly.
(C) Recognizing malicious software and political materials when processing input data.
(D) Lowering costs of disinformation campaigns for politicians.

49 According to the passage, which of the following is NOT done by ChatGPT designers in order to reduce disinformation?
(A) Warning users that ChatGPT may sometimes respond with biased answers.
(B) Using humans and algorithms to check improper content generated by ChatGPT.
(C) Avoiding grammatical errors and wrong translations in the produced texts.
(D) Hiring human AI trainers to remove bad training materials from the database.

50 Which of the following best describes the purpose of this passage?
(A) To promote the use of ChatGPT as a new search engine.
(B) To explain how ChatGPT was developed by misinformation researchers.
(C) To raise alarms about newly developed AI chatbots like ChatGPT.
(D) To reduce readers’ worries about intelligent AI chatbots like ChatGPT.

測驗式試題標準答案

考試名稱：112年特種考試地方政府公務人員考試

類科名稱：會計、化學工程、勞工行政、工業工程、一般行政、經建行政、文化行政、資訊處理、新聞(選試英文)、建築工程、環境工程、測量製圖、社會行政、一般民政、商業行政、農業技術、法律廉政、客家事務行政、環保行政、水利工程、統計、水土保持工程、農業行政、觀光行政(選試觀光日語)、人事行政、食品衛生檢驗、財經廉政、地政、都市計畫技術、景觀、養殖技術、環境檢驗、交通技術、職業安全衛生、衛生技術、林業技術、財稅行政、法制、衛生行政、機械工程、體育行政、電子工程、電力工程、環保技術、戶政、教育行政、原住民族行政、土木工程、動物技術、交通行政

科目名稱：法學知識與英文（包括中華民國憲法、法學緒論、英文）（試題代號：2301）

更多地特考試科目的歷屆題庫
立即上網搜尋“地特歷屆考古題懶人包”
高鋒公職補習班整理
Line@帳號：@gaofeng
連絡電話：07-236-7296

單選題數：50題　　單選每題配分：2.00分

複選題數：　　複選每題配分：

標準答案：

題號	第1題	第2題	第3題	第4題	第5題	第6題	第7題	第8題	第9題	第10題
答案	D	C	B	C	D	B	C	C	D	D

題號	第11題	第12題	第13題	第14題	第15題	第16題	第17題	第18題	第19題	第20題
答案	C	A	B	C	D	C	D	B	C	D

題號	第21題	第22題	第23題	第24題	第25題	第26題	第27題	第28題	第29題	第30題
答案	B	A	D	B	C	C	D	D	B	A

題號	第31題	第32題	第33題	第34題	第35題	第36題	第37題	第38題	第39題	第40題
答案	D	D	D	A	C	D	B	C	A	B

題號	第41題	第42題	第43題	第44題	第45題	第46題	第47題	第48題	第49題	第50題
答案	A	B	C	A	B	D	A	B	C	C

題號	第51題	第52題	第53題	第54題	第55題	第56題	第57題	第58題	第59題	第60題
答案										

題號	第61題	第62題	第63題	第64題	第65題	第66題	第67題	第68題	第69題	第70題
答案										

題號	第71題	第72題	第73題	第74題	第75題	第76題	第77題	第78題	第79題	第80題
答案										

題號	第81題	第82題	第83題	第84題	第85題	第86題	第87題	第88題	第89題	第90題
答案										

題號	第91題	第92題	第93題	第94題	第95題	第96題	第97題	第98題	第99題	第100題
答案										

備　　註：

代號：31370
31670
32070
頁次：4－1

112 年特種考試地方政府公務人員考試試題

等　　別：三等考試
類　　科：財稅行政、法制、商業行政
科　　目：民法
考試時間：2 小時　　座號：＿＿＿＿＿＿

※注意：禁止使用電子計算器。

更多地特考試科目的歷屆題庫
立即上網搜尋“地特歷屆考古題懶人包”
高鋒公職補習班整理
Line@帳號：@gaofeng
連絡電話：07-236-7296

甲、申論題部分：（50分）
㈠不必抄題，作答時請將試題題號及答案依照順序寫在申論試卷上，於本試題上作答者，不予計分。
㈡請以藍、黑色鋼筆或原子筆在申論試卷上作答。
㈢本科目除專門名詞或數理公式外，應使用本國文字作答。

一、甲將其 A 地出租於乙並完成現實交付，供乙在 A 地上種植果樹及採收果實販售；甲復將 A 地設定普通抵押權於丙，供其向丙借款新臺幣（下同）300 萬元本金、利息及違約金之擔保；甲再將 A 地出典於丁，取得 200 萬元之典價。試問：
㈠何人得收取天然孳息？何人得收取法定孳息？（15 分）
㈡乙得否將 A 地轉租於戊？丁得否將 A 地轉典於庚？（10 分）

二、甲男與乙女經丙婚姻介紹所之媒介而結婚，約定甲、乙應各給付丙報酬新臺幣（下同）10 萬元。乙為丁之獨生女，因丁喪偶多年未再婚，爰搬來與甲、乙共同生活。婚後甲、乙為共同創業，由乙向丁借款 100 萬元，並由乙提供其 A 地設定普通抵押權於丁以資擔保。試問：
㈠丙得否請求甲、乙給付媒介婚姻之報酬？（10 分）
㈡丁死亡時，遺有一宗價值 300 萬元之 B 地，其遺產應如何繼承？（15 分）

乙、測驗題部分：（50分）　　代號：7313
㈠本試題為單一選擇題，請選出一個正確或最適當答案。
㈡共25題，每題2分，須用2B鉛筆在試卡上依題號清楚劃記，於本試題或申論試卷上作答者，不予計分。

1 下列何者非屬效力未定之法律行為？
(A)自己代理　(B)無權處分　(C)善意受讓　(D)無權代理

2 下列關於法人之敘述，何者錯誤？
(A)私立大學為財團法人　(B)財團法人為公益法人
(C)財團法人得由一人單獨捐助成立　(D)國立大學為公法人

3 下列關於代理人與代表之敘述，何者錯誤？
(A)代理人與本人，係屬二個權利主體間之關係；代表與法人，係屬一個權利主體間之關係
(B)代理人以本人名義所為意思表示，其效果歸屬於本人；代表是法人機關，代表人所為行為，即法人行為，並無效力之歸屬問題
(C)代理人與代表均得為法律行為與事實行為
(D)代理相關規定，得類推適用於代表

4 甲向乙購車一輛，價款未付，15 年後，甲在知情下仍與乙約定，承認該未付款之債務。該承認之性質為何？
(A)意思表示　(B)意思通知　(C)觀念通知　(D)感情表示

5 甲係一明星，擔心狗仔跟拍，入住旅館時，冒用友人名字李四登記住房。下列敘述何者正確？
(A)甲未經李四授權，與旅館簽約係屬無權代理
(B)旅館對於入住房客發生當事人同一性錯誤
(C)旅館對於入住房客為甲並無誤認，亦有與甲訂約之意
(D)甲與旅館之間為通謀虛偽意思表示

6 甲將其對乙之債權讓與於丙時，應具備下列何者要件，始得對乙發生效力？
(A)甲、乙、丙三人之書面合意
(B)甲、乙、丙三人之口頭合意
(C)甲、丙達成合意，並應由甲與丙共同通知乙
(D)甲、丙達成合意，並應由甲或丙通知乙

7 下列關於代理權消滅之敘述，何者正確？
(A)代理人不得拋棄其代理權
(B)代理人死亡，代理權得為繼承之標的
(C)代理人喪失行為能力時，代理權消滅
(D)受僱人被解僱時，其代理權仍不消滅

8 當事人間無特別約定時，下列何種情形得互相主張同時履行抗辯權？
(A)委任人償還費用之義務與受任人處理委任事務之義務
(B)清償人之給付與受領清償人之受領證書之給與
(C)承攬人交付完成物之義務與定作人給付報酬之義務
(D)承攬人返還定作物剩餘材料之義務與定作人給付報酬之義務

9 甲建設公司與乙營造廠訂立承攬契約，委託乙興建大樓；乙之受僱人丙於搭鷹架時，因過失掉落榔頭，致路人丁受傷。下列敘述何者正確？
(A)甲無須為丙之行為，對丁負損害賠償責任
(B)乙無須為丙之行為，對丁負損害賠償責任
(C)甲與乙均無須為丙之行為負損害賠償責任
(D)甲與乙對丙之行為應連帶負損害賠償責任

10 甲將其所有土地出租於乙種植作物，約定由甲於每年 6 月 30 日赴乙處受領所收成作物之一定數量作為租金。乙於締約第 2 年之 6 月 28 日備妥約定給付之作物後，甲並未於約定期日赴乙處受領。乙礙於該批作物數量不貲且易腐壞，乃於 7 月 2 日僱用車輛載運該批作物赴甲處欲為給付，卻遭甲拒絕受領，乙乃將同批貨物出售並提存價款於法院。下列敘述何者錯誤？
(A)乙得請求甲給付僱用車輛載運該批作物之費用
(B)乙未直接給付出售作物之價金於甲，不生清償效力
(C)乙已提出給付，之後對該提出給付之保管，僅於其有故意或重大過失時，始負責任
(D)甲未赴乙處收租，構成受領遲延，不得以乙欠租終止租約

11 甲為追求乙，允諾將名下之 A 屋贈與乙，但未經公證。下列敘述何者錯誤？
(A)甲將 A 屋之所有權移轉登記於乙前，甲得隨時撤銷贈與契約，乙不得請求甲辦理移轉登記
(B)甲將 A 屋之所有權移轉登記於乙，乙入住後發現 A 屋之窗戶有瑕疵，每逢下雨天必滲水。若甲事前不知該瑕疵之存在，亦未保證 A 屋無瑕疵，乙不得請求甲負責修繕
(C)甲將 A 屋之所有權移轉登記於乙前，與乙大吵一架，憤而燒毀 A 屋。但因贈與契約為無償契約，且該契約未經公證，故甲無須對乙負損害賠償責任
(D)甲之配偶丙得知甲將 A 屋贈與乙後，心有不甘而辱罵乙。乙不甘受辱，故意開車撞傷丙。甲得於知悉該情事 1 年內，撤銷贈與契約

12 甲向乙借貸周轉新臺幣（下同）1,000 萬元，約定週年利率百分之三十，一年後償還本息。甲央請好友丙擔任甲對乙之借款債務之連帶保證人，丙並同意拋棄其先訴抗辯權。俟清償期屆至，甲無力償還本息，雖甲對乙有另一筆已屆清償期之貨款債權 1,100 萬元，但甲拋棄互為抵銷之抗辯，乙旋訴請丙連帶償還借款本息。下列敘述何者正確？
(A)乙得訴請丙連帶償還 1,200 萬元
(B)當乙訴請丙連帶償還借款本息時，丙得以甲對乙之貨款債權主張抵銷，抵銷後丙僅須償還乙 60 萬元
(C)丙得主張約定利率超過週年利率百分之十六者，乙對於超過部分之利息無請求權
(D)當乙訴請丙連帶償還借款本息時，因甲已拋棄其抵銷抗辯，丙無從以甲對乙之貨款債權主張抵銷，故丙應償還乙 1,160 萬元

13 下列關於保證補充性之敘述，何者錯誤？
(A)保證為從債務，債權人原則上應先向主債務人請求清償，且須經執行而無效果，始得請求保證人清償
(B)保證人得拋棄先訴抗辯權，該拋棄為有相對人之單獨行為，應向債權人為之
(C)保證人拋棄先訴抗辯權者，須於債權人同意後，始生效力
(D)主債務人受破產宣告，保證人不得主張先訴抗辯權

14 下列何者非屬權利之原始取得？
(A)無主物先占　(B)法院拍賣
(C)動產所有權之時效取得　(D)土地徵收

15 下列關於遺產分割之敘述，何者錯誤？
(A)繼承人有數人時，在分割遺產前，各繼承人對於遺產全部為公同共有
(B)繼承人得隨時請求分割遺產。但法律另有規定或契約另有訂定者，不在此限
(C)各繼承人對於繼承之公同共有不動產之分割請求權，性質上為具有一身專屬權利
(D)分割遺產之行為，因其發生權利之變動，其係屬處分行為之一種

16 甲向乙銀行貸款新臺幣 1,000 萬元，雙方約定甲應以其所有之 A 屋為乙銀行設定普通抵押權。關於雙方就 A 屋設定普通抵押權之約定，下列敘述何者正確？
(A)債權契約　(B)物權契約　(C)準物權契約　(D)準處分行為

17 甲所有之 A 土地，由乙在其上建有 B 屋一棟。下列敘述何者正確？
(A)倘若乙係於甲將 A 土地設定普通抵押權於丙前，基於地上權而在甲所有之 A 土地上建築 B 屋，嗣乙將 B 屋出售給丁並辦理移轉登記，丙得對 B 屋主張併付拍賣
(B)倘若乙係於甲將 A 土地設定普通抵押權於丙後，基於地上權而在甲所有之 A 土地上建築 B 屋，嗣乙將 B 屋出售給丁並辦理移轉登記，丙不得對 B 屋主張併付拍賣
(C)倘若乙係於甲將 A 土地設定普通抵押權於丙後，基於地上權而在甲所有之 A 土地上建築 B 屋，嗣乙將 B 屋出售給甲並辦理移轉登記，丙得對 B 屋主張併付拍賣
(D)倘若乙係於甲將 A 土地設定普通抵押權於丙前，無權在甲所有之 A 土地上建築 B 屋，嗣乙將 B 屋出售給丁並辦理移轉登記，丙得對 B 屋主張併付拍賣

18 下列關於不動產役權特性之敘述，何者錯誤？
(A)不動產役權不得由需役不動產分離而為讓與，此為不動產役權從屬性之表現
(B)不動產役權不得由供役不動產分離而為其他權利之標的物，此為不動產役權從屬性之表現
(C)需役不動產經分割者，原則上不動產役權為各部分之利益仍為存續，此為不動產役權不可分性之表現
(D)供役不動產經分割者，原則上不動產役權就其各部分仍為存續，此為不動產役權不可分性之表現

19 抵押權人於債權已屆清償期，而未受清償者，得實行抵押權。下列何者不屬抵押權之實行方法？
(A)法院拍賣
(B)流押契約之執行
(C)拍賣以外之方法
(D)行使抵押權之必要保全處分

20 甲、乙、丙為三兄弟，甲與丁結婚，丙與戊結婚，乙未婚但認領庚。己為戊之妹。下列關於親屬關係之敘述，何者錯誤？
(A)丁庚間無親屬關係
(B)庚戊間為姻親關係
(C)己庚間無親屬關係
(D)丁戊間為姻親關係

21 甲男乙女為夫妻，因乙女與丁男通姦，甲、乙乃於民國（下同）105 年 3 月 1 日辦妥協議離婚登記。105 年 4 月 1 日乙女與丙男辦理結婚登記。同年 12 月 1 日乙女生下一子戊。事實上，戊之生父為丁。下列敘述何者錯誤？
(A)戊可推定為甲男之子
(B)戊可推定為丙男之子
(C)丁得認領戊
(D)戊可同時推定為甲男、丙男之子

22 甲男乙女為夫妻，有一子丙。丙已成年，未婚無子。甲之母丁尚生存。若甲、丙同時死亡，下列關於丙之遺產繼承之敘述，何者正確？
(A)乙繼承甲遺產三分之二、丁繼承甲遺產三分之一；乙繼承丙遺產全部
(B)甲、乙共同繼承丙之遺產，然後再由乙單獨繼承甲之全部遺產
(C)乙繼承甲遺產二分之一、丁繼承甲遺產二分之一；乙繼承丙遺產三分之二、丁繼承丙遺產三分之一
(D)乙繼承甲遺產二分之一、丁繼承甲遺產二分之一；乙繼承丙遺產全部

23 密封遺囑為要式行為，若不具備法定方式，其效力如何？
(A)遺囑效力未定，得隨時拒絕承認
(B)須經遺囑人的承認後，並經公證，始發生效力
(C)經法院認可後，得為有效
(D)密封遺囑雖然無效，然若具備自書遺囑之方式者，有自書遺囑之效力

24 甲為乙之父。關於甲乙之扶養關係，下列敘述何者正確？
(A)乙成年後，甲因負擔對乙之扶養義務而不能維持自己生活者，得減輕其義務
(B)乙成年後，對甲不予扶養，即當然喪失對甲之繼承權
(C)乙未成年時，不服甲之管教，對甲故意為重大侮辱，甲不得請求減輕對乙之扶養義務
(D)乙未成年時，甲未盡扶養義務，因扶養請求權各自獨立，甲當然得請求成年後之乙為扶養，乙不得拒絕

25 甲中年喪偶，僅有一子 A。今甲死亡，留有未清償之債務數筆，以及土地、存款等財產。A 有依法開具遺產清冊，陳報法院。有關甲遺產之繼承，下列敘述何者錯誤？
(A) A 依法陳報法院時，法院應依公示催告程序公告，命甲之債權人於一定期限內報明其債權
(B) A 在法院公示催告甲之債權人報明債權所定一定期限內，得對於甲之受遺贈人交付遺贈
(C)甲之債權人，如不於法院公示催告所定之一定期限內報明其債權，而又為 A 所不知者，僅得就賸餘遺產，行使其權利
(D)在法院公示催告甲之債權人報明債權所定一定期限屆滿後，A 對於在該一定期限內報明之債權及 A 所已知之債權，均應按其數額，比例計算，以遺產分別償還。但不得害及有優先權人之利益

測驗式試題標準答案

考試名稱：112年特種考試地方政府公務人員考試

類科名稱：法制、財稅行政、商業行政

科目名稱：民法（試題代號：7313）

更多地特考試科目的歷屆題庫
立即上網搜尋“地特歷屆考古題懶人包”
高鋒公職補習班整理
Line@帳號：@gaofeng
連絡電話：07-236-7296

單選題數：25題　　單選每題配分：2.00分

複選題數：　　複選每題配分：

標準答案：

題號	第1題	第2題	第3題	第4題	第5題	第6題	第7題	第8題	第9題	第10題
答案	C	D	C	A	C	D	C	B	A	B

題號	第11題	第12題	第13題	第14題	第15題	第16題	第17題	第18題	第19題	第20題
答案	C	B	C	B	C	A	C	B	D	A

題號	第21題	第22題	第23題	第24題	第25題	第26題	第27題	第28題	第29題	第30題
答案	C	D	D	C	B					

題號	第31題	第32題	第33題	第34題	第35題	第36題	第37題	第38題	第39題	第40題
答案										

題號	第41題	第42題	第43題	第44題	第45題	第46題	第47題	第48題	第49題	第50題
答案										

題號	第51題	第52題	第53題	第54題	第55題	第56題	第57題	第58題	第59題	第60題
答案										

題號	第61題	第62題	第63題	第64題	第65題	第66題	第67題	第68題	第69題	第70題
答案										

題號	第71題	第72題	第73題	第74題	第75題	第76題	第77題	第78題	第79題	第80題
答案										

題號	第81題	第82題	第83題	第84題	第85題	第86題	第87題	第88題	第89題	第90題
答案										

題號	第91題	第92題	第93題	第94題	第95題	第96題	第97題	第98題	第99題	第100題
答案										

備　　註：

代號：30760、31360
31560、31960
32060
頁次：4－1

112 年特種考試地方政府公務人員考試試題

等　　別：三等考試
類　　科：勞工行政、財稅行政、統計、經建行政、商業行政
科　　目：經濟學
考試時間：2 小時　　座號：＿＿＿＿＿＿

更多地特考試科目的歷屆題庫
立即上網搜尋“地特歷屆考古題懶人包”
高鋒公職補習班整理
Line@帳號：@gaofeng
連絡電話：07-236-7296

※注意：禁止使用電子計算器。

甲、申論題部分：（50分）

㈠不必抄題，作答時請將試題題號及答案依照順序寫在申論試卷上，於本試題上作答者，不予計分。
㈡請以藍、黑色鋼筆或原子筆在申論試卷上作答。
㈢本科目除專門名詞或數理公式外，應使用本國文字作答。

一、就資訊不對稱產生的問題而言，全民健保有何優缺點？可採那些政策以防止其弊端？（10 分）

二、何謂負面生產外部性？何謂正面生產外部性？各會導致什麼結果？試各舉一例並繪圖說明之。面對此兩種情況，政府可各採何種政策工具匡正之？（15 分）

三、梭羅（Solow）成長模型的絕對收斂（absolute convergence）與條件收斂（conditional convergence）現象，所指為何？模型中什麼樣的機制產生此現象？提高人口成長率和提高儲蓄率各會有何影響？長期經濟能不能成長？為什麼？（25 分）

乙、測驗題部分：（50分）　　代號：6307

㈠本試題為單一選擇題，請選出一個正確或最適當答案。
㈡共25題，每題2分，須用2B鉛筆在試卡上依題號清楚劃記，於本試題或申論試卷上作答者，不予計分。

1 假設 A 國只生產汽車與電腦兩種產品，在不能與其他國家進行貿易的情況下，如果 100 萬部汽車與 2,000 萬部電腦正好落在 A 國的生產可能線上，則 A 國不可能生產下列那一個商品組合？
(A) 80 萬部汽車與 1,600 萬部電腦　(B) 80 萬部汽車與 2,000 萬部電腦
(C) 100 萬部汽車與 1,600 萬部電腦　(D) 120 萬部汽車與 2,000 萬部電腦

2 若財貨 X 的需求函數為 $Q = 100 + aP + b\tilde{P} + cI + dN$，其中 Q 與 P 分別是財貨 X 的市場需求量與市場價格，$\tilde{P}$ 是另一財貨 Y 的市場價格，I 表示所得，N 表示財貨 X 的消費人數。若已知財貨 X 是正常財貨，與財貨 Y 互為替代品，則下列敘述何者正確？
(A) $a>0$，$b>0$，$c>0$，$d<0$　(B) $a<0$，$b<0$，$c<0$，$d>0$
(C) $a<0$，$b>0$，$c>0$，$d>0$　(D) $a>0$，$b<0$，$c>0$，$d>0$

3 假設政府對於某商品的買方課徵每單位 1 元的稅，則下列敘述何者錯誤？
(A)若課稅的對象變為該商品的賣方，所造成的影響相同
(B)在課稅後，買方價格高於賣方價格，故市場會有超額供給
(C)與未課稅時的市場均衡相較下，課稅後市場均衡數量可能下降
(D)若供給有彈性，需求無彈性，則稅主要由買方負擔

4 當咖啡及茶所提供的咖啡因相同時，小丁對消費此兩種財貨的滿足程度就相同。假設一杯咖啡所提供的咖啡因為一杯茶的 2 倍。以茶的數量為縱軸，咖啡的數量為橫軸。下列何者為小丁的無異曲線？

(A)斜率為-2 的直線　(B)斜率為-1/2 的直線

(C)水平線　(D) L 型的曲線

5 一位消費者的消費組合中包含 A 和 B 兩種商品。假設該消費者收入並未改變，面對商品 A 的價格上升，下列敘述何者正確？

(A)由於消費者收入並未改變，不會形成所得效果

(B)如果商品 A 是正常財，所得效果和替代效果對於商品 A 的消費量會有同向的影響

(C)如果商品 B 是劣等財，所得效果和替代效果對於商品 B 的消費量會有反向的影響

(D)假設現在商品 B 的價格同時下降，則其會放大商品 A 價格上升所帶來的所得效果

6 有關廠商的生產與成本，下列敘述何者錯誤？

(A)當邊際產量高於平均產量，平均產量遞增

(B)當邊際成本高於平均成本，平均成本遞減

(C)當邊際產量上升時，邊際成本下降

(D)邊際成本線會通過平均變動成本線的最低點

7 假設商品 A 市場目前由一廠商獨占供給，但存在另一潛在進入廠商。對此情勢，下列敘述何者正確？

(A)消費者會希望潛在廠商不要進入市場，延續獨占的市場局面

(B)消費者會希望潛在廠商進入市場，兩家廠商並形成「卡特爾（cartel）」聯盟，一同決定產量與價格

(C)消費者會希望潛在廠商進入市場，兩家廠商形成 Cournot 模型中的競爭模式

(D)消費者會希望潛在廠商進入市場，兩家廠商形成 Stackelberg 模型中的競爭模式

8 X 和 Y 兩間競爭公司，有生產 A 商品或 B 商品兩種生產策略。X 和 Y 兩間公司同時決策所對應的利潤如下圖（括弧中數字，左項為 X 公司的利潤，右項為 Y 公司的利潤），則下列有關此賽局的 Nash 均衡何者正確？

		Y 公司的策略	
		A	B
X 公司的策略	A	(60,45)	(65,50)
	B	(45,60)	(75,90)

(A) X 和 Y 都生產 A 商品　(B) X 和 Y 都生產 B 商品

(C) X 生產 A 商品、Y 生產 B 商品　(D) X 生產 B 商品、Y 生產 A 商品

9 假設最低工資高於市場均衡工資，如果政府調升最低工資，則：
(A)勞動供給量上升 (B)勞動需求量上升
(C)社會福利一定上升 (D)勞動需求量大於勞動供給量

10 假設稻米生產必須用到土地、資本與勞動，有一位農民租一塊地，投入資本後發現每多僱一位勞工，平均變動成本會下降。因此，該農民稻米生產的：
(A)勞動需求下降 (B)勞動邊際產出下降 (C)勞動邊際產值下降 (D)邊際成本下降

11 下列何種情況發生時，市場經濟未必能使經濟狀態滿足柏拉圖效率（Pareto efficiency）？①寡占 ②私有財 ③污染
(A)③ (B)①② (C)①③ (D)①②③

12 公共財的性質包含下列何者？
(A)可共享性、可排他性 (B)可共享性、不可排他性
(C)不可共享性、可排他性 (D)不可共享性、不可排他性

13 下列何種情況，與「循環性失業」有關？
(A)金融海嘯期間銀行大幅裁員
(B)工廠生產自動化，故減少僱用勞工
(C)我國加入世界貿易組織後，本國農民失業大增
(D)我國目前高學歷者失業率高，而工廠作業員等薪資較低職務卻乏人問津

14 在繪製等產量線（isoquant）的平面上，X 座標與 Y 座標分別應該放置何種變數？
(A)商品數量、商品價格 (B)產品 A、產品 B
(C)生產要素 1、生產要素 2 (D)生產要素、產量

15 關於梭羅（Solow）成長模型，下列敘述何者正確？
(A)為內生成長模型
(B)認為人力資本的累積為成長的動力
(C)其均衡條件又稱為「剃刀邊緣（Knife-edge）」
(D)假設技術進步為外生

16 臺灣的 A 食品公司於越南開設新工廠，利用當地原料生產鳳梨酥並銷售至歐洲各國，則此一經濟活動對於臺灣與越南的國內生產毛額有何影響？
(A)臺灣的國內生產毛額上升、越南的國內生產毛額上升
(B)臺灣的國內生產毛額下降、越南的國內生產毛額上升
(C)臺灣的國內生產毛額不變、越南的國內生產毛額上升
(D)臺灣的國內生產毛額上升、越南的國內生產毛額不變

17 假設其他條件不變且政府的財政政策有效。根據 IS-LM 模型，當政府減少投資支出且一般物價下跌時，下列敘述何者正確？
(A)均衡所得會增加 (B)均衡所得會減少
(C)均衡利率會上升 (D)均衡利率會下降

18 假設國外所得淨額及經常性移轉淨額都為零，下列敘述何者正確？①貿易順差的存在代表本國總儲蓄一定大於總投資　②貿易逆差代表政府預算一定有赤字

(A)①　(B)②　(C)①②　(D)①②皆不正確

19 在凱因斯學派觀點下，有關總合需求－總合供給（AD-AS）模型的敘述，下列何者正確？

(A)負向的供給面衝擊使 AS 曲線向右移動，短期造成物價下跌、產出增加

(B)面對負向的供給面衝擊，政府若以緊縮性的需求管理政策因應，短期物價將上漲得更高，而產出也減少更多

(C)面對負向的供給面衝擊，政府若以擴張性的需求管理政策因應，短期產出可以增加而回到原水準，但物價水準上升更多

(D)面對負向的需求面衝擊，政府若以擴張性的供給面政策因應，短期產出和物價均可以回復到原水準

20 根據李嘉圖均等定理（Ricardian equivalence theorem），政府減稅但未削減政府支出，則下列敘述何者正確？

(A)政府儲蓄減少，民間儲蓄減少　(B)政府儲蓄減少，民間儲蓄增加

(C)政府儲蓄增加，民間儲蓄增加　(D)政府儲蓄增加，民間儲蓄減少

21 假設實質利率對儲蓄的替代效果大於其所得效果，則實質利率的上升對於放款者（lenders）的消費與儲蓄之影響為何？

(A)消費上升、儲蓄上升　(B)消費下降、儲蓄上升

(C)消費上升、儲蓄下降　(D)消費下降、儲蓄下降

22 有關貨幣的功能，下列敘述何者正確？①現代社會「一手交錢，一手交貨」的交易方式讓貨幣扮演交易媒介功能　②看到一罐可口可樂售價為 15 元，我們知道貨幣具有計價單位功能　③將部分年終獎金購買飯店自助餐優惠券日後享用，因此貨幣不能作為價值儲藏工具

(A)①　(B)②　(C)①②　(D)①②③

23 根據交易方程式（equation of exchange），假設貨幣交易流通速度（transaction velocity of circulation of money）固定，當貨幣數量成為原來的 2 倍時，下列敘述何者正確？

(A)物價必定成為原來的 2 倍　(B)實質產出必定成為原來的 2 倍

(C)物價與實質產出的乘積不變　(D)物價與實質總交易量的乘積變成原來的 2 倍

24 下列何者為景氣循環中逆循環的經濟變數？

(A)投資支出　(B)消費支出　(C)失業率　(D)通貨膨脹率

25 在實質景氣循環模型中，政府採擴張性財政政策，當勞動跨期替代彈性大小不同時，下列敘述何者正確？

(A)當勞動跨期替代彈性大時，物價會上升　(B)當勞動跨期替代彈性大時，利率會下跌

(C)當勞動跨期替代彈性小時，物價會上升　(D)當勞動跨期替代彈性小時，利率會下跌

測驗式試題標準答案

考試名稱：112年特種考試地方政府公務人員考試

類科名稱：經建行政、統計、財稅行政、勞工行政、商業行政

科目名稱：經濟學（試題代號：6307）

更多地特考試科目的歷屆題庫
立即上網搜尋“地特歷屆考古題懶人包”
高鋒公職補習班整理
Line@帳號：@gaofeng
連絡電話：07-236-7296

單選題數：25題　　單選每題配分：2.00分

複選題數：　　複選每題配分：

標準答案：

題號	第1題	第2題	第3題	第4題	第5題	第6題	第7題	第8題	第9題	第10題
答案	D	C	B	A	B	B	D	B	A	D

題號	第11題	第12題	第13題	第14題	第15題	第16題	第17題	第18題	第19題	第20題
答案	C	B	A	C	D	C	D	A	C	B

題號	第21題	第22題	第23題	第24題	第25題	第26題	第27題	第28題	第29題	第30題
答案	B	C	D	C	C					

題號	第31題	第32題	第33題	第34題	第35題	第36題	第37題	第38題	第39題	第40題
答案										

題號	第41題	第42題	第43題	第44題	第45題	第46題	第47題	第48題	第49題	第50題
答案										

題號	第51題	第52題	第53題	第54題	第55題	第56題	第57題	第58題	第59題	第60題
答案										

題號	第61題	第62題	第63題	第64題	第65題	第66題	第67題	第68題	第69題	第70題
答案										

題號	第71題	第72題	第73題	第74題	第75題	第76題	第77題	第78題	第79題	第80題
答案										

題號	第81題	第82題	第83題	第84題	第85題	第86題	第87題	第88題	第89題	第90題
答案										

題號	第91題	第92題	第93題	第94題	第95題	第96題	第97題	第98題	第99題	第100題
答案										

備　　註：

112 年特種考試地方政府公務人員考試試題

代號：31330
頁次：6-1

等　　別：三等考試
類　　科：財稅行政
科　　目：會計學
考試時間：2 小時

更多地特考試科目的歷屆題庫
立即上網搜尋“地特歷屆考古題懶人包”
高鋒公職補習班整理
Line@帳號：@gaofeng
連絡電話：07-236-7296

座號：_____

※注意：可以使用電子計算器。

甲、申論題部分：（50分）

㈠不必抄題，作答時請將試題題號及答案依照順序寫在申論試卷上，於本試題上作答者，不予計分。
㈡請以藍、黑色鋼筆或原子筆在申論試卷上作答。
㈢本科目除專門名詞或數理公式外，應使用本國文字作答。

一、甲公司 X3 年相關資料：

(a) X3 年 1 月 1 日有 100,000 股普通股流通在外。X3 年 4 月 1 日發放 20%普通股股票股利。

(b) X3 年稅後淨利$2,000,000。當年度所得稅率 25%，無宣告股利。

(c) X3 年 7 月 1 日甲公司辦理現金增資 20,000 股，每股認購價格為$10。當日甲公司增資前流通在外普通股股數為 120,000 股，除權前一日收盤價為$45。

(d) X3 年 1 月 1 日以每股$15 發行面額$100,000，票面利率 5%之可賣回、非累積且不可轉換之特別股 100 股，於 X3 年底仍全數在外流通。

(e) X3 年 1 月 1 日平價發行 10%之可轉換累積參加特別股 80,000 股，面額$100。每股特別股可轉換為 1 股普通股。該特別股全年在外流通，全年無轉換。該特別股發行章程規定，除 10%股利率外，特別股可與普通股再依 1:2 比例分配額外之股利，且亦可累積。

(f) 可轉換公司債面額$400,000，票面利率 6%，每$100,000 可轉換為普通股 2,000 股。發行時可轉換公司債負債組成部分有關之原始有效利率為 8%。X3 年初該應付公司債帳面金額為$380,000。X3 年 9 月 1 日有四分之一可轉換公司債轉換為 2,000 股普通股，其餘債券至 X3 年底仍在外流通。

(g) X3 年 1 月 1 日給予公司高階主管認股證，可以每股$20 認購公司普通股 100,000 股，給予日立即既得。當年 10 月 1 日已認購 50,000 股，其餘單位至 X3 年底尚未執行。甲公司 X3 年 1 月 1 日至 10 月 1 日平均股價為$40，1 月 1 日至 12 月 31 日平均股價為$50。

試計算：（加權平均流通在外股數四捨五入至整數位；每股盈餘四捨五入計算至小數點後第二位）（每小題 10 分，共 20 分）

㈠ X3 年基本每股盈餘。

㈡ X3 年稀釋每股盈餘。

二、乙公司有下列兩項應收帳款移轉之交易，各自獨立：

㈠ X3 年 10 月 1 日即將於 3 個月後到期之應收帳款$1,000,000 以有限追索方式出售給銀行，由銀行負責向顧客收款與持續提供相關服務，且銀行不得轉售該應收帳款。乙公司承諾保證移轉之應收帳款最少可收現$600,000；該項承諾保證之公允價值估計為$8,000。當日銀行收取應收帳款總額之 3%作為手續費，乙公司當日獲得現金$970,000。

X3 年 12 月 31 日銀行通知乙公司僅收到$595,000。

試計算：X3 年認列之出售金融資產損益與保證損益金額。需註明為出售利益或出售損失、保證收入或保證損失，否則不予計分。（4 分）

㈡ X3年7月1日將顧客之應收帳款$200,000以有完全追索權之方式出售給銀行，由銀行負責向顧客收款與持續提供相關服務，且銀行不得轉售該應收帳款。當日銀行保留應收帳款之10%作為銷貨退回緩衝之用，並收取應收帳款總額之1%作為手續費。

X3 年 9 月 1 日顧客發生銷貨退回$5,000，銀行收現$195,000，並通知乙公司結算差額。

試作：X3 年交易相關分錄。（6 分）

三、丙公司於X2年1月1日支付$980,000買入丁公司發行之三年期公司債，面額$1,000,000，票面利率10%，每年底付息，當日該公司債之市場利率為10.82%。丙公司根據其管理經營模式將此投資認列為透過其他綜合損益按公允價值衡量之債務工具投資。

X2 年底該公司債公允價值為$1,100,000。至 X3 年 6 月 30 日丙公司以$1,040,000（含應計利息）出售該債務工具投資。假設丙公司持有該債務工具投資期間其信用風險皆未顯著增加，亦未有重大預期信用風險損失。

丙公司於 X2 年 5 月 1 日支付$200,000 買入戊公司之普通股 1,000 股。丙公司將其指定為透過其他綜合損益按公允價值衡量之權益工具投資。

X2 年 10 月 1 日收到戊公司發放之現金股利每股$5 及股票股利 10%。

X2 年底戊公司收盤股價每股$180。至 X3 年 4 月 1 日丙公司以每股$190 出售全數戊公司股票。

試作：

㈠ 丙公司 X2 年資產負債表有關債務工具投資與權益工具投資之表達與金額；債務工具投資與權益工具投資分項列示。（8 分）

㈡ 丙公司 X2 年綜合損益表有關債務工具投資與權益工具投資之表達與金額；可重分類與不可重分類之其他綜合損益項目分開列示。（4 分）

㈢ X3 年處分債務工具投資時，其他綜合損益重分類分錄。（4 分）

㈣ X3 年處分權益工具投資時，其他綜合損益不重分類之調整分錄。（4 分）

乙、測驗題部分：（50分）　　代號：3313

㈠本試題為單一選擇題，請選出一個正確或最適當答案。
㈡共25題，每題2分，須用2B鉛筆在試卡上依題號清楚劃記，於本試題或申論試卷上作答者，不予計分。

1 甲公司於 7 月 31 日核對公司帳簿與銀行對帳單時，發現下列各事項：①公司帳上的餘額$28,874；②託收票據，銀行已完成收款，票面金額為$27,600，利息收入為$88；③未兌現支票為$17,420；④銀行之帳戶管理費為$800；⑤NSF 為$25,000；⑥#5566 支票之金額為$2,785，公司帳上誤記為$2,758。試問 7 月 31 日之正確銀行存款金額應為何？

(A)$13,315　(B)$30,735　(C)$30,789　(D)$55,735

2 甲公司對於應收帳款減損之評估採單一損失率法，已知 02 年初應收帳款餘額為$750,000，備抵損失貸餘$25,000。若當年度銷貨金額為$2,300,000，其中現銷$600,000，而帳款亦陸續收現總計為$1,525,000。02 年 4 月乙客戶之帳款$22,000 因確定無法收現而予以沖銷。且 02 年 5 月收回丙公司業已沖銷之帳款$10,000。請試算該公司 02 年度估計提列之預期信用減損損失為何？

(A)$2,090　(B)$2,390　(C)$14,090　(D)$14,390

3 丙公司 X4 年度銷貨總額為$2,000,000。丙公司 X4 年 12 月 31 日調整前應收帳款餘額為$500,000，備抵呆帳貸餘$26,000。X4 年 12 月 31 日應收帳款的帳齡分析如下：

帳　齡	金　額	可能收回機率
15 天以內	$250,000	0.96
16～30 天	85,000	0.92
31～45 天	65,000	0.88
46～60 天	？	0.78
61～90 天	25,000	0.52
超過 90 天	20,000	0.00
	$500,000	

丙公司若使用帳齡分析法提列呆帳，X4 年 12 月 31 日應收帳款淨額為何？

(A)$431,300　(B)$451,300　(C)$454,000　(D)$500,000

4 甲公司 X1 年開始營業，對存貨評價方法採用先進先出法，X2 年中，甲公司決定改採加權平均法。先進先出法下的銷貨成本：X1 年為$ 165,000、X2 年為$200,000。加權平均法下的銷貨成本：X1 年為$158,000、X2 年為$175,000。在存貨評價使用先進先出法下，甲公司 X1 年、X2 年淨利分別為$405,000、$360,000。甲公司在改採加權平均法下，X2 年淨利為何？

(A)$430,000　(B)$412,000　(C)$385,000　(D)$335,000

5 甲公司 X2 年至 X4 年帳列稅前淨利分別為$78,000、$120,000 及$160,000，X5 年初經會計師查核發現 X2 年至 X4 年底各有寄銷於別家公司之商品$40,000、$60,000 及$20,000 未計入期末存貨（其中，存貨採定期盤存制）。請試算甲公司 X3、X4 年正確之稅前淨利分別為何？

(A)$60,000，$140,000　(B)$100,000，$200,000
(C)$140,000，$120,000　(D)$180,000，$180,000

6 丁公司倉庫於 X5 年 7 月 1 日發生火災，除了 FOB 起運點交貨之在途進貨外，倉庫內剩餘存貨的估計殘值為$9,500。該批在途進貨購價為$65,000，運費$2,500 已經入帳。丁公司存貨相關資料如下：X5 年 1 月 1 日存貨$ 64,000，1 月 1 日至 7 月 1 日間的進貨$408,000，1 月 1 日至 7 月 1 日間的現金銷貨$200,000，賒銷為$300,000，進貨退回及折讓$5,000，銷貨退回$20,000，進貨運費$2,800，銷貨運費$4,500，平均毛利率為銷貨淨額之 28%。丁公司的存貨火災損失金額為何？

(A)$32,800 (B)$44,400 (C)$47,200 (D)$49,700

7 乙公司存貨使用定期盤存制度，X1 年 9 月份的期初存貨共 2,200 單位，單位成本$18，X1 年 9 月份進貨與銷貨資料如下：

9 月 05 日　進貨 300 單位，每單位成本$22
9 月 10 日　銷貨 550 單位，每單位售價$38
9 月 13 日　銷貨 450 單位，每單位售價$40
9 月 25 日　進貨 500 單位，每單位成本$20

乙公司使用成本與淨變現價值孰低法來評價存貨，每單位存貨於 X1 年 9 月底的淨變現價值為$19.5。在加權平均法下，乙公司 X1 年 9 月底之存貨金額為何？

(A)$36,000 (B)$37,460 (C)$39,000 (D)$40,000

8 甲公司於第 1 年初進口一台光療機，相關成本含有機器購價$1,800,000、海關關稅$25,000、運費$80,000、運送過程損壞之修理費$50,000 以及機器試運成本$18,000。此機器預估耐用年限為 8 年，估計殘值為$5,000，採用直線法提列折舊。至第 5 年初時發現該機器尚可使用 5 年，且估計殘值為$2,000，公司並決定剩餘年限改採倍數餘額遞減法提列折舊。甲公司於第 5 年提列的折舊費用應為多少？

(A)$384,800 (B)$385,600 (C)$392,800 (D)$393,600

9 丁公司飲料部門為該公司之最小現金產生單位，該部門淨資產之帳面金額為$760,000，其中包含商譽$140,000。該飲料部門整體之公允價值為$600,000，商譽除外之可辨認淨資產公允價值為$480,000，則其商譽價值減損損失為何？

(A)$280,000 (B)$160,000 (C)$140,000 (D)$120,000

10 甲公司在 X3 年初以$2,000,000 取得機器，估計殘值$200,000，耐用年限 8 年，採用直線法提列折舊與成本模式後續衡量。X5 年底因製程改變，故複核其是否有價值減損之跡象。經評估 X5 年底該機器之可回收金額為$1,265,000。又 X7 年底該機器的使用方式發生重大變動，評估其可回收金額為$950,000。假設機器之估計殘值與估計耐用年限均未改變，則 X7 年底應認列多少減損損失迴轉利益？

(A)$36,000 (B)$51,000 (C)$60,000 (D)$111,000

11 乙公司 X6 年 7 月 1 日購入一台機器，該機器定價$180,000，付款條件 2/10，n/30，乙公司 7 月 12 日支付價款。該機器購進當天，乙公司亦支付下列費用：運費$4,000、試車費$1,250、搬運途中不慎損壞之修理費用$3,600、安裝費$2,250。該機器估計可用 5 年，殘值$3,900，使用年數合計法提列折舊。X8 年 1 月 1 日，該機器因進行重大修理，並支出$20,100，估計修理後尚可再使用 4 年，無殘值。乙公司 X10 年 9 月 1 日以$25,000 出售機器，其出售損益為何？

(A)損失$4,680 (B)利益$4,680 (C)損失$5,000 (D)利益$5,000

12 甲公司 X1 年底以$500,000（含交易成本）買入乙公司 3 年期的公司債，面額$500,000，票面利率 6%，每年 12 月 31 日付息。甲公司對該債券投資依照攤銷後成本來衡量。乙公司公司債的預期信用損失估計金額如下表：

	12 個月預期信用損失	存續期間預期信用損失
X1 年底	$5,000	$15,000
X2 年底	$20,000	$35,000
X3 年底	$55,000	$55,000

X1 年底，甲公司判斷所持有的乙公司之公司債自原始認列後信用風險未顯著增加。乙公司 X2 年發生財務困難，甲公司 X2 年底判斷乙公司債券之信用風險顯著增加，X3 年底該債券已自活絡市場中消失，達到減損的狀態。甲公司在 X2、X3 年底各收到債券利息$30,000。甲公司 X4 年底只收到利息與本金共計$482,000，其餘款項無法收回，甲公司在 X4 年應認列的減損損失迴轉金額為何？

(A)$0　(B)$10,300　(C)$18,000　(D)$37,000

13 甲公司於 X3 年 12 月 31 日，以每股$32 購買乙公司 20%普通股 7,500 股。乙公司之部分財務資料如下：①X4 年公司淨利為$85,000、每股發放現金股利$1.5 及年底每股市價$28；②X5 年公司淨利為$136,000、每股發放現金股利$2.5 及年底每股市價$42。試問：甲公司將股票列入採權益法之投資，相較於列入透過其他綜合損益按公允價值衡量之權益工具投資，對甲公司 X5 年度損益之差額為何？

(A)($96,550)　(B)($77,800)　(C)$8,450　(D)$27,200

14 甲公司 X2 年銷售一種附有 2 年保證維修期限之玩具兔，依據公司過去經驗得知有 50%玩具兔不會發生損壞，35%玩具兔會發生小瑕疵，15%玩具兔則會發生重大瑕疵。每隻玩具兔發生小瑕疵和重大瑕疵時之平均修理費用分別為$150 及$360。甲公司 X2 年度共銷售 120 隻玩具兔，每隻售價為$1,950，X2 年實際發生的免費維修支出$5,800。甲公司 X2 年 12 月 31 日帳列估計產品保證負債餘額為何？

(A)$5,800　(B)$6,980　(C)$12,780　(D)$18,580

15 乙公司 X1 年底部分帳戶餘額如下：應付帳款$28,500，長期抵押借款$80,000，估計產品保證負債$15,000，遞延所得稅負債$18,500，短期借款$20,000，備抵呆帳貸餘$3,000，短期應付票據$40,000，應付公司債$60,000（5 年後到期），應收帳款明細帳貸餘$8,000，累計減損$8,000。乙公司 X1 年底資產負債表應認列的流動負債金額為何？

(A)$965,000　(B)$103,500　(C)$111,500　(D)$123,500

16 甲公司於 X2 年初按股權淨值取得乙公司 30%股權。甲公司 X2 年中將成本$80,000 的商品以$120,000 出售給乙公司，該項商品至 X2 年底仍有 1/2 留在乙公司尚未出售。若乙公司 X2 年度帳列淨利為$580,000，則甲公司 X2 年度應認列的投資收益為何？

(A)$156,000　(B)$162,000　(C)$168,000　(D)$174,000

17 甲企業於 X2 年 12 月 31 日發行 10 年期的公司債券，面額$1,000,000，年利率 6%，市場利率 5%，發行價格是$1,077,320。甲公司債每年發放一次債息，公司債溢折價以有效利息法攤銷。試問：該公司債 X4 年應認列之利息費用為何？

(A)$53,559.3　(B)$53,866　(C)$54,172.7　(D)$60,000

18 甲公司 X7 年 1 月 1 日權益項目有普通股股本為$1,000,000（面額$10、流通在外股數 100,000 股）、資本公積－普通股溢價$250,000 及保留盈餘$850,000，每股面額$10。X7 年 3 月 1 日以每股$15 購買庫藏股 20,000 股，同年 5 月 1 日以每股$12 出售庫藏股 11,500 股，同年 7 月 1 日註銷剩餘庫藏股票。經此些庫藏股交易後，對公司保留盈餘之影響數為何？
(A)($77,000) (B)($55,750) (C)($34,500) (D)$0

19 甲公司 X5 年底部分權益資料如下：普通股流通在外 35,000 股，每股面額$10；6%累積且非參加特別股 3,000 股，每股面額$40。若特別股已積欠二年股利。X5 年 12 月 31 日股東會決議並宣告發放現金股利總額$68,850，試問：普通股每股可得現金股利為何？
(A)$1.35 (B)$1.56 (C)$1.76 (D)$1.97

20 甲公司 X5 年淨利為$956,000。X5 年 1 月 1 日之權益資料含有普通股流通在外 200,000 股，每股面額$10；5%累積特別股 60,000 股，每股面額$10。甲公司當年度普通股相關交易如下：4 月 1 日現金增資發行新股 50,000 股，7 月 1 日買回庫藏股票 20,000 股，11 月 1 日售出 12,000 股的庫藏股票。試問：甲公司 X5 年普通股每股盈餘為何？
(A)$3.83 (B)$3.95 (C)$4.03 (D)$4.17

21 甲公司於 X3 年初登記設立，核准發行普通股 160,000 股，每股面額$10，該公司將分兩次發行，第一次於 X3 年初以每股$26 發行 1/2 股數，第二次則於 X3 年底發行剩餘股數。甲公司 X4 年初，帳列「資本公積－普通股溢價」為$2,720,000。甲公司第二次發行普通股的每股發行價為何？
(A)$18 (B)$19 (C)$27 (D)$28

22 甲公司之部分財務資料如下：X3 年底之機器設備$380,000，累計折舊$120,000；X4 年底之機器設備$520,000，累計折舊$60,000；X3 年度機器設備折舊費用$60,000。X3 年度該公司出售一套機器設備其成本$145,000，出售前該設備累計折舊$110,000，售得現金$48,500。試問：甲公司於 X3 年之投資活動現金流量為何？
(A)$48,500 (B)($91,500) (C)($186,500) (D)($236,500)

23 甲君為丙公司新進會計人員，正使用間接法來編製現金流量表，X2 年相關資料如下：購買一台機器付款$165,000，權益法認列投資收益$80,000，支付現金股利給股東$50,000，簽發票據$105,000 取得一筆土地，採權益法之長期股權投資收到股利$75,000，發行公司債$280,000。X2 年度折舊費用$30,000。X2 年度應收帳款淨額減少$32,000，存貨增加$20,000，應付帳款減少$30,000。X2 年度淨利$120,000，期初現金餘額$50,000。丙公司 X2 年之營業活動現金流量為何？
(A)$127,000 (B)$147,000 (C)$207,000 (D)$287,000

24 甲公司於 X3 年 3 月 1 日與客戶簽訂銷貨合約，合約中承諾以每件$200 銷售商品，總計銷售件數為 100 件，每件商品成本為$70，銷貨合約中同時給予客戶退貨權，允許客戶於 60 天內無條件退貨，且公司必須全額退費。根據過去的經驗，甲公司評估約有 90%的商品不會被退回。依照國際財務報導準則第 15 號「客戶合約收入」，甲公司於銷售當日之應收帳款與收入分別認列為何？
(A)應收帳款$18,000；銷貨收入$18,000 (B)應收帳款$18,000；銷貨收入$20,000
(C)應收帳款$20,000；銷貨收入$20,000 (D)應收帳款$20,000；銷貨收入$18,000

25 甲公司 X7 年度之部分財務資料如下：①利息支出$330,000；②稅前淨利$1,500,000；③所得稅費用$280,000；④本期淨利$1,220,000；⑤資產總額$19,860,000；⑥負債總額$7,700,000；⑦權益總額$12,160,000。試問：X7 年度利息保障倍數為何？
(A) 2.58 (B) 3.70 (C) 4.55 (D) 5.55

測驗式試題標準答案

考試名稱：112年特種考試地方政府公務人員考試

類科名稱：財稅行政

科目名稱：會計學（試題代號：3313）

更多地特考試科目的歷屆題庫
立即上網搜尋“地特歷屆考古題懶人包”
高鋒公職補習班整理
Line@帳號：@gaofeng
連絡電話：07-236-7296

單選題數：25題　　單選每題配分：2.00分

複選題數：　　複選每題配分：

標準答案：

題號	第1題	第2題	第3題	第4題	第5題	第6題	第7題	第8題	第9題	第10題
答案	B	C	A	C	C	C	B	B	C	A

題號	第11題	第12題	第13題	第14題	第15題	第16題	第17題	第18題	第19題	第20題
答案	D	B	C	B	C	C	A	B	A	C

題號	第21題	第22題	第23題	第24題	第25題	第26題	第27題	第28題	第29題	第30題
答案	D	D	A	D	D					

題號	第31題	第32題	第33題	第34題	第35題	第36題	第37題	第38題	第39題	第40題
答案										

題號	第41題	第42題	第43題	第44題	第45題	第46題	第47題	第48題	第49題	第50題
答案										

題號	第51題	第52題	第53題	第54題	第55題	第56題	第57題	第58題	第59題	第60題
答案										

題號	第61題	第62題	第63題	第64題	第65題	第66題	第67題	第68題	第69題	第70題
答案										

題號	第71題	第72題	第73題	第74題	第75題	第76題	第77題	第78題	第79題	第80題
答案										

題號	第81題	第82題	第83題	第84題	第85題	第86題	第87題	第88題	第89題	第90題
答案										

題號	第91題	第92題	第93題	第94題	第95題	第96題	第97題	第98題	第99題	第100題
答案										

備　　註：

代號：31350
31450
頁次：3－1

112 年特種考試地方政府公務人員考試試題

等　　別：三等考試
類　　科：財稅行政、會計
科　　目：財政學
考試時間：2 小時　　座號：_____

※注意：禁止使用電子計算器。

更多地特考試科目的歷屆題庫
立即上網搜尋“地特歷屆考古題懶人包”
高鋒公職補習班整理
Line@帳號：@gaofeng
連絡電話：07-236-7296

甲、申論題部分：（50分）

㈠不必抄題，作答時請將試題題號及答案依照順序寫在申論試卷上，於本試題上作答者，不予計分。
㈡請以藍、黑色鋼筆或原子筆在申論試卷上作答。
㈢本科目除專門名詞或數理公式外，應使用本國文字作答。

一、施打疫苗可提升自我免疫力、預防感染以致於減少罹病的風險。但同時，施打疫苗將不會再有將病毒傳染給他人的可能，間接減少了他人的罹病率。因此，個人施打疫苗的決定帶來了外部利益。然而，隨著愈來愈多的人施打疫苗，每次疫苗施打的邊際外部利益可能逐步下降；當施打疫苗的群眾達到足夠人數時，病毒便難以在人與人之間傳播，施打疫苗的邊際外部利益最終降為零。假設疫苗市場為完全競爭市場，請繪圖分析政府是否應給予消費者施打疫苗的補貼？對疫苗的市場價格、社會福利淨利益又有何影響？（25 分）

二、各國稅局課徵個人所得稅時，通常會提供納稅者得以享受租稅優惠（tax preferences）的項目，請說明何謂租稅優惠？租稅優惠的立論基礎及其可能的經濟效果又為何？（25 分）

乙、測驗題部分：（50分）　　代號：5313

㈠本試題為單一選擇題，請選出一個正確或最適當答案。
㈡共25題，每題2分，須用2B鉛筆在試卡上依題號清楚劃記，於本試題或申論試卷上作答者，不予計分。

1 當公共支出之成本係以貨幣衡量，而利益涉及以質性指標為決策依據時，下列方法何者適用？
(A)成本效益分析　(B)成本效用分析　(C)成本效果分析　(D)敏感性分析

2 下列何者不是成本效益分析決定無形財貨或勞務影子價格的常用方法？
(A)特徵價格法（hedonic price method）
(B)條件評估法（contingent valuation method）
(C)旅遊成本法（travel-cost method）
(D)淨變現價值法（net realizable value method）

3 若某一投資計畫估計一年後之名目報酬為 1,100 元，市場利率為 8%，通貨膨脹率為 2%，則該計畫報酬之現值為：
(A) 1,100 元　(B) 1,019 元　(C) 1,000 元　(D) 943 元

4 下列那一個圖形最能代表皮寇克（A. Peacock）及魏斯曼（J. Wiseman）的公共支出成長法則？圖形中，G 代表政府支出，GNP 代表國民生產毛額。

(A) $\frac{G}{GNP}$

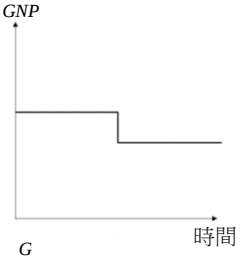

(B) $\frac{G}{GNP}$

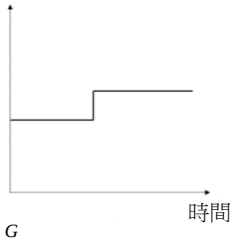

(C) $\frac{G}{GNP}$

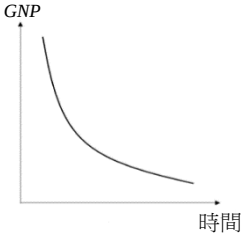

(D) $\frac{G}{GNP}$

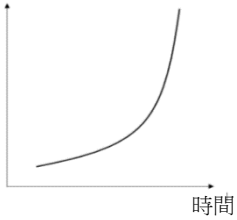

5 下列有關網路外部性（network externalities）的敘述，何者錯誤？
(A)網路遊戲玩家的效用因更多玩家參與遊戲而提升，此為正的網路外部性
(B)線上影音檔案下載速度會因網路使用人數擴增而減緩，此為負的網路外部性
(C)政府不需因某一產品或服務具備正的網路外部性，而提出租稅或補貼等鼓勵措施
(D)具備正的網路外部性的產品，經常因閉鎖效果（lock-in effect），而使得產品容易被取代

6 下列何者不是具有自然獨占特性的公用事業？
(A)臺灣高鐵公司 (B)台灣糖業公司 (C)台灣電力公司 (D)臺灣自來水公司

7 福利經濟學第一定理主要在強調經濟資源配置效率與下列何者之關係？
(A)租稅公平 (B)社會福利 (C)完全競爭市場 (D)政府存在

8 下列有關古典財政理論的敘述，何者正確？
(A)主張政府應積極介入市場經濟 (B)反對國家發行公債
(C)贊成以貨幣政策調節產出 (D)主張國家生產體說

9 下列何者並非中位數投票者定理所推論？
(A)候選人會以中位數投票者的政策立場訂定其選舉政見以尋求多數選民的支持
(B)以代議制取代直接選舉不影響定理的預測結果
(C)追求中位數投票者支持的結果導致穩定的兩黨政治體系
(D)候選人的個人魅力與領導能力是贏得中位數投票者支持的關鍵

10 假設一選區有甲、乙、丙 3 位候選人，投票者針對候選人偏好排序，將票投給偏好最高的候選人，選舉採兩輪選舉制，首輪投票中擇得票最多的兩人，進入二輪決選，以得票過半數者當選。假定選民的偏好如下，請問那位候選人會贏得選舉？
42%選民偏好：甲＞乙＞丙；35%選民偏好：乙＞丙＞甲；18%選民偏好：丙＞乙＞甲；5%選民偏好：丙＞甲＞乙
(A)甲候選人 (B)乙候選人 (C)丙候選人 (D)出現循環多數決

11 全民健康保險所提供的預防保健服務，下列敘述何者正確？
(A)可改善逆選擇問題 (B)為避免浪費醫療資源，收取高額部分負擔
(C)為現金補助措施之一 (D)免除部分負擔

12 社會救助法的中央主管機關為：
(A)內政部 (B)衛生福利部 (C)勞動部 (D)財政部

13 在相同稅收下，有關租稅課徵的超額負擔（EB）之敘述，下列何者正確？①稅率累進度愈高，EB 愈大　②替代效果愈大，EB 愈大　③所得效果愈大，EB 愈小　④稅基愈廣，EB 愈大
(A)①②　(B)①②④　(C)②③　(D)①③④

14 由於我國人口結構發生變化，導致勞保財務問題日益嚴重，下列何者非主要原因？
(A)依賴人口比率日增　(B)男女性別比例失衡
(C) 65 歲以上人口比例日漸增加　(D)生育率逐年下滑

15 我國現行的特種貨物及勞務稅是一種：
(A)單階段加值型消費稅　(B)選擇性多階段消費稅
(C)稅收指定用途的租稅　(D)累進課徵之財產稅

16 在部分均衡分析架構下，對完全競爭市場商品從量課稅所產生之超額負擔，下列敘述何者錯誤？
(A)與商品需求彈性呈正相關　(B)與商品價格呈正相關
(C)與課徵稅額的平方呈正相關　(D)與商品交易數量呈正相關

17 下列那些是亞當斯密的租稅課徵原則？①公平原則　②普遍原則　③中性原則　④確實原則　⑤便利原則
(A)①②③④　(B)①②③⑤　(C)①④⑤　(D)②④⑤

18 下列有關租稅課徵效果之敘述，何者正確？①課稅與補貼都會產生超額負擔　②課稅會產生超額負擔，補貼不會　③平均稅率愈大，替代效果愈弱　④邊際稅率愈大，替代效果愈強
(A)①③　(B)①④　(C)②③　(D)②④

19 在所得固定且全部用於消費的條件下，對所有財貨（不含休閒）課徵比例消費稅（CT），或是對所得課徵比例所得稅（IT），下列敘述何者正確？
(A) CT 與 IT 都具效率　(B) CT 具效率、IT 不具效率
(C) CT 與 IT 都不具效率　(D) CT 不具效率、IT 具效率

20 丁波（C. M. Tiebout）認為下列何種方法可以讓地方公共財的提供達到效率？
(A)課徵人頭稅　(B)徵收克拉奇租稅
(C)居民以腳投票　(D)依所得高低強制比例繳稅

21 下列何者不是財產稅新觀點的特徵？
(A)在單一稅率下，財產稅負全由買方負擔
(B)在單一稅率下，對土地課徵財產稅具累進性
(C)在差別稅率下，財產稅具貨物稅效果
(D)在長期財產供給可變下，財產稅可能是累退的

22 下列何項稅目沒有統籌分配的規定？
(A)貨物稅　(B)土地增值稅　(C)房屋稅　(D)使用牌照稅

23 若某一國家遭遇巨大天災，依據貝羅（R. Barro）的論點，為了減少扭曲，應以下列何者為重建財源？
(A)提高稅賦　(B)發行公債　(C)減少政府其他支出　(D)貨幣融通

24 假設受補助地區收到 1 元補助款時所增加的公共支出為 X，而其所得增加 1 元時所增加的公共支出為 Y。捕蠅紙效果（flypaper effect）係指下列何種現象？
(A) $X>Y$　(B) $X=Y$　(C) $X<Y$　(D) $X=(1/Y)$

25 比較凱因斯及布坎南對於公債是否存在代際間負擔移轉之推論，下列何者正確？
(A)前者須視公債收入之用途而定，後者認為不存在代際間移轉
(B)前者不存在代際間移轉，後者認為須視公債收入之用途而定
(C)二者均認為須視公債收入之用途而定
(D)二者均認為不存在代際間移轉

測驗式試題標準答案

考試名稱：112年特種考試地方政府公務人員考試

類科名稱：會計、財稅行政

科目名稱：財政學（試題代號：5313）

更多地特考試科目的歷屆題庫
立即上網搜尋“地特歷屆考古題懶人包”
高鋒公職補習班整理
Line@帳號：@gaofeng
連絡電話：07-236-7296

單選題數：25題　　單選每題配分：2.00分

複選題數：　　複選每題配分：

標準答案：

題號	第1題	第2題	第3題	第4題	第5題	第6題	第7題	第8題	第9題	第10題
答案	B	D	B	B	D	B	C	B	D	B

題號	第11題	第12題	第13題	第14題	第15題	第16題	第17題	第18題	第19題	第20題
答案	D	B	A	B	C	B	C	B	A	C

題號	第21題	第22題	第23題	第24題	第25題	第26題	第27題	第28題	第29題	第30題
答案	A	D	B	A	B					

題號	第31題	第32題	第33題	第34題	第35題	第36題	第37題	第38題	第39題	第40題
答案										

題號	第41題	第42題	第43題	第44題	第45題	第46題	第47題	第48題	第49題	第50題
答案										

題號	第51題	第52題	第53題	第54題	第55題	第56題	第57題	第58題	第59題	第60題
答案										

題號	第61題	第62題	第63題	第64題	第65題	第66題	第67題	第68題	第69題	第70題
答案										

題號	第71題	第72題	第73題	第74題	第75題	第76題	第77題	第78題	第79題	第80題
答案										

題號	第81題	第82題	第83題	第84題	第85題	第86題	第87題	第88題	第89題	第90題
答案										

題號	第91題	第92題	第93題	第94題	第95題	第96題	第97題	第98題	第99題	第100題
答案										

備　　註：

代號：31380
頁次：4－1

112 年特種考試地方政府公務人員考試試題

等　　別：三等考試
類　　科：財稅行政
科　　目：租稅各論
考試時間：2 小時

更多地特考試科目的歷屆題庫
立即上網搜尋“地特歷屆考古題懶人包”
高鋒公職補習班整理
Line@帳號：@gaofeng
連絡電話：07-236-7296

座號：_____

※注意：禁止使用電子計算器。

甲、申論題部分：（50分）

㈠不必抄題，作答時請將試題題號及答案依照順序寫在申論試卷上，於本試題上作答者，不予計分。
㈡請以藍、黑色鋼筆或原子筆在申論試卷上作答。
㈢本科目除專門名詞或數理公式外，應使用本國文字作答。

一、請依學理說明稅式支出（tax expenditure）的意義，並請以我國的綜合所得稅為例，列舉四種常見稅式支出的型態及說明其意義。又這些不同型態的稅式支出，對納稅義務人的價值，與其適用的邊際稅率有何關係？（25 分）

二、何謂租稅中立性（tax neutrality）？請以代表性家計單位為例，詳細說明分別在有與沒有考慮休閒的情形下，政府課徵定額稅（lump sum tax）、特產稅（excise tax）或比例所得稅時，是否符合租稅中立性？（25 分）

乙、測驗題部分：（50分）　　代號：8313

㈠本試題為單一選擇題，請選出一個正確或最適當答案。
㈡共25題，每題2分，須用2B鉛筆在試卡上依題號清楚劃記，於本試題或申論試卷上作答者，不予計分。

1 若社會福利函數為個人效用函數的簡單加總時，在下列以效用為納稅能力的公平原則中，何者也符合效率原則？①相等絕對犧牲　②相等比例犧牲　③相等邊際犧牲

(A)①　(B)②　(C)③　(D)①②

2 令一租稅函數如下：T＝（Y－E）×10%，T、Y、E 分別代表稅額、所得額與免稅額，且 Y＞E＞0；稅率為 10%。關於此租稅函數累進或累退性之敘述，下列何者正確？

(A)以邊際稅率與平均稅率衡量均為累進稅

(B)以邊際稅率與平均稅率衡量均為比例稅

(C)以邊際稅率衡量為累進稅，以平均稅率衡量為比例稅

(D)以邊際稅率衡量為比例稅，以平均稅率衡量為累進稅

3 在獨占市場上，市場需求曲線為直線形狀，廠商的邊際成本為固定，廠商追求利潤極大。對獨占廠商課徵定額式（specific）或從價式（ad valorem）商品稅，當稅收相同時，課徵定額式比課徵從價式商品稅的產量為：

(A)多　(B)相等　(C)少　(D)無法比較

4 根據哈柏格（Arnold C. Harberger）一般均衡模型，公司所得稅在下列何種情況下較能轉嫁給資本？

(A)在公司部門，勞動非為資本的良好替代品

(B)公司部門為相對勞力密集

(C)公司部門為相對資本密集

(D)在非公司部門，資本是勞動的良好替代品

5 假設有商品 X 與商品 Y，且此兩商品的供給曲線皆為水平線，需求曲線則為負斜率。若政府原已對商品 X 課稅，現又對商品 Y 課稅，則在商品 X 與商品 Y 互為替代品或互補品兩種情況下，和只對商品 X 課稅相比，其所產生之社會總超額負擔：

(A)互為替代品的社會總超額負擔一定增加，而互為互補品的則可能降低

(B)互為替代品的社會總超額負擔可能降低，而互為互補品的一定增加

(C)兩者的社會總超額負擔一定都會增加

(D)兩者的社會總超額負擔可能降低

6 在兩商品均為完全競爭市場，且消費者的所得固定下，如果對兩商品課徵相同從價稅率之單一稅率 25%，則等同於減少多少比例的所得？

(A) 10% (B) 20% (C) 30% (D) 40%

7 在個人效用極大化、兩期消費選擇之生命週期模型中，假設利息費用可於計算所得時扣除，有關利息所得課稅之敘述，下列何者錯誤？

(A)對利息所得課稅所產生的所得效果將使當期消費減少

(B)對利息所得課稅所產生的替代效果將使當期消費增加

(C)對利息所得課稅，其對當期儲蓄影響不確定

(D)對利息所得課稅，若課稅前後的當期儲蓄不變，表示不會產生超額負擔

8 關於次佳理論（the theory of the second best）之敘述，下列何者錯誤？

(A)由 Lipsey and Lancaster 提出

(B)任何課稅都會導致效率損失，因此不是最好的選擇

(C)當存在市場扭曲時，課稅未必會增加超額負擔

(D)當存在外部性時，課稅可能提升社會福利

9 關於自然獨占公用事業的訂價，下列敘述何者正確？

(A)邊際成本訂價法能使此一市場達到效率，但使用者支付的價格未反應他們得到的利益

(B)應採邊際收入等於邊際成本訂價法，因為剛好沒有虧損，以免讓全民買單

(C)平均成本訂價法下的均衡產量大於邊際成本訂價法的均衡產量

(D)邊際收入等於邊際成本訂價法下產量最大

10 Edgeworth’s model 的最適所得稅隱含採用何種稅制？

(A)比例所得稅　(B)線性累進所得稅　(C)定額稅　(D)完全累進的所得稅

11 對資本利得課稅，會發生閉鎖效果（lock-in effect），下列敘述何者正確？

(A)會使投資人快速移轉或出售資產

(B)會使公司減少股利給付

(C)會使投資人較不願意改變資產組合

(D)無論何時處理資產，投資人之租稅負擔的現值是固定的

12 假定資本可在國際市場自由移動，且國外資金的供給為完全有彈性。若政府只對本國的儲蓄課利息所得稅，對國內的儲蓄和投資的影響為何？

(A)儲蓄減少，投資減少　(B)儲蓄增加，投資減少

(C)儲蓄增加，投資增加　(D)儲蓄減少，投資不變

13 關於稅式支出（tax expenditure）之敘述，下列何者錯誤？

(A)會造成稅基侵蝕與稅收損失

(B)政府為達成特定的政策目的而產生

(C)須逐年經由國會預算審議程序的評估與審查

(D)形式上減輕納稅義務人稅負，實質上屬於政府支出的一環

14 甲稅前的預算線如下圖中的 $\overline{AB}$，政府課徵所得稅之後，預算線為 $\overline{CD}$。若政府實施將部分薪資存入退休帳戶的金額可在當期所得扣除，於退休提領本金與利息時一併課稅，並對存入退休帳戶的金額設定上限。下列敘述何者錯誤？

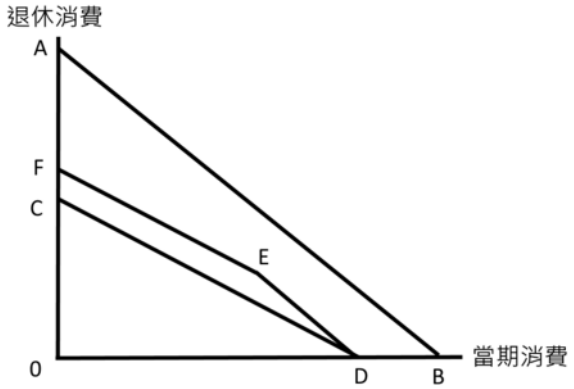

(A)存入退休帳戶金額未達上限者，最適選擇落在 $\overline{ED}$

(B)存入退休帳戶金額未達上限者，僅產生所得效果

(C)存入退休帳戶金額超過上限者，最適選擇落在 $\overline{FE}$

(D)存入退休帳戶金額超過上限者，僅產生所得效果

15 甲在新北市有兩處自用房屋，最新年度的金融機構房貸利息支出分別為 35 萬元及 20 萬元，同年申報的銀行存款利息收入為 30 萬元，甲當年度至多可申報多少的購屋借款利息列舉扣除額？

(A) 5 萬元　(B) 8 萬元　(C) 25 萬元　(D) 28 萬元

16 如果公司所得稅被視為一種利潤稅，其是否有租稅超額負擔？

(A)沒有 (B)不確定 (C)有 (D)無法判斷

17 有關我國實施所得基本稅額條例，下列敘述何者錯誤？

(A)營利事業基本稅額之計算，其稅率為 12%~15%

(B)國內證券與期貨交易所得不計入營利事業所得基本稅額的課稅項目

(C)公司所得基本稅額超過營所稅額的部分，須補繳差額稅款

(D)獨資、合夥組織之營利事業不適用所得基本稅額條例

18 A 公司 111 年底以 800 萬元出售一筆當年 1 月購買的土地，111 年度營利事業所得稅已申報該筆土地交易所得，但稽徵機關調查時，公司未提示該筆所得相關帳簿憑證，稽徵機關核定所得方式，下列敘述何者正確？

(A)應按同業利潤標準核定所得額

(B)查無成本資料時，依公告地價核定其成本

(C)查無成本資料時，依公告土地現值核定其成本

(D)查無費用資料時，以 30 萬元核定其費用

19 我國 A 公司於 110 年度全年課稅所得為 18 萬元，其當年度應納所得稅額為何？

(A) 0 元 (B) 30,000 元 (C) 30,600 元 (D) 36,000 元

20 下列何者非屬免徵營業稅之貨物或勞務？

(A)出售房屋 (B)代銷郵票之勞務 (C)飼料 (D)麵粉之銷售

21 一輛銷售價格高達 500 萬元的進口豪華轎車，從進口到賣給我國消費者，會面臨那些稅負？①進口關稅 ②貨物稅 ③營業稅 ④特種貨物及勞務稅

(A)①③ (B)②③④ (C)①②③ (D)①②③④

22 財政收支劃分法規定普通統籌分配稅款分配各直轄市之公式，那項指標可能容易發生租稅輸出的結果？

(A)營利事業營業額 (B)財政能力 (C)轄區內人口 (D)轄區之土地面積

23 有關 Tiebout 的「以腳投票」模型，下列敘述何者正確？

(A)每個地方的租稅負擔完全相同 (B)人口規模較多的地方其租稅負擔愈高

(C)人口規模較多的地方其租稅負擔愈低 (D)各地方轄區內每人的租稅負擔完全相同

24 依據新觀點，若全國的資本量固定，資本占所得之比例隨所得增加而提高，則財產稅課徵屬於：

(A)累進稅 (B)比例稅 (C)累退稅 (D)無法判定

25 根據現行土地稅法，有關土地增值稅稅率之敘述，下列何者正確？

(A)採倍數累進方式課徵，符合量能原則 (B)採倍數累進方式課徵，符合受益原則

(C)採倍數累進方式課徵，違反量能原則 (D)採金額累進方式課徵，違反量能原則

測驗式試題標準答案

考試名稱：112年特種考試地方政府公務人員考試

類科名稱：財稅行政

科目名稱：租稅各論（試題代號：8313）

更多地特考試科目的歷屆題庫
立即上網搜尋“地特歷屆考古題懶人包”
高鋒公職補習班整理
Line@帳號：@gaofeng
連絡電話：07-236-7296

單選題數：25題　　單選每題配分：2.00分

複選題數：　　複選每題配分：

標準答案：

題號	第1題	第2題	第3題	第4題	第5題	第6題	第7題	第8題	第9題	第10題
答案	C	D	C	B	B	B	D	B	A	D

題號	第11題	第12題	第13題	第14題	第15題	第16題	第17題	第18題	第19題	第20題
答案	C	D	C	B	B	A	B	C	B	A

題號	第21題	第22題	第23題	第24題	第25題	第26題	第27題	第28題	第29題	第30題
答案	D	A	D	A	C					

題號	第31題	第32題	第33題	第34題	第35題	第36題	第37題	第38題	第39題	第40題
答案										

題號	第41題	第42題	第43題	第44題	第45題	第46題	第47題	第48題	第49題	第50題
答案										

題號	第51題	第52題	第53題	第54題	第55題	第56題	第57題	第58題	第59題	第60題
答案										

題號	第61題	第62題	第63題	第64題	第65題	第66題	第67題	第68題	第69題	第70題
答案										

題號	第71題	第72題	第73題	第74題	第75題	第76題	第77題	第78題	第79題	第80題
答案										

題號	第81題	第82題	第83題	第84題	第85題	第86題	第87題	第88題	第89題	第90題
答案										

題號	第91題	第92題	第93題	第94題	第95題	第96題	第97題	第98題	第99題	第100題
答案										

備　　註：

代號：31340
頁次：4－1

112 年特種考試地方政府公務人員考試試題

等　　別：三等考試
類　　科：財稅行政
科　　目：稅務法規
考試時間：2 小時

座號：_____

※注意：可以使用電子計算器。

更多地特考試科目的歷屆題庫
立即上網搜尋“地特歷屆考古題懶人包”
高鋒公職補習班整理
Line@帳號：@gaofeng
連絡電話：07-236-7296

甲、申論題部分：（50分）

㈠不必抄題，作答時請將試題題號及答案依照順序寫在申論試卷上，於本試題上作答者，不予計分。
㈡請以藍、黑色鋼筆或原子筆在申論試卷上作答。
㈢本科目除專門名詞或數理公式外，應使用本國文字作答。

一、甲為經常居住中華民國境內之中華民國國民，設籍於花蓮縣，民國 112 年 6 月 4 日（星期日）病逝於臺北市，甲與配偶共育有 3 個兒子，大兒子 30 歲已婚，並育有一對龍鳳胎子女 4 歲；二兒子 25 歲未婚、小兒子 15 歲未婚，甲死亡時留有遺產包括：銀行存款 1,500 萬元；高雄市房屋一間市價 1 億 5,000 萬元（房屋評定標準價格 3,000 萬元，土地公告現值 5,000 萬元，土地公告地價 3,500 萬元）；上市股票一批，購入成本 1,200 萬元，112 年 6 月 2 日（星期五）收盤價為 2,500 萬元，112 年 6 月 5 日（星期一）收盤價為 2,625 萬元。此外，無任何負債與保險。甲曾於 111 年 5 月 2 日贈與配偶現金 500 萬元。若甲的大兒子拋棄繼承，由甲的孫子女繼承，另甲的配偶未主張剩餘財產分配請求權並拋棄繼承。請回答下列問題：（計算題請詳列計算式，否則不予計分）

㈠遺產總額、遺產淨額及應繳納遺產稅各為多少？（15 分）

㈡納稅義務人應向那一個機關辦理遺產稅申報？其申報與繳納期限各為何？（10 分）

提示：配偶扣除額 493 萬元、直系血親卑親屬扣除額 50 萬元、喪葬費扣除額 123 萬元。

二、甲營利事業設於臺中市，110 年度之營利事業所得稅經稽徵機關核定後，甲營利事業不服，遂提起行政救濟，假設本案係適用簡易訴訟程序之稅務案件，其行政救濟可分為那幾個階段？受理機關為何？納稅義務人的申請期限為何？請將下表繪製於試卷上作答。（25 分）

行政救濟階段				
受理機關				
申請期限				

乙、測驗題部分：（50分）　　代號：4313

㈠本試題為單一選擇題，請選出一個正確或最適當答案。
㈡共25題，每題2分，須用2B鉛筆在試卡上依題號清楚劃記，於本試題或申論試卷上作答者，不予計分。

1 法人、合夥或非法人團體解散清算時，尚未繳清之稅捐，應如何處理？
(A)清算人於分配賸餘財產前，應依法按稅捐受清償之順序，繳清稅捐
(B)清算人於分配賸餘財產前，應依欠稅金額由高至低順序，繳清稅捐
(C)負責人於分配賸餘財產前，應依法按稅捐受清償之順序，繳清稅捐
(D)負責人於分配賸餘財產前，應依欠稅金額由高至低順序，繳清稅捐

2 納稅義務人如發現繳納通知文書將房屋稅計算錯誤時，應如何處理？
(A)於繳納期限屆滿後 30 日內，向稅捐稽徵機關進行查對更正
(B)於繳納期限屆滿後 30 日內，向稅捐稽徵機關進行復查
(C)於規定繳納期間內，向稅捐稽徵機關進行查對更正
(D)於規定繳納期間內，向稅捐稽徵機關進行復查

3 稅捐稽徵機關對逃漏那些稅捐，認為涉有犯罪嫌疑之案件，得聲請司法機關簽發搜索票後，進入處所實施搜查？
(A)所得稅、營業稅、貨物稅　(B)營業稅、土增稅、印花稅
(C)營業稅、貨物稅、遺贈稅　(D)所得稅、印花稅、娛樂稅

4 所得稅法有關「災害損失」扣除之規定，下列敘述何者正確？①不論是否受有保險賠償或救濟金部分，均得扣除　②指納稅義務人、配偶或受扶養親屬遭受不可抗力之災害　③災害，指地震、風災、水災、旱災、蟲災、火災、竊盜及戰禍等　④應於災害發生後 30 日內檢具損失清單及證明文件，報請該管稽徵機關派員勘查
(A)②③④　(B)①②　(C)③④　(D)②④

5 依所得稅法規定，有關房地合一課徵所得稅制度之規定，下列敘述何者正確？
(A)若所計算之房地合一交易所得之應納稅額為零，則不需依規定於期限內辦理房地合一稅之申報
(B)個人違反第 14 條之 5 規定，未依限辦理房地交易所得申報，處新臺幣 3 千元以上 3 萬元以下之罰鍰
(C)個人已依規定辦理房屋、土地交易所得申報，有漏報或短報情事，處以所漏稅額 20%以下之罰鍰
(D)符合自用住宅課稅要件之房地可免徵土地增值稅

6 營利事業遇有解散、廢止、合併或轉讓情事時，應於截至解散、廢止、合併或轉讓之日起多久內，向該管稽徵機關辦理當期營利事業所得稅之決算申報？
(A) 30 日　(B) 45 日　(C) 60 日　(D) 90 日

7 依所得稅法規定，下列有關營利事業交際應酬費之規定，何者錯誤？
(A)營利事業委託會計師查核簽證申報者可列支之交際費較採普通申報者高
(B)取得外匯收入之外銷業務，除依規定列支交際費，並得在不超過當年度外銷結匯收入總額 2%內列支特別交際費
(C)民營事業各項交際應酬費用支付之限度，由各行業別自行訂定，並報財政部核定
(D)公營事業各項交際應酬費用支付之限度，由主管機關分別核定，列入預算

8 依所得稅法有關暫繳之規定，下列敘述何者正確？
(A)採曆年制之營利事業，應於 8 月 1 日至 8 月 31 日作暫繳申報
(B)採七月制之營利事業，應於 4 月 1 日至 4 月 30 日作暫繳申報
(C)會計帳簿完備之營利事業，逾期辦理暫繳申報者，得採試算暫繳計算稅額
(D)營利事業未依規定辦理暫繳申報，稽徵機關應加計利息但免處罰

9 依所得基本稅額條例規定，個人基本所得額之計算係由綜合所得淨額加計之項目，不包括下列何者？
(A)受益人與要保人不同人之死亡人壽保險給付新臺幣 1,000 萬元
(B)符合所得基本稅額條例第 12 條之 1 規定之營利所得新臺幣 500 萬元
(C)非現金之捐贈扣除額新臺幣 500 萬元
(D)私募證券投資信託基金受益憑證之交易所得新臺幣 500 萬元

10 依加值型及非加值型營業稅法規定，下列何者視為銷售貨物？①營業人以其產製供銷售之貨物，轉供營業人自用　②營業人解散或廢止營業時所餘存之貨物　③營業人以自己名義代為購買貨物交付與委託人者　④因信託行為成立，委託人將信託財產交付與受託人
(A)①②③④　(B)①③④　(C)①③　(D)①②③

11 依貨物稅條例規定，有下列那些情形得退還原納貨物稅？①運銷國外者　②經國防部核定直接供軍用之貨品　③因故變損不能出售，但原完稅照已遺失　④用作製造外銷品之原料者
(A)①②④　(B)②③④　(C)①④　(D)①③

12 下列何者不符合遺產及贈與稅法所稱被繼承人或贈與人「經常居住中華民國境內」？
(A)死亡事實發生前 2 年內，在中華民國境內有住所者
(B)贈與行為發生前 2 年內，在中華民國境內有住所者
(C)受中華民國政府聘請從事工作，在死亡事實前 2 年內，在中華民國境內特定居留合計逾 365 天者
(D)在中華民國境內無住所而有居所，在死亡事實或贈與行為發生前 2 年內，在境內居留時間合計逾 365 天者

13 依土地稅法規定，下列何項地價稅之稅率最低？
(A)公共設施保留地　(B)工業用地
(C)寺廟用地　(D)未供公共使用之公有土地

14 有關房屋稅之課徵規定，下列敘述何者正確？
(A)房屋標準價格由不動產評價委員會每 3 年重行評定 1 次
(B)房屋現值在新臺幣 10 萬元以下者，不論用途一律免徵房屋稅
(C)若符合所有權人、配偶或直系親屬在該建物設籍之條件，則適用自用住宅房屋稅稅率 1.2%
(D)房屋同時作住家及非住家用者，按實際使用面積分別課徵，但非住家用者，課稅面積不得低於全部面積之 1/5

15 依納稅者權利保護法之規定，下列何者錯誤？
(A)納稅者為維持自己及受扶養親屬享有符合人性尊嚴之基本生活所需之費用，不得加以課稅
(B)稅法或其他法律所規定之租稅優惠，為達成其特定政策目的，得免限定實施年限
(C)主管機關就稅捐事項所作成之解釋函令及其他行政規則，除涉及公務機密、營業秘密或個人隱私外，均應公開
(D)中央主管機關為研擬納稅者保護基本政策之諮詢意見，應設置納稅者權利保護諮詢會

16 有關租稅罰法之規定，下列何者錯誤？
(A)行政罰以過失為責任要件
(B)刑事罰以處罰故意行為為原則
(C)納稅義務人若違反稅法相關規定，應以裁處時法律予以處罰。但裁處前之法律若有變更，則適用從新從輕原則予以處罰
(D)租稅行政罰由各主管稅捐稽徵機關處理，刑事罰則是由稅捐稽徵機關移送法院偵辦

17 依現行所得稅法，下列何者非屬個人營利所得？
(A)公司股東所獲分配之股利
(B)獨資資本主每年自其獨資經營事業所得之盈餘
(C)個人一時貿易之盈餘
(D)個人出售手中持有之股份有限公司記名股票，取得之所得

18 有關個人境內房屋土地交易所得之課稅規定，下列何者正確？
(A)個人出售民國 105 年以後取得之土地，該交易所得免徵土地增值稅，但應課徵房地合一稅
(B)個人於民國 105 年以後出售之房屋交易所得，均適用房地合一稅
(C)個人之房屋土地交易所得，若適用房地合一稅，應採分離課稅，不併入綜合所得計稅
(D)個人之房屋土地交易所得，若不適用房地合一稅，應全數併入綜合所得計稅

19 依現行法規，下列何項個人境內所得，免納所得稅？
(A)勞保年金給付　(B)退休金所得
(C)參加政府舉辦獎券之中獎獎金　(D)銀行利息所得

20 依現行所得稅法，下列何種情況，不得扣除幼兒學前特別扣除額及長期照顧特別扣除額？
(A)經減除幼兒學前特別扣除額及長期照顧特別扣除額後，納稅義務人或其配偶依第 15 條第 2 項規定計算之稅額適用稅率為 12%
(B)納稅義務人依第 15 條第 5 項規定選擇將其申報戶股利及盈餘合計金額併入綜合所得總額計算應納稅額
(C)納稅義務人依所得基本稅額條例規定免申報基本稅額
(D)納稅義務人依規定應申報基本稅額，但其一般所得稅額大於基本稅額者

21 假定某境內公司採日曆會計年度，民國 111 年 5 月 15 日開始營業，當年度實際營業期間的所得額為 10 萬元。依現行法規，該公司 111 年度之實際應納稅額為：
(A) 0 元　(B) 1 萬元　(C) 1.5 萬元　(D) 2 萬元

22 依現行加值型及非加值型營業稅法規定，一般銷售額的認定，不包含下列何者？
(A)營業人銷售貨物或勞務之價金
(B)營業人銷售貨物或勞務時，另行收取之服務費
(C)營業人銷售之產品如係應徵貨物稅，該產品之貨物稅額
(D)營業人銷售貨物或勞務之營業稅額

23 下列何者為貨物稅應稅貨物？①橡膠輪胎　②平板玻璃　③液晶顯示器　④機車　⑤煤炭
(A)①②③④⑤　(B)①②④　(C)①②③④　(D)①②④⑤

24 有關遺產及贈與稅法之規定，下列何者正確？
(A)凡中華民國國民死亡時遺有財產者，應就其在中華民國境內境外全部遺產，依法課徵遺產稅
(B)非中華民國國民但經常居住中華民國境內，死亡時遺有財產者，應就其在中華民國境內境外全部遺產，依法課徵遺產稅
(C)死亡事實發生前 3 年內，被繼承人自願喪失中華民國國籍者，仍應依遺產及贈與稅法關於中華民國國民之規定，課徵遺產稅
(D)經常居住中華民國境外之中華民國國民，死亡時在中華民國境內遺有財產者，應就其在中華民國境內之遺產，依法課徵遺產稅

25 有關地方稅法通則之規定，下列何者錯誤？
(A)直轄市政府、縣（市）政府、鄉（鎮、市）公所得視自治財政需要，依規定開徵特別稅課、臨時稅課或附加稅課
(B)直轄市政府、縣（市）政府為辦理自治事項，充裕財源，得就現有之各類國稅中附加徵收
(C)各稅之受償地方稅優先於國稅，鄉（鎮、市）稅優先於縣（市）稅
(D)特別稅課及附加稅課之課徵年限至多 4 年，臨時稅課至多 2 年，年限屆滿仍需繼續課徵者，應依規定重行辦理

測驗式試題標準答案

考試名稱：112年特種考試地方政府公務人員考試

類科名稱：財稅行政

科目名稱：稅務法規（試題代號：4313）

更多地特考試科目的歷屆題庫
立即上網搜尋“地特歷屆考古題懶人包”
高鋒公職補習班整理
Line@帳號：@gaofeng
連絡電話：07-236-7296

單選題數：25題　　單選每題配分：2.00分

複選題數：　　複選每題配分：

標準答案：

題號	第1題	第2題	第3題	第4題	第5題	第6題	第7題	第8題	第9題	第10題
答案	A	C	A	D	B	B	C	D	A	D

題號	第11題	第12題	第13題	第14題	第15題	第16題	第17題	第18題	第19題	第20題
答案	C	C	A	A	B	A	D	C	A	D

題號	第21題	第22題	第23題	第24題	第25題	第26題	第27題	第28題	第29題	第30題
答案	B	D	B	D	B					

題號	第31題	第32題	第33題	第34題	第35題	第36題	第37題	第38題	第39題	第40題
答案										

題號	第41題	第42題	第43題	第44題	第45題	第46題	第47題	第48題	第49題	第50題
答案										

題號	第51題	第52題	第53題	第54題	第55題	第56題	第57題	第58題	第59題	第60題
答案										

題號	第61題	第62題	第63題	第64題	第65題	第66題	第67題	第68題	第69題	第70題
答案										

題號	第71題	第72題	第73題	第74題	第75題	第76題	第77題	第78題	第79題	第80題
答案										

題號	第81題	第82題	第83題	第84題	第85題	第86題	第87題	第88題	第89題	第90題
答案										

題號	第91題	第92題	第93題	第94題	第95題	第96題	第97題	第98題	第99題	第100題
答案										

備　　註：