112 年特種考試地方政府公務人員考試試題

等　　別：三等考試
類　　科：各類科（除公職社會工作師、公職獸醫師、公職建築師外）
科　　目：國文（作文與測驗）
考試時間：2 小時　　座號：_____

更多地特考試科目的歷屆題庫
立即上網搜尋“地特歷屆考古題懶人包”
高鋒公職補習班整理
Line@帳號：@gaofeng
連絡電話：07-236-7296

※注意：㈠禁止使用電子計算器。
㈡本科目試題包括作文及測驗兩部分，請妥適分配各題作答時間。

甲、作文部分：（80 分）
㈠作答時請將試題題號及答案依照順序寫在申論試卷上，並以藍、黑色鋼筆或原子筆由左至右橫式作答，於本試題上作答者，不予計分。
㈡不得於試卷上書寫姓名或座號。

心理學家指出：人之所以不自由，是因為人從出生開始，就會不斷的去尋找、去獲取一個「位置」，這種位置其實是無中生有的，但終究每個人都得有一個位置。例如兩個人結婚之後，男人取得了丈夫的位置，女人取得了妻子的位置；再來，原本沒有位置的嬰兒出生之後，就會在夫妻兩人已經慢慢發展出的相處模式中，擠出一個位置來，進而影響了夫妻原來的位置及其互動。有時候母子的關係特別親暱，而使得丈夫覺得被忽略，三人之間的感情與互動，就會跟著改變。此時，丈夫與妻子必須重新定義自己的位置，將「父親、母親」的責任加進去。

事實上，每個人終其一生，都在想盡辦法、各憑本事，尋找自己所要的位置，尋找位置不僅是無中生有，而且也是自我肯定的方式。尋求位置或取得位置可以用「定位」兩個字來詮釋，用什麼來定位自己和別人、如何定位自己和定位別人、什麼是最適合自己的定位，是每個人都必須深思的課題。

根據上文，請就下列兩問題作答：
一、文中的「位置」，為何會造成人的不自由？（20 分）
二、請以「**如何找到正確的自我定位**」為題，作文一篇，闡述自己的體驗與想法。（60 分）

乙、測驗部分：（20分）　　代號：1301
㈠本試題為單一選擇題，請選出一個正確或最適當答案。
㈡共10題，每題2分，須用2B鉛筆在試卡上依題號清楚劃記，於本試題或申論試卷上作答者，不予計分。

1 「最近小弟的店剛開張，歡迎王大哥『蒞臨寶號』，前來敘舊，以示『音容宛在』，身體康健。我們很久沒有見面，這次一定要好好『說長道短』，聊個過癮。他日得空，也希望能到『府上拜訪』。」
上文是小李寫給王大哥的簡訊，邀請他前來自己開幕的店，『　』處何者用法正確？
(A)蒞臨寶號　(B)音容宛在　(C)說長道短　(D)府上拜訪

2「冬至是古代的大日子，有不少食俗與冬至相關，如北方吃餃子，南方吃餛飩之俗。此食風起於漢代，傳說冬至天寒，戶外活動易凍傷耳朵，名醫張仲景熬煮去寒嬌耳湯，以羊肉、花椒做成耳狀麵食驅寒，遂成日後北方水餃。冬至一陽生，天地從陰中生陽，混沌初開，餛飩即由此得名，廣東人的雲吞亦借此音，但福建人把餛飩叫扁食，象徵天地之間扁扁隆起的形狀。又有傳說餛飩是西施所創，因吳王夫差胃口不佳，為其所做的小食。」
根據上文，下列敘述何者錯誤？
(A)冬至為陰行至極，陽氣始生之日，是節氣循環的關鍵
(B)由於冬至苦寒，水餃與餛飩皆為熱食，可以驅逐寒氣
(C)北方吃水餃，南方食餛飩，起於漢代，皆與西施有關
(D)餛飩在南方不同地方各有其名，皆有傳說或象徵之源

3「自然人所有之最大起飛重量二百五十公克以上之遙控無人機，及政府機關（構）、學校或法人所有之遙控無人機，應由其所有人檢附下列文件向交通部民用航空局（以下簡稱民航局）申請註冊，並於註冊完成後，將民航局賦予之註冊號碼標明於遙控無人機上顯著之處後，始得操作：一、自然人：檢附申請書及國民身分證或僑民居留證明影本。二、政府機關（構）、學校及法人：檢附申請書及其登記證明文件。」
下列何種情境合乎上述規定？
(A)阿香買來自用的無人機不到二百公克，所以就不需要註冊
(B)小花網購買自用的二百五十公克無人機，不用註冊可起飛
(C)阿德用公司名義買無人機僅二百四十九公克，就不需註冊
(D)小明幫學校購買一百公克輕型無人機，可立即在戶外試飛

4「1995 年，惠普（Hewlett-Packard）聯合創始人戴維．帕卡德（David Packard）談及一些企業領導者面臨的危險時，曾發出過這樣的警告：這些領導者在職場上做的『加法』太多，『減法』太少。直到今日，仍有太多領導者喜歡不斷做『加法』。並不是說『加法』不好，只是當領導者給員工增派任務，增加軟體、會議、規則、培訓，以及各種要求，組織會變得過於複雜，員工將不堪重負。同時，資源會太過分散，以至於工作中各方面都會受到影響。對許多企業來說，反其道而行，才是成功的關鍵。減法讓頭腦清醒，有時間專注於真正重要的事，為創造性工作奠定了基礎，留出了失敗、擔憂與討論的空間，可以去嘗試那些看似瘋狂的想法。這些想法可以改變一家企業，讓員工變得更快樂，更有效率。」
根據上文，中國先秦諸子思想，何者符合文中所述的成功關鍵？
(A)儒家　(B)道家　(C)墨家　(D)法家

5「『文明』在最初只是匿藏於人類顱骨中的一個執念，只是在說『我想知道』而已。想知道什麼？什麼都想知道。也正是在這樣的欲力驅動之下，人類發現知識、主導宗教、建立制度、辯證概念、創造文明，從而意圖以文明規範事物、解釋世界、理解世界。這些『理論』成形之後，由於人類對自己的執念與智慧之自信，理論遂成了主導一切的壓倒性力量。」
關於「文明」的敘述，下列那一個選項最接近上文旨意？
(A)就是人類對於完美世界的投射　(B)不證自明而成為壓倒性的力量
(C)由人類對顱骨蘊藏的執念形成　(D)是由許多理論所主導而建構的

6「有人在死滅的枯木裡找到生命，聽到大風呼嘯，聽到巨雷的霹靂，聽到火焰嘶嘶燃燒的聲音，聽到暴雨，聽到蟲蝕，也聽到被冰雪壓到斷裂的嘎嘎叫聲。大寒之前，最後一個節氣，總會告訴我們凝寒死滅的真正意義吧！無端想起他的詩句：『寒凝大地發春華』。一切寒凝死滅之後，才有春天的花綻放嗎？」
下列何者最接近本文意旨？
(A)時過於期，否終則泰　(B)日中則昃，月盈則食
(C)樂則行之，憂則違之　(D)觀乎天文，以察時變

7「有些演員越遠離自己的性格、環境和成長過程，反而演得越好，因此不能一概而論。不過，演員的存在感還是不能完全倚靠虛構，即使是荒誕無稽的故事，裡頭的人類也需要呼吸、飲食和行走，不可能完全切離現實來塑造其肉體、聲音和皺紋的生命史。」
根據上文，下列選項最符合文意的是：
(A)角色的性格、環境和成長過程，要越遠離演員的真實越好
(B)即使角色是虛構的，也要能夠符合現實社會的人類存在感
(C)導演要特別注意，演員在演出時呼吸、飲食和行走的樣態
(D)演員要能對劇中人物的肉體、聲音、皺紋等加以學習揣摩

8「遠大的事業，需要毅力和耐心一點一滴地累積出來。莊子筆下鯤化鵬飛的過程中，首要強調積厚之功，其後文說：『夫水之積也不厚，則其負大舟也無力……風之積也不厚，則其負大翼也無力。』行文中，『化』、『怒』(『努』)、『海運』、『積厚』等關鍵語詞，無不蘊含著鯤化鵬飛需要具備主客觀條件：海水深厚，才能畜養巨鯤；海風強勁，才能運送大鵬——這是所需的客觀條件。鯤的潛藏海底，深畜厚養，乃能『化而為鵬』，鯤的變化需要經年累月的養育之功，乃能由量變到質變——『積厚』的工夫是完成生命氣質變化的充分而必要的主觀條件。」
下列選項，何者最符合本文意旨？
(A)凡事但求盡心，功成不必在我
(B)沒有沉潛積厚之功，生命氣質無法轉變
(C)沒有付出與好運，無法成就偉大的功業
(D)人生必須不斷的努力，才能夠脫穎而出

9「臺灣因為地勢問題仰賴水庫蓄水，但河川夾帶上游泥沙，水庫底不斷產生淤泥。淤泥這種具備黏性且高含水的特質，過去除了填海造陸外，便只能作為建築物的輕質骨材，可是近年新的價值被提煉出來。臺灣陶土生產不多，便有在地業者與藝術家透過對水庫淤泥特性的研究，嘗試用這項材料取代陶土。線型經濟讓原料只從『搖籃到墳墓』，有限的地球資源不斷消耗，而製造過程則不斷有廢棄物產出，現代的循環經濟則是『搖籃到搖籃』的設計原則，廢棄物可以轉為原料，讓資源不停地循環使用。水庫淤泥透過循環經濟的概念，就可以讓這些廢棄物，藉由原有特性，重新發揮新的價值。」
下列那個選項最符合上文的要旨？
(A)水庫淤泥的特性在於具黏性且含水量低
(B)線型經濟可以讓所有的廢棄物轉為原料
(C)現代循環經濟仍處在需要扶助的搖籃期
(D)運用廢棄物的特性可以取代既有的原料

10 「『虛擬實境』與『擴增實境』已逐漸應用在各種領域中，並且相當程度地協助人類解決生活中遭遇到的諸多問題。因為『科技始終來自於人性』，科技是一種工具，所以自始至終都應該為人所用，目的是為了幫助人類改善生活。以教育領域來說，教師可以採用 VR 技術工具，帶領學生進行浸入式學習。教師也可以採用 AR 技術工具與學生互動，直接畫出圖像文字，讓學習這件事變得更為生動有趣。學生有了身歷其境的真實感受後，還是要回到現實的世界中，就感官經驗轉換成與人溝通互動的語言與文字，並且應用高層次的思考能力，深入分析探討其意義。如此才是科技工具的正用而非誤用。」

關於使用新科技在教學上，下列何者最符合上文要旨？

(A)新科技可以讓學生沉浸在更加美好的世界

(B)學生使用新科技可以享受更好的感官刺激

(C)新科技的使用仍需教師引導學生進行思考

(D)未來新科技可以取代教師來教導學生互動

測驗式試題標準答案

考試名稱：112年特種考試地方政府公務人員考試

類科名稱：環保行政、體育行政、新聞(選試英文)、資訊處理、法律廉政、觀光行政(選試觀光日語)、水土保持工程、農業行政、地政、景觀、交通行政、教育行政、原住民族行政、一般民政、法制、水利工程、環保技術、動物技術、交通技術、電子工程、環境檢驗、電力工程、林業技術、商業行政、衛生技術、農業技術、工業工程、化學工程、土木工程、養殖技術、衛生行政、都市計畫技術、一般行政、財稅行政、社會行政、人事行政、環境工程、戶政、食品衛生檢驗、經建行政、職業安全衛生、統計、財經廉政、會計、機械工程、客家事務行政、文化行政、建築工程、勞工行政、測量製圖

科目名稱：國文（作文與測驗）（試題代號：1301）

更多地特考試科目的歷屆題庫
立即上網搜尋“地特歷屆考古題懶人包”
高鋒公職補習班整理
Line@帳號：@gaofeng
連絡電話：07-236-7296

單選題數：10題　　單選每題配分：2.00分

複選題數：　　複選每題配分：

標準答案：

題號	第1題	第2題	第3題	第4題	第5題	第6題	第7題	第8題	第9題	第10題
答案	D	C	A	B	D	A	B	B	D	C

題號	第11題	第12題	第13題	第14題	第15題	第16題	第17題	第18題	第19題	第20題
答案										

題號	第21題	第22題	第23題	第24題	第25題	第26題	第27題	第28題	第29題	第30題
答案										

題號	第31題	第32題	第33題	第34題	第35題	第36題	第37題	第38題	第39題	第40題
答案										

題號	第41題	第42題	第43題	第44題	第45題	第46題	第47題	第48題	第49題	第50題
答案										

題號	第51題	第52題	第53題	第54題	第55題	第56題	第57題	第58題	第59題	第60題
答案										

題號	第61題	第62題	第63題	第64題	第65題	第66題	第67題	第68題	第69題	第70題
答案										

題號	第71題	第72題	第73題	第74題	第75題	第76題	第77題	第78題	第79題	第80題
答案										

題號	第81題	第82題	第83題	第84題	第85題	第86題	第87題	第88題	第89題	第90題
答案										

題號	第91題	第92題	第93題	第94題	第95題	第96題	第97題	第98題	第99題	第100題
答案										

備　　註：

112 年特種考試地方政府公務人員考試試題

等　　別：三等考試
類　　科：各類科（除公職社會工作師、公職獸醫師、公職建築師外）
科　　目：法學知識與英文（包括中華民國憲法、法學緒論、英文）
考試時間：1 小時　　座號：_____

※注意：㈠本試題為單一選擇題，請選出一個正確或最適當答案。
㈡共50題，每題2分，須用2B鉛筆在試卡上依題號清楚劃記，於本試題上作答者，不予計分。
㈢禁止使用電子計算器。

更多地特考試科目的歷屆題庫
立即上網搜尋“地特歷屆考古題懶人包”
高鋒公職補習班整理
Line@帳號：@gaofeng
連絡電話：07-236-7296

1 依憲法及司法院大法官相關解釋，有關行政院與立法院之關係，下列敘述何者錯誤？
(A)立法委員有向行政院院長質詢之權
(B)立法院有向行政院調閱文件之權
(C)行政院有向立法院提出施政報告且備詢之義務
(D)立法委員如認為行政院院長有違法失職，得對之提出彈劾案

2 下列何者不屬於憲法明文規定之平等？
(A)國民教育機會平等　(B)兩性實質地位平等　(C)各民族語言平等　(D)平等選舉原則

3 依據憲法增修條文及憲法訴訟法之相關規定，關於解散違憲政黨之審理程序，下列敘述何者正確？
(A)人民因憲法權利遭受特定政黨不法侵害，得向憲法法庭提出系爭政黨違憲解散之聲請
(B)違憲政黨之解散事項，應由憲法法庭審理之
(C)大法官受理政黨違憲解散之聲請後，必要時得行言詞辯論
(D)宣告政黨解散之判決，其評決應經大法官現有總額過半數之同意

4 依憲法增修條文第 10 條規定，下列何者不在憲法基本國策保障範圍內？
(A)國家獎勵中醫研究發展　(B)國家鼓勵退役軍人攻讀學位
(C)國家保障新移民之工作　(D)國家提供創業貸款促進科技產業新創及升級

5 關於憲法上人民選舉、罷免、創制、複決權之行使，下列何者沒有立法形成空間？
(A)選舉權人之積極資格　(B)被選舉人之消極資格
(C)各種選舉之婦女當選名額　(D)憲法中之各種選舉以無記名投票行之

6 依司法院大法官解釋之意旨，下列何者非屬憲法第 13 條宗教自由之保障範圍？
(A)不信仰宗教　(B)公立學校開設宗教課程
(C)組織教會　(D)定時禮拜

7 下列何者非屬總統之職權？
(A)依法任免文武官員　(B)依法行使特赦權　(C)依法提出預算案　(D)統率全國陸海空軍

8 地方法院法官於審理案件時，對於應適用之法律，依其合理之確信，認為有牴觸憲法之疑義者，得如何處理？
(A)層轉最高法院表示法律見解　(B)直接宣告該法律違憲
(C)停止訴訟程序，聲請憲法法庭判決　(D)逕自拒絕適用違憲法律

9 下列何者不是憲法本文規定之地方自治團體？
(A)省　(B)直轄市　(C)縣　(D)鄉鎮市

10 監察院對軍人提出彈劾案時，應移送何機關進行審議？
(A)國防部　(B)軍事法院　(C)行政法院　(D)懲戒法院

11 下列何者是認為「法是一些條件的統合，在這些條件下，個人的意志與其他人的意志，可依據自由的一般法則而相互結合」的哲學家？
(A)亞里斯多德（Aristoteles）　(B)霍布斯（Hobbes）
(C)康德（Kant）　(D)黑格爾（Hegel）

12 臺灣法體系在戰後繼受了許多美國法的制度與概念，下列何者屬之？
(A)懲罰性損害賠償　(B)契約自由　(C)罪刑法定　(D)慰撫金

13 關於法規的訂定及名稱，下列敘述何者錯誤？
(A)「法律」由立法院通過，得名之為「律」
(B)「法規命令」由行政機關基於法律授權而訂定，得名之為「通則」
(C)「地方自治法規」由地方立法機關通過、各該地方行政機關公布者，係「自治條例」
(D)地方立法機關得訂定「自律規則」，並報各該上級政府備查

14 關於法律解釋方法，下列敘述何者錯誤？
(A)論理解釋有時亦稱體系解釋
(B)論理解釋乃從法律條文之邏輯結構和體系，考量整體法規範之意義而做之解釋
(C)法條規定之文意若過寬，此時應採取擴充解釋之方法，使其意義出現
(D)由法條字面之意思，推論其反對結果，從而探求法文真意的解釋方法，稱為反面解釋

15 關於刑法之職務上行為受賄罪，下列敘述何者錯誤？
(A)賄賂與職務上行為之間必須有對價性
(B)本罪客體之賄賂，係指金錢或其他得以金錢計算之財物
(C)職務上行為除作為外，亦包括不作為
(D)公務員接受好友年節贈禮，即成立職務上行為受賄罪

16 下列何者不屬於公司法第 8 條規定之有限公司的公司負責人？
(A)董事 (B)經理人 (C)發起人 (D)清算人

17 關於勞動基準法第 9 條之 1 離職後競業禁止之規定，下列敘述何者錯誤？
(A)雇主有應受保護之正當營業利益，始可為競業禁止約定
(B)競業禁止之期間、區域、職業活動之範圍及就業對象，須未逾合理範疇
(C)雇主對勞工因不從事競業行為所受損失須給合理補償
(D)前述合理補償，可包括勞工於工作期間所受領之給付

18 鄉（鎮、市）民代表及鄉（鎮、市）長選舉，由下列何者辦理之？
(A)鄉（鎮、市）選舉委員會 (B)縣選舉委員會
(C)省選舉委員會 (D)中央選舉委員會

19 依民法之規定，下列何種請求權，不會因為 2 年間不行使而消滅？
(A)承租人之償還費用請求權 (B)承租人之工作物取回權
(C)買受人之交付標的物請求權 (D)承攬人之報酬請求權

20 關於性別平等工作法所規範「生理假」，下列敘述何者正確？
(A)女性受僱者每個月皆可請生理假 1 日
(B)生理假併入病假計算的部分，薪資可全額領取
(C)為避免女性受僱者濫用生理假，女性受僱者請生理假原則上應提出證明文件
(D)女性受僱者只有因生理日導致工作有困難時，才可以請生理假

21 The report has to be redone because it is totally _____ of organization and content.
(A) deployed (B) devoid (C) exclusive (D) excessive

22 Because John did not get enough exposure to sunlight, his test results showed that he was at the risk of vitamin D _____.
(A) deficiency (B) superfluity (C) degeneration (D) sufficiency

23 The manager is unlikely to _____ this proposal, for it involves huge investment without promising outcome.
(A) introspect (B) discredit (C) contravene (D) endorse

24 He didn't feel any _____ for his school days, which were nothing but exams and unreasonable expectations from parents and teachers.
(A) commencement (B) nostalgia (C) sympathy (D) reconciliation

25 He lives in the immediate _____ of the school, not only shortening the time on commuting but also sparing more time for sleep.
(A) veracity (B) velocity (C) vicinity (D) verbosity

26 Sarah has been a hard-working employee in the company, but _____ speaking, she needs more professional expertise before she can be promoted.
(A) frequently (B) previously (C) technically (D) uniquely

27 Lina is the leader of this group project; she needs to _____ and help improve her group members' work performance.
(A) boycott (B) duplicate (C) retrieve (D) supervise

28 We are often _____ of the amount of salt we consume. Hence, we should check nutrition labels to see how much sodium is in a product before purchasing it.
(A) independent (B) fond (C) deprived (D) unaware

29 According to the report, the government is to increase spending next year in a bid to stimulate domestic demand and GDP growth as exports might continue to fall due to a _____ global economy.
(A) booming (B) sluggish (C) buoyant (D) thriving

30 As commodity prices have grown _____ recently, low-income families are struggling to put food on the table.
(A) exponentially (B) numerously (C) ostensibly (D) vengefully

31 The high-tech company planned to _____ new program engineers who specialized in troubleshooting computer systems.
(A) recur (B) recollect (C) refund (D) recruit

32 The team had a great season and made it to the playoffs; _____, they were ultimately defeated in the final game.
(A) hence (B) likewise (C) accordingly (D) nevertheless

33 If you park next to the "No Parking" sign, you will get a ticket for a traffic _____.
(A)ventilation (B) version (C) victimization (D) violation

34 His _____ and outgoing personality had a positive effect on his ability to collaborate with his co-workers.
(A) extraverted (B) inflexible (C) obstinate (D) refractory

35 The lawyer’s _____ argument, with its logical reasoning and supporting evidence, convinced the jury of his client’s innocence.
(A) feeble (B) ineffective (C) persuasive (D) unconvincing

36 The new smartphone _____ a high-resolution camera that can capture great photographs even in low-light conditions.
(A) overthrows (B) abandons (C) dismantles (D) features

37 Nowadays, it is essential for salespeople to learn some problem-solving _____ to cope with difficult situations they will encounter in the workplace.
(A) facilities (B) strategies (C) reservations (D) transformations

38 The young artist was determined to _____ his skills as a musician, practicing diligently every day.
(A) lace (B) race (C) hone (D) zone

39 The newly-married couple found it hard to save money because they had to spend a large _____ of their budget on food and rent.
(A) proportion (B) proposal (C) promotion (D) progression

40 The _____ probe caused the data to be corrupted, affecting the accuracy of the experiment’s results.
(A) efficient (B) malfunctioning (C) affluent (D) outstanding

請依下文回答第 41 至第 45 題：

Wolf pack leadership has long been of great interest to many scientists. What makes a wolf decide to __41__ out on its own and assert leadership of its pack? That question has long __42__ scientists. Now, a new study shows that gray wolves infected with the parasite Toxoplasma gondii are more likely to become top dogs than uninfected wolves. The finding forces us to think more broadly about what influences how animals act, says Kira Cassidy, a __43__ biologist. Toxoplasma gondii is a single-celled parasite that infects at least one-third of the world’s human population at any given time with the disease toxoplasmosis. __44__ the infection is usually mild, it can be fatal to the young or immune-suppressed. It’s famous for its ability to __45__ its hosts, most notably in making rodents reckless around house cats. Toxoplasma can only reproduce in the intestines of domestic or wild cats, yet it is widespread in nature, and can infect any warm-blooded animal.

41 (A) strike (B) churn (C) phase (D) blurt

42 (A) laminated (B) intrigued (C) paralleled (D) traversed

43 (A) marine (B) nutritional (C) wildlife (D) forensic

44 (A) While (B) What (C) Which (D) How

45 (A) transplant (B) manipulate (C) demobilize (D) impoverish

請依下文回答第 46 至第 50 題：

Soon after ChatGPT debuted in 2022, researchers tested what the artificial intelligence (AI) chatbot would write after it was asked questions peppered with conspiracy theories and false narratives. The results — in writings formatted as news articles, essays and television scripts — were so troubling that the researchers minced no words in their criticism of the new technology. Researchers predict that generative technology like ChatGPT could make disinformation cheaper and easier to produce for an even larger number of conspiracy theorists and spreaders of disinformation. Personalized, real-time chatbots could share conspiracy theories in increasingly credible and persuasive ways, researchers say, smoothing out human errors like poor syntax and mistranslations and advancing beyond easily discoverable copy-paste jobs. And they say that no available mitigation tactics can effectively combat it.

Predecessors to ChatGPT, which was created by the company OpenAI, have been used for years to pepper online forums and social media platforms with comments and spam. Microsoft had to halt activity from its Tay chatbot within 24 hours of introducing it on Twitter in 2016 after trolls taught it to spew racist and xenophobic language. ChatGPT is far more powerful and sophisticated. Supplied with questions loaded with disinformation, it can produce convincing, clean variations on the content within seconds, without disclosing its sources. Recently, Microsoft and OpenAI introduced a new Bing search engine and web browser that can use chatbot technology to plan vacations, translate texts or conduct research.

OpenAI researchers have long been nervous about chatbots falling into villainous hands. In a 2019 paper, they voiced their concern about their chatbot’s capabilities to lower costs of disinformation campaigns and aid in the malicious pursuit of monetary gains, particular political agendas, and/or desires to create chaos or confusion. OpenAI uses machines and humans to monitor content that is fed into and produced by ChatGPT. The company relies on both its human AI trainers and feedback from users to identify and filter out toxic training data while teaching ChatGPT to produce better-informed responses. OpenAI’s policies prohibit use of its technology to promote dishonesty, deceive or manipulate users or attempt to influence politics; the company offers a free moderation tool to handle content that promotes hate, self-harm, violence or sex.

46 What is the main idea of this passage?
(A) ChatGPT should not be used by conspiracy theorists and fake news spreaders.
(B) ChatGPT developers believe their chatbot can help users discern misinformation.
(C) Newly developed chatbots like ChatGPT can produce well-formatted news articles.
(D) Misinformation is a serious problem with ChatGPT, which is hard to solve.

47 Which of the following statements is true about the Tay chatbot?
(A) It was removed from shelves on the first day in the market.
(B) It was an advanced chatbot developed by OpenAI.
(C) Microsoft debuted it in 2016 to compete with ChatGPT.
(D) It was a failure because it was slow in learning new content.

48 According to the passage, what could be the best use of ChatGPT?
(A) Screening out sensitive content that promotes hate, self-harm, violence or sex.
(B) Designing travel itineraries, designing studies, or writing TV scripts instantly.
(C) Recognizing malicious software and political materials when processing input data.
(D) Lowering costs of disinformation campaigns for politicians.

49 According to the passage, which of the following is NOT done by ChatGPT designers in order to reduce disinformation?
(A) Warning users that ChatGPT may sometimes respond with biased answers.
(B) Using humans and algorithms to check improper content generated by ChatGPT.
(C) Avoiding grammatical errors and wrong translations in the produced texts.
(D) Hiring human AI trainers to remove bad training materials from the database.

50 Which of the following best describes the purpose of this passage?
(A) To promote the use of ChatGPT as a new search engine.
(B) To explain how ChatGPT was developed by misinformation researchers.
(C) To raise alarms about newly developed AI chatbots like ChatGPT.
(D) To reduce readers’ worries about intelligent AI chatbots like ChatGPT.

測驗式試題標準答案

考試名稱：112年特種考試地方政府公務人員考試

類科名稱：會計、化學工程、勞工行政、工業工程、一般行政、經建行政、文化行政、資訊處理、新聞(選試英文)、建築工程、環境工程、測量製圖、社會行政、一般民政、商業行政、農業技術、法律廉政、客家事務行政、環保行政、水利工程、統計、水土保持工程、農業行政、觀光行政(選試觀光日語)、人事行政、食品衛生檢驗、財經廉政、地政、都市計畫技術、景觀、養殖技術、環境檢驗、交通技術、職業安全衛生、衛生技術、林業技術、財稅行政、法制、衛生行政、機械工程、體育行政、電子工程、電力工程、環保技術、戶政、教育行政、原住民族行政、土木工程、動物技術、交通行政

科目名稱：法學知識與英文（包括中華民國憲法、法學緒論、英文）（試題代號：2301）

更多地特考試科目的歷屆題庫
立即上網搜尋“地特歷屆考古題懶人包”
高鋒公職補習班整理
Line@帳號：@gaofeng
連絡電話：07-236-7296

單選題數：50題　　單選每題配分：2.00分

複選題數：　　複選每題配分：

標準答案：

題號	第1題	第2題	第3題	第4題	第5題	第6題	第7題	第8題	第9題	第10題
答案	D	C	B	C	D	B	C	C	D	D

題號	第11題	第12題	第13題	第14題	第15題	第16題	第17題	第18題	第19題	第20題
答案	C	A	B	C	D	C	D	B	C	D

題號	第21題	第22題	第23題	第24題	第25題	第26題	第27題	第28題	第29題	第30題
答案	B	A	D	B	C	C	D	D	B	A

題號	第31題	第32題	第33題	第34題	第35題	第36題	第37題	第38題	第39題	第40題
答案	D	D	D	A	C	D	B	C	A	B

題號	第41題	第42題	第43題	第44題	第45題	第46題	第47題	第48題	第49題	第50題
答案	A	B	C	A	B	D	A	B	C	C

題號	第51題	第52題	第53題	第54題	第55題	第56題	第57題	第58題	第59題	第60題
答案										

題號	第61題	第62題	第63題	第64題	第65題	第66題	第67題	第68題	第69題	第70題
答案										

題號	第71題	第72題	第73題	第74題	第75題	第76題	第77題	第78題	第79題	第80題
答案										

題號	第81題	第82題	第83題	第84題	第85題	第86題	第87題	第88題	第89題	第90題
答案										

題號	第91題	第92題	第93題	第94題	第95題	第96題	第97題	第98題	第99題	第100題
答案										

備　　註：

代號：31440
頁次：4－1

112 年特種考試地方政府公務人員考試試題

等　　別：三等考試
類　　科：會計
科　　目：審計學
考試時間：2 小時

更多地特考試科目的歷屆題庫
立即上網搜尋“地特歷屆考古題懶人包”
高鋒公職補習班整理
Line@帳號：@gaofeng
連絡電話：07-236-7296

座號：_____

※注意：禁止使用電子計算器。

甲、申論題部分：（50分）

㈠不必抄題，作答時請將試題題號及答案依照順序寫在申論試卷上，於本試題上作答者，不予計分。
㈡請以藍、黑色鋼筆或原子筆在申論試卷上作答。
㈢本科目除專門名詞或數理公式外，應使用本國文字作答。

一、查核人員於評估個別項目聲明之固有風險時，如認為該個別項目聲明係屬顯著風險（significant risk），則查核人員應執行某些必要之因應對策，請列舉至少三項必要之因應對策。（15 分）

二、依品質管理準則 1 號（TWSQM1）「會計師事務所之品質管理」規定，事務所應採用風險基礎方法，以相互連結且協調之方式設計、付諸實行及執行品質管理制度之各項品質要素，俾使事務所能主動管理其所執行案件之品質。請說明品質管理制度應包括那些品質要素？（15 分）

三、請回答下列有關會計師查核報告的問題：（每小題 10 分，共 20 分）

㈠受查公司連年發生虧損，且下年度亦將有一筆負債即將到期，該等事實顯示受查公司可能存有繼續經營的不確定性。會計師進行相關證據蒐集後，認為管理階層所採行的因應措施可以消除繼續經營的不確定性，因而判斷管理階層採用繼續經營會計基礎編製財務報表係屬適當，且已於財務報表附註中做充分的揭露。如果會計師欲於查核報告中與財務報表使用者溝通受查者有關繼續經營的不確定性的疑慮及查核人員查核程序上的因應，則會計師於何段（section）說明較為適當？並請說明其理由。

㈡何謂強調事項及其他事項？如果會計師想要限制查核報告分送或使用，則應於查核報告中何段說明較為適當？

乙、測驗題部分：（50分）　　代號：4314

㈠本試題為單一選擇題，請選出一個正確或最適當答案。
㈡共25題，每題2分，須用2B鉛筆在試卡上依題號清楚劃記，於本試題或申論試卷上作答者，不予計分。

1 會計師提供下列何種之專業服務可以收取或有公費（contingent fee）？
(A)財務報表查核　(B)租稅之行政救濟訴訟
(C)代編租稅申報資料　(D)代編財務報表

2 依據最新發布審計準則之規定，下列敘述何者錯誤？
(A)對財務報表具重大影響之新會計準則之提前適用，可於查核報告納入「強調事項」段說明
(B)會計師擬區分查核責任時，除於「查核意見」段及「查核意見之基礎」段提及其他會計師之查核外，應於查核報告納入其他事項說明未經集團查核團隊查核與由其他會計師查核之範圍
(C)使受查者繼續經營之能力可能產生重大疑慮之事件或情況存在重大不確定性時所須作之報導，且於財務報表適當揭露時，會計師可於查核報告中納入「強調事項」段加以敘明該事件或情況，並指出未因此而修正查核意見
(D)管理階層如未提供對財務報表編製責任之書面聲明，會計師應對財務報表出具「無法表示意見」之查核報告

3 審計準則 700 號「財務報表查核報告」依財務報導架構是否追求財務報導應反映企業經營經濟實質，而將受查者所適用之財務報導架構區分為允當表達架構及遵循架構，下列何者為遵循架構？
(A)國際財務報導準則　(B)美國一般公認會計準則
(C)企業會計準則　(D)主管機關法令訂定之財務報導規定

4 為使會計師事務所能主動管理其所執行案件之品質，品質管理準則規定事務所應採用風險基礎方法。該方法包括下列那些步驟？①建立品質目標　②辨認並評估達成品質目標之風險　③設計並付諸實行品質風險之因應對策　④針對因應對策執行成果，複核案件品質
(A)僅②③　(B)僅①②③　(C)僅②③④　(D)①②③④

5 下列何者為關鍵查核事項之定義？
(A)依會計師之專業判斷，對本期財務報表之查核最花時間的項目
(B)依會計師之專業判斷，對本期財務報表之查核最容易出錯的項目
(C)依會計師之專業判斷，對本期財務報表之查核最為重要的項目
(D)依會計師之專業判斷，對本期財務報表之查核中金額最高的項目

6 有關查核人員針對內部控制缺失之「顯著缺失」應有之專業判斷，下列敘述何者錯誤？
(A)查核人員已辨認出非屬內部控制顯著缺失之其他缺失，除非管理階層要求，得不以書面與管理階層及治理單位溝通，惟須注意該項缺失與其他缺失合併考量是否構成顯著缺失
(B)查核人員如已辨認出內部控制顯著缺失，如果管理階層已對該等缺失及時採行更正行動，查核人員仍應將該項缺失與更正行動記載於工作底稿中，但不必再以書面與治理單位溝通
(C)對內部控制顯著缺失採取更正行動之成本效益評估係管理階層之責任，會計師沒有義務要求管理階層必須採行更正行動，但仍須將該等內部控制顯著缺失以書面與治理單位溝通
(D)查核人員以書面溝通內部控制顯著缺失時，應對管理階層及治理單位敘明，查核之目的係對財務報表表示意見，考量有關之內部控制，僅為設計適當之查核程序，而非對內部控制之有效性表示意見

7 當查核人員複核查核中所發現的未更正不實表達的彙總時，下列查核人員的因應何者較為適當？
(A)要求受查者必須對所有的不實表達編製調整分錄
(B)必須彙總個別非重大不實表達項目，以評估彙整後的金額是否具重大性
(C)無須考慮以前年度未更正不實表達對當期財務報表的影響
(D)僅須要考量會影響損益表的不實表達

8 會計師發現財務比率有以下的變動：存貨週轉率由前期的 5.3 下降為本期的 4.2；應收帳款週轉率由前期的 7.8 降為本期的 5.6；銷貨收入成長率由前期的 8%增加為本期的 16%。根據上述資訊，下列何者最不可能為會計師所作成之結論？
(A)因應銷貨急速成長，期末存貨備貨增加
(B)銷貨集中在期末，導致應收帳款無法及時收現
(C)銷貨收入有虛增之可能，須增加其他查核程序
(D)公司縮短授信天數，導致應收帳款週轉率下降

9 查核人員於執行風險評估程序時，使用分析性程序的主要目的為何？
(A)辨認內部控制制度之缺失 (B)辨認管理階層踰越控制的風險
(C)獲取支持個別項目聲明之證據 (D)辨認重大不實表達風險

10 依審計準則 500 號「查核證據」之規定，下列敘述何者錯誤？
(A)股票或債券可視為金融工具存在之證明文件，惟檢查此等文件未必可提供有關所有權及價值之查核證據
(B)檢查期後應收款項收現之文件，可能提供與截止有關之查核證據，但無法提供與存在及評價有關之查核證據
(C)某個人或組織可能具有運用模型以估計無可觀察市場之證券公允價值所需專門知識，若受查者採用該個人或組織運用該專門知識所作之估計以編製財務報表，則該個人或組織即為管理階層專家
(D)若個人或組織僅提供受查者無法取得之非公開交易價格資訊，而受查者於本身之估計方法中採用此資訊，且查核人員以此資訊作為查核證據時，則非屬受查者對管理階層專家之採用

11 有關固有風險之敘述，下列何者正確？
(A)是指財務報表查核前，查核人員不知道的重大不實表達風險
(B)是指財務報表查核後，查核人員不知道的重大不實表達風險
(C)是指查核人員運用查核程序無法偵測出錯誤的風險
(D)是指考量內部控制前，財務報表可能存在之重大不實表達風險

12 下列何者並非查核人員執行控制測試所考量的原因？
(A)執行該控制測試之成本低於直接執行證實程序之成本
(B)該控制點可能引起財報重大不實的聲明
(C)該控制點經評估其內部控制設計適當，且該控制被執行中
(D)經評估固有風險的水準低於預期水準

13 查核人員因受查者存在重大訴訟或索賠，而須與受查者之外部法律顧問直接溝通時，下列程序何者較不妥適？
(A)寄送由管理階層具名之查詢函，要求外部法律顧問與查核人員直接溝通
(B)要求外部法律顧問告知訴訟成本之估計
(C)該事項存有顯著風險時，要求與外部法律顧問會面討論，管理階層須作迴避
(D)查詢負責處理攸關事項之管理階層，以取得截至查核報告日與訴訟及索賠現況有關之查核證據

14 書面聲明與其他查核證據間存有不一致時，查核人員可能須考量先前作成之風險評估是否仍屬適當；如不適當，查核人員應如何處理？①須修正風險評估 ②向現任管理階層取得涵蓋所有期間之書面聲明 ③應出具保留結論之核閱報告 ④決定進一步查核程序之性質、時間及範圍
(A)僅①② (B)僅②③ (C)僅③④ (D)僅①④

15 依據審計準則 501 號「查核證據－對存貨、訴訟與索賠及營運部門資訊之特別考量」之規定，如由第三方保管之存貨對財務報表係屬重大，為對該存貨之存在及狀況取得足夠及適切之查核證據，下列何者並非查核人員應執行之查核程序？
(A)自行或安排其他查核人員參與第三方之存貨盤點
(B)向保管者發函詢證
(C)對第三方內部控制之適當性取得其他會計師之報告，以確認存貨業經適當盤點及保全
(D)要求管理階層編製第三方保管存貨之進出庫變動表，就進出紀錄核對受查者內部文件

16 會計師於查核報告日後至財務報表發布日前，有人檢舉查核年度有些銷貨是虛構的，而該等交易若於外勤工作中發現必會深入追查。在此情況下，會計師應如何因應？
(A)不必採取行動，因為查核人員對發生於查核報告日後的事件並無查核的責任
(B)與公司管理階層討論，視需要執行必要之查核程序
(C)要求管理階層於財務報表中揭露該等交易可能之影響
(D)與可能信賴該財務報表的使用者聯繫，通知他們財務報表可能有誤

17 依據審計準則 540 號「會計估計與相關揭露之查核」之規定，下列敘述何者錯誤？

(A)會計估計因具高度估計不確定性而可能存有顯著風險
(B)就公允價值會計估計之衡量目的而言，財務報導期間結束日後之資訊可能無法反映該日所存在之事件或狀況
(C)若查核人員認為管理階層未適當處理估計不確定性對存有顯著風險會計估計之影響，於必要時應建立金額區間估計以評估該會計估計之合理性
(D)查核人員認為使用金額區間估計以評估管理階層單一金額估計之合理性係屬適當時，一定得將金額區間縮小至不超過財務報表整體重大性

18 有關財務報表舞弊之敘述，下列何者錯誤？
(A)偵查舞弊主要係受查者治理單位與管理階層之責任
(B)有關降低財務報表可能因舞弊而產生重大不實表達風險之某些特定控制，管理階層不得因不符成本與效益而不予採行
(C)查核人員應合理確信財務報表整體並無因舞弊所導致之重大不實表達
(D)審計準則要求查核人員質疑所取得之資訊及查核證據，是否可能存有因舞弊所導致之重大不實表達

19 有許多因素會影響細項測試的樣本量大小。在其他因素相同的情況下，下列何項因素會增加樣本量？
(A)較依賴內部控制　(B)較依賴分析性程序
(C)估計不實表達頻率較低　(D)較低的可容忍不實表達

20 查核人員首次查核受查者之財務報表，未能觀察上期期末存貨之盤點，且該項存貨對本期之財務績效及財務狀況變動有重大影響，若查核人員對本期存貨盤點之觀察獲得滿意結論時，得對上期期末存貨實施下列一項或多項之證實測試替代之。下列何者不是合宜的測試？
(A)觀察當期實體存貨盤點，並將其調節至期初存貨數量
(B)運用毛利百分比法分析比較
(C)核閱前任會計師觀察上期存貨盤點之紀錄及相關測試
(D)如該項存貨已作為擔保品，得向債權人發函詢證

21 下列那二項測試經常一起執行？
(A)交易類別的細項測試與控制測試
(B)交易類別的細項測試與取得對受查者內部控制之了解
(C)分析性程序與控制測試
(D)控制測試與科目餘額之細項測試

22 有關「薪工循環」之查核，下列敘述何者錯誤？
(A)查核人員透過檢查員工聘僱契約及出勤紀錄，以確認薪資發放對象是否存在
(B)為求適當分工，薪工交易之入帳及過帳應由計薪部門或計時部門負責最適宜
(C)薪工循環範圍頗廣，包括人事資料、人力資源規劃、招募、訓練、考勤、考核、升遷、薪資表編製、薪資發放等作業
(D)若受查者於某一期間內對已知人數之員工按其給定薪資率支付薪資，則查核人員得以此資料準確估計該期間內之總薪資成本

23 下列何者並非確信準則 3000 號定義之確信案件？
(A)內部控制有效性聲明之查核
(B)協議程序
(C)防制洗錢及打擊資恐之法令遵循聲明之查核
(D)財務預測之核閱

24 有關我國公有營業及事業機關財務之審計，所適用審計法規先後順序之敘述，下列何者正確？
(A)審計法及有關法令規定優先，並輔以一般企業審計原則
(B)一般企業審計原則為優先，並輔以審計法及有關法令規定
(C)審計準則已與國際接軌，故完全採用一般企業審計原則
(D)現行法律沒有明文規定，授權審計部視個案情況決定

25 有關「財務報表之核閱」之敘述，下列何者錯誤？
(A)核閱人員應向管理階層查詢其對企業繼續經營能力之評估
(B)核閱人員應執行其他程序以辨認核閱報告日後發生之事項
(C)會計師於核閱報告中納入繼續經營有關之重大不確定性段時，宜置於結論段之後
(D)會計師認為財務報表偏離適用之財務報導架構之影響係屬重大且廣泛時，應作出否定結論

測驗式試題標準答案

考試名稱：112年特種考試地方政府公務人員考試

類科名稱：會計

科目名稱：審計學（試題代號：4314）

更多地特考試科目的歷屆題庫
立即上網搜尋“地特歷屆考古題懶人包”
高鋒公職補習班整理
Line@帳號：@gaofeng
連絡電話：07-236-7296

單選題數：25題　　單選每題配分：2.00分

複選題數：　　複選每題配分：

標準答案：

題號	第1題	第2題	第3題	第4題	第5題	第6題	第7題	第8題	第9題	第10題
答案	B	C	D	B	C	B	B	D	D	B

題號	第11題	第12題	第13題	第14題	第15題	第16題	第17題	第18題	第19題	第20題
答案	D	D	C	D	D	B	D	B	D	B

題號	第21題	第22題	第23題	第24題	第25題	第26題	第27題	第28題	第29題	第30題
答案	A	B	B	A	B					

題號	第31題	第32題	第33題	第34題	第35題	第36題	第37題	第38題	第39題	第40題
答案										

題號	第41題	第42題	第43題	第44題	第45題	第46題	第47題	第48題	第49題	第50題
答案										

題號	第51題	第52題	第53題	第54題	第55題	第56題	第57題	第58題	第59題	第60題
答案										

題號	第61題	第62題	第63題	第64題	第65題	第66題	第67題	第68題	第69題	第70題
答案										

題號	第71題	第72題	第73題	第74題	第75題	第76題	第77題	第78題	第79題	第80題
答案										

題號	第81題	第82題	第83題	第84題	第85題	第86題	第87題	第88題	第89題	第90題
答案										

題號	第91題	第92題	第93題	第94題	第95題	第96題	第97題	第98題	第99題	第100題
答案										

備　　註：

112 年特種考試地方政府公務人員考試試題

代號：31460
頁次：7-1

等　　別：三等考試
類　　科：會計
科　　目：成本與管理會計
考試時間：2 小時

更多地特考試科目的歷屆題庫
立即上網搜尋“地特歷屆考古題懶人包”
高鋒公職補習班整理
Line@帳號：@gaofeng
連絡電話：07-236-7296

座號：_____

※注意：可以使用電子計算器。

甲、申論題部分：（50分）

㈠不必抄題，作答時請將試題題號及答案依照順序寫在申論試卷上，於本試題上作答者，不予計分。
㈡請以藍、黑色鋼筆或原子筆在申論試卷上作答。
㈢本科目除專門名詞或數理公式外，應使用本國文字作答。

一、甲公司編製最近二年度比較性損益表如下：

	2021	2022
銷貨收入（單位數）.....	15,000	20,000
銷貨收入.....	$300,000	$400,000
銷貨成本：		
直接材料.....	$150,000	$200,000
直接人工.....	75,000	100,000
製造費用.....	30,000	35,000
總計.....	$255,000	$335,000
銷貨毛利.....	$45,000	$65,000
其他營業費用	30,000	40,000
稅前淨利.....	$ 15,000	$ 25,000

試作：

㈠依據上述二年度比較性損益表資料，計算公司所發生的年度固定費用（請使用高低點法估算每一成本要素的成本習性，假定每一成本要素的成本動因為銷貨收入）及計算產品之單位邊際貢獻。（14 分）

㈡假設未來每一成本要素的成本習性不會改變，若公司在 2023 年預計賺取的稅後營業淨利為$16,800，且公司適用的所得稅稅率為 20%，則預計應達成多少的銷貨金額才能滿足該利潤目標？（7 分）

二、甲公司使用產出成本法（throughput costing）作為損益表編製的基礎。其在 2023 年預計及實際生產為 10,000 單位，銷售數量為 9,600 單位，每單位售價為$72，單位產出貢獻（throughput margin per unit）為$62。公司當年度成本資料如下：

直接材料（每單位）……	$?
轉換成本：	
直接人工 ……	30,000
變動製造費用……	70,000
固定製造費用 ……	250,000
銷售及管理費用：	
變動（每單位）……	4
固定 ……	11,600

試作：

在歸納成本法及變動成本法下，甲公司在 2023 年分別有多少費用認列在當期損益表中？（14 分）

三、A 職籃公司有二個營運部門：甲和乙。這二個部門個別及全公司 1 月份的損益表如下：

	甲部門	乙部門	全公司
銷貨收入……	$112,500	$60,000	$172,500
銷貨成本：			
主要成本（Prime cost）	$20,000	$15,000	$35,000
變動製造費用……	15,000	12,000	27,000
固定製造費用……	22,500	18,000	40,500
合計……	$57,500	$45,000	$102,500
銷貨毛利……	$55,000	$15,000	$70,000
其他費用：			
銷售佣金……	$10,000	$5,000	$15,000
包裝及運輸費用……	9,000	7,000	16,000
廣告費用……	12,000	8,000	20,000
行政管理費用……	16,000	8,000	24,000
合計……	$47,000	$28,000	$75,000
營業利益（損失）……	$8,000	$(13,000)	$(5,000)

銀行最近通知公司若要繼續獲得融資，營業利潤必須維持在相當的水準。因此，公司評估是否要出售乙部門以改善目前帳上出現虧損的狀況。若決定出售該部門，買家開出的價碼為現金$300,000，而公司資金的年投資報酬率為 8%。仔細審視乙部門及整個公司目前的成本特性如下：乙部門所有的變動生產成本均是可免成本，固定生產成本的習性短期內不會改變。銷售佣金、包裝及運輸費用亦完全是變動成本。若決定出售，則全公司的廣告費用只會發生$15,000，且乙部門亦可節省一半的行政管理費用。

試作：

以財務分析的角度評估若出售乙部門，將對公司的損益產生何種的影響。作答時須列示計算過程及最後攸關的決策數字，否則將不予計分。（15 分）

乙、測驗題部分：（50分）　　代號：6314

㈠本試題為單一選擇題，請選出一個正確或最適當答案。

㈡共25題，每題2分，須用2B鉛筆在試卡上依題號清楚劃記，於本試題或申論試卷上作答者，不予計分。

1 甲公司為因應工業 4.0，以完全自動化的程序生產雨刷，近期購入生產雨刷的機台每月可製造 300 個雨刷。機器成本為$20,000，以直線折舊法按 10 年提列折舊，假設殘值為零。除機台之折舊費用外，工廠與倉庫的租金，與其他固定製造費用成本合計為每月$2,500。甲公司目前每月製造與銷售 200 個雨刷，而且每月僅會購入剛好夠用的材料，以製造並出售產品，每個雨刷的材料成本是$20。因為公司生產的品質很好，預期明年需求會增加 75%，因此將再添購一部新機台。若根據此需求量買進材料，價格可有 5%的折扣，而租金與其他固定製造費用成本（不包括機台之折舊）將維持不變。在甲公司明年產出的攸關範圍內，預計總製造成本金額為何？

(A)$113,800　(B)$114,900　(C)$124,200　(D)$125,400

2 有關成本名詞之敘述，下列何者正確？

(A)變動成本一定是直接成本　(B)固定成本一定是非攸關成本

(C)玩具製造設備之折舊費用是期間成本　(D)買賣業非資本化成本應列為期間成本

3 關於聯產品成本分攤之敘述，下列何者錯誤？

(A)分攤聯合成本，有助於提供產品訂價時必要的資訊

(B)使用淨變現價值法，則各項聯產品之間毛利率有可能不同

(C)在評估產品是否要進一步加工之決策時，聯合成本為非攸關資訊

(D)使用分離點銷售價值法，各項聯產品在分離點銷售之毛利率會相同

4 甲大學設有文書處理室，主要協助文件的印刷。該處室有 2 個主要的使用者：商學院和文學院。文書處理室年度預算資料摘要如下：

每年固定成本	$60,000
每張印刷的變動成本	$0.05
商學院預計使用量	120,000 張
文學院預計使用量	240,000 張
商學院實際使用量	80,000 張
文學院實際使用量	200,000 張

該大學是用預計使用量分攤固定印刷成本，且用實際使用量分攤變動成本。若採用雙重分攤率來分攤成本，則文學院應分攤的文書處理室成本金額為何？

(A)$40,000　(B)$50,000　(C)$52,000　(D)$52,857

5 甲公司採分步成本制度，產品製造需先經過 A 部門，至 B 部門完工後才可供銷售。B 部門於完工程度 50%處設置檢驗點，期初無在製品存貨，本月完工轉出的完好品有 2,000 單位，期末在製品有 500 單位（完工程度 60%）。B 部門本月份相關資料如下：

完工並轉出之完好產品成本	$100,000
正常損壞成本	$20,000
異常損壞成本	$6,000
期末在製品成本	$24,000
本期投入之總成本	$150,000

依據上述資料將 B 部門成本轉出至製成品，下列何者為認列相關損壞之分錄？

(A)借記：製成品 126,000；貸記：在製品－B 部門 126,000

(B)借記：製成品 100,000，借記：異常損壞損失 26,000；貸記：在製品－B 部門 126,000

(C)借記：製成品 116,000，借記：製造費用 6,000；貸記：在製品－B 部門 122,000

(D)借記：製成品 116,000，借記：異常損壞損失 6,000；貸記：在製品－B 部門 122,000

6 有關分步成本制之敘述，下列何者正確？

(A)分步成本制適用於具有獨特性且大量生產的產品

(B)工程顧問公司包含水利、水保、土木、大地、結構、環境工程、景觀工程、事務管理等專業，最適合採用分步成本制

(C)在分步成本制下，當計算部門轉出成本時，如沒有期初存貨時，採用加權平均法與採用先進先出法的計算結果並無差異

(D)在完工程度 60%處設置檢查點，若該公司期末在製品存貨之完工程度為 80%，則有關正常損壞及非常損壞皆應計入當期完工產品的成本之中

7 甲公司採分批成本制，去年將多分攤或少分攤的製造費用依比率攤到在製品、製成品與銷貨成本帳戶貸方之金額分別為$1,000、$1,500 與$2,500。該公司去年發生費用如下：

間接材料	$ 10,000
間接人工	20,000
其他製造費用	100,000
銷售與管理費用	50,000
總間接成本	$ 180,000

下列何者為該公司去年度已分攤製造費用？

(A)$125,000 (B)$135,000 (C)$175,000 (D)$185,000

8 甲公司生產 505 批號產品 5,000 單位，其單位成本如下：直接材料$21，直接人工$10，製造費用$9。生產完成後，發現有 100 單位為正常損壞品（該批次客戶採用較嚴格品管標準所致），其並無任何銷售價值，下列何者為正確之會計處理？

(A)借：在製品 4,000 (B)借：製造費用 4,000

(C)借：正常損失 4,000 (D)無須作分錄

9 甲公司有 A、B 兩個部門，採部門別製造費用分攤率，且製造費用係依直接人工成本基礎分攤。相關資訊如下：

A 部門：預計直接人工成本$200,000，預計製造費用$600,000。

B 部門：預計直接人工成本$40,000，預計製造費用$80,000。

訂單#475 發生之實際直接成本為：直接原料$25,000，直接人工成本$20,000（A 部門$8,000 及 B 部門$12,000）。下列何者為訂單#475 之製成品成本？

(A)$30,000 (B)$50,000 (C)$75,000 (D)$93,000

10 甲公司生產銅箔基板，採標準成本制，3 月份預計生產 300 單位。購入化工原料 6,000 公斤，實際生產 250 單位，所允許的標準用量為 5,400 公斤，實際用量 5,800 公斤，其標準單價與實際單價分別為$30 及$27。有關 3 月份之原料成本差異分析，下列何者正確？

(A)數量差異為不利$10,800 (B)數量差異為不利$12,000

(C)購料價格差異為有利$16,200 (D)用料價格差異為有利$18,000

11 甲公司生產單一產品，每單位產品必須投入 5 單位之原料，每單位原料購價為$3，X1 年期初原料存貨有 5,000 單位。甲公司預計 X1 年生產 9,000 單位產品，且預計降低原料期末存貨水準至期初存貨的 80%。下列何者為 X1 年原料採購成本預算？

(A)$135,000 (B)$132,000 (C)$123,000 (D)$120,000

12 關於銷貨毛利差異分析之敘述，下列何者錯誤？

(A)銷貨毛利價格差異＝售價差異＋原料價格差異

(B)銷貨毛利差異＝銷貨毛利價格差異＋銷貨毛利數量差異

(C)銷貨毛利數量差異＝銷售組合差異＋純粹銷售數量差異

(D)銷貨毛利數量差異＝銷售組合差異＋市場需求差異＋市場占有率差異

13 甲公司產銷芒果乾，於攸關區間營運，產銷量為 35,000 公斤時，銷貨收入為$1,050,000，銷管費用為$775,000，營業淨利為$275,000；產品的產銷量為 45,000 公斤時，銷貨收入為$1,350,000，銷管費用為$925,000，營業淨利為$425,000。下列何者為產品的邊際貢獻率（四捨五入至整數位）？

(A) 21% (B) 50% (C) 69% (D) 71%

14 甲公司生產 10,000 單位，投入製造費用總計$240,000，標準機器小時為 29,700 小時，實際機器小時為 30,000 小時。固定製造費用之預算為$57,600，固定製造費用之用款差異（spending variance）為不利$3,150，若變動製造費用每機器小時之預計分攤率為$6，下列何者為變動製造費用用款差異？

(A)$750 有利 (B)$750 不利 (C)$1,050 有利 (D)$1,050 不利

15 甲公司計劃推出新產品，市場調查資料顯示，若單位售價訂為$75，則每年可產銷 10,000 單位。製造該產品需投資$800,000，公司的期望報酬率為 20%，預計銷管費用為$150,000。下列何者為每年之總目標製造成本？

(A)$160,000 (B)$440,000 (C)$590,000 (D)$600,000

16 甲印刷公司正考慮汰換舊電腦，舊電腦帳面價值$24,000，供應商願意回收舊電腦並折抵$14,000 後，以$85,000 之價格提供甲印刷公司新電腦。新電腦估計每年可節省$20,000 之營業成本。若甲印刷公司決定不汰舊換新，則省下的$85,000 可用於償還負債，每年可少支付利息$9,000。下列何者為此決策之沉沒成本？

(A)少支付之利息 (B)可節省之營業成本

(C)舊電腦的帳面價值 (D)舊電腦的折抵價值

17 有關成本抑減可能之方法，下列何者錯誤？

(A)簡化製造流程 (B)提升製造效率

(C)增加產品功能 (D)減少無附加價值之活動

18 有關資本預算決策之淨現值法及內部報酬率法，下列敘述何者錯誤？

(A)當淨現值大於 0 時則可接受該投資計畫

(B)當內部報酬率等於公司資金成本率則淨現值等於 0

(C)內部報酬率法對再投資報酬率的假設相當不合理

(D)當內部報酬率小於資金成本率時則可接受該投資計畫

19 甲公司對 A 零件之需求量為每個月 5,000 單位，公司生產部目前配置之人力，均已充分使用，故若欲自製 A 零件，則須加班生產，正常工資率為每小時$120，加班之工資率則為每小時$180，加班不影響固定製造費用。甲公司自製 1 單位 A 零件需要 3 單位材料及 2 個人工小時，材料單位價格為$150，製造費用係以直接人工小時為分攤基礎，每人工小時應分攤之變動及固定製造費用分別為$80 及$100。今有一廠商願意生產 A 零件提供給甲公司，在利潤考量下，下列何者為外購 A 零件每單位可接受之最高價格？

(A)$610 (B)$850 (C)$970 (D)$1,170

20 有關平衡計分卡之構面，下列何者屬於內部程序構面指標？

(A)財務比率 (B)市場占有率 (C)顧客滿意度 (D)製造循環時間

21 甲公司銷售民生必需品，其每單位持有成本為$5，每次訂購成本為$50。由於嚴重通膨，預期訂購成本增加 25%，持有成本增加 25%，下列何者為通膨造成之經濟訂購量變化？

(A)無變化 (B)增加 5% (C)增加 25% (D)增加 50%

22 有關作業基礎成本制，下列敘述何者錯誤？

(A)資源要素即為會計科目之相關費用

(B)作業中心要儘可能區分出作業之差異性

(C)成本標的可為產品、顧客、計畫或部門等

(D)辦公室之租金若以作業中心之坪數為分攤基礎，則坪數為作業動因

23 甲公司總裁下令公司任何的投資方案，皆需要有 8%之投資報酬率。公司設有 A 與 B 兩部門分權經營。各部門經理對任何報酬率高於 8%的投資方案具有裁決權。A 部門過去 3 年之投資報酬率皆為 14%且預期未來也能繼續維持。A 部門有一新投資方案，預期可產生 12%之投資報酬率。若總裁以剩餘利益評估部門績效，下列敘述何者正確？

(A) A 部門經理接受此投資方案，與總裁目標一致

(B) A 部門經理拒絕此投資方案，與總裁目標一致

(C) A 部門經理接受此投資方案，與總裁目標不一致

(D) A 部門經理拒絕此投資方案，與總裁目標不一致

24 甲公司有 A、B 兩部門，A 部門生產零件並以$20 之價格對外銷售。A 部門目前利用了 60%的產能，生產每單位零件的固定成本為$5，變動成本為$12。B 部門想以$10 向 A 部門購買這個零件，A 部門發現仍有足夠產能生產。若 A、B 兩部門的主管績效是以部門報導的利潤衡量，下列何者為 A、B 兩部門主管議價能力相當下可能之轉撥價格？

(A)$10 (B)$12 (C)$18 (D)$20

25 甲公司生產液晶顯示器，該公司發生相關之品質成本如下：品管人員薪資$1,800，工程設計成本$1,600，顧客抱怨處理$1,200，品管人員教育訓練$2,400，產品保固維修$1,900，瑕疵品改善成本$800，損壞品報廢$500，產品保固相關運費$900。下列何者為該公司之外部失敗成本？

(A)$2,100 (B)$3,100 (C)$4,000 (D)$4,500

測驗式試題標準答案

考試名稱：112年特種考試地方政府公務人員考試

類科名稱：會計

科目名稱：成本與管理會計（試題代號：6314）

更多地特考試科目的歷屆題庫
立即上網搜尋“地特歷屆考古題懶人包”
高鋒公職補習班整理
Line@帳號：@gaofeng
連絡電話：07-236-7296

單選題數：25題　　單選每題配分：2.00分

複選題數：　　複選每題配分：

標準答案：

題號	第1題	第2題	第3題	第4題	第5題	第6題	第7題	第8題	第9題	第10題
答案	A	D	A	B	D	C	B	D	D	B

題號	第11題	第12題	第13題	第14題	第15題	第16題	第17題	第18題	第19題	第20題
答案	B	A	B	A	B	C	C	D	C	D

題號	第21題	第22題	第23題	第24題	第25題	第26題	第27題	第28題	第29題	第30題
答案	A	D	A	C	C					

題號	第31題	第32題	第33題	第34題	第35題	第36題	第37題	第38題	第39題	第40題
答案										

題號	第41題	第42題	第43題	第44題	第45題	第46題	第47題	第48題	第49題	第50題
答案										

題號	第51題	第52題	第53題	第54題	第55題	第56題	第57題	第58題	第59題	第60題
答案										

題號	第61題	第62題	第63題	第64題	第65題	第66題	第67題	第68題	第69題	第70題
答案										

題號	第71題	第72題	第73題	第74題	第75題	第76題	第77題	第78題	第79題	第80題
答案										

題號	第81題	第82題	第83題	第84題	第85題	第86題	第87題	第88題	第89題	第90題
答案										

題號	第91題	第92題	第93題	第94題	第95題	第96題	第97題	第98題	第99題	第100題
答案										

備　　註：

代號：31470
頁次：4－1

112 年特種考試地方政府公務人員考試試題

等　　別：三等考試
類　　科：會計
科　　目：政府會計
考試時間：2 小時

更多地特考試科目的歷屆題庫
立即上網搜尋“地特歷屆考古題懶人包”
高鋒公職補習班整理
Line@帳號：@gaofeng
連絡電話：07-236-7296

座號：_____

※注意：禁止使用電子計算器。

甲、申論題部分：（50分）

㈠不必抄題，作答時請將試題題號及答案依照順序寫在申論試卷上，於本試題上作答者，不予計分。
㈡請以藍、黑色鋼筆或原子筆在申論試卷上作答。
㈢本科目除專門名詞或數理公式外，應使用本國文字作答。

一、下列為甲機關收入類之相關會計事項，請就政府會計準則公報第 2 號「政府收入認列之會計處理」之瞭解，並依中央政府普通公務單位會計制度之一致規定，試作下述交易事項應有之會計分錄。（各項分錄之會計科目應以第四級科目名稱為準）（25 分）

1. 甲之收入單位收到期限內繳納之規費 500,000 元，開立收據並辦理繳庫，將收據報核聯送會計室核製傳票。
2. 甲有應收逾期未繳納之規費 100,000 元，移送強制執行，並副知會計室列帳。
3. 甲已列應收之前項逾期未繳納之規費，其中70,000元於次年度如數執行收回繳庫，副知會計室列帳。
4. 另外 30,000 元執行無著，甲依法繼續催繳，嗣於次年度依規定報審計部註銷。
5. 前項報審計部註銷款項，均取得債權憑證計 20 案，其中 2 案全數收回，收回 1,000 元繳庫。

二、X 年度甲機關單位預算以「設備及投資」科目對 A 營業基金國庫增資 10 億元，並以「獎補助費」科目對 A 撥補 5 億元。

㈠依中央政府普通公務單位會計制度之一致規定，試作甲機關對 A 增資及撥補時應有之會計分錄。（12 分）

㈡依中央總會計制度及中央政府整體資產負債表編製注意事項之規定，整體資產負債表為彙總表達公務機關、特種基金整體之資產、負債等狀況之報表。編製整體資產負債表時，對公務機關與特種基金間之內部往來，應加以沖銷，試作前項交易於編列整體資產負債表應有之內部往來事項沖銷分錄。（7 分）

㈢依政府會計準則公報第 8 號「政府會計報告之編製」列出上述政府整體資產負債表之表首，應清楚表達的四個項目。（6 分）

乙、測驗題部分：（50分）　　代號：7314

㈠本試題為單一選擇題，請選出一個正確或最適當答案。
㈡共25題，每題2分，須用2B鉛筆在試卡上依題號清楚劃記，於本試題或申論試卷上作答者，不予計分。

1 當政府採用當期財務資源流量衡量焦點時，其平衡表內容為何？
(A)流動資產、流動負債
(B)流動資產、非流動資產、流動負債
(C)流動資產、流動負債、非流動負債
(D)流動資產、非流動資產、流動負債、非流動負債

2 依政府會計準則公報第 2 號規定，下列收入或收益之會計處理，何者適用民營事業適用之一般公認會計原則？
(A)原住民族綜合發展基金　(B)行政院國家科學技術發展基金
(C)花東地區永續發展基金　(D)運動發展基金

3 依政府會計準則公報第 6 號規定，下列有關政府長期負債之敘述，何者錯誤？①公共債務主管機關發行債券時，應按債券面值入帳，其有溢價或折價時，應列為應付債券之加減項目　②當債券票面利率低於發行日市場利率時，發行債券收到金額會高於債券票面金額，其差額稱為溢價　③公共債務主管機關償付長期負債之利息及相關手續費，應列為應付債券之加項　④債務基金於償付長期負債利息或手續費時，應認列為支出
(A)僅①④　(B)僅②③　(C)僅②④　(D)①②③④

4 依政府會計準則公報第 9 號規定，下列有關政府預算之敘述，何者正確？
(A)會計年度終了時，除預算保留數外，其餘預算控制科目應予結清
(B)特種基金預算執行控制，與公務機關相同
(C)公務機關之預算執行事項，應設置預算控制科目記載之
(D)政府組織採用定額預算時，可編製相關管理性報表

5 依中央總會計制度規定，下列會計科（項）目屬於政府整體資產負債表者，計有幾項？①繳付公庫數　②公庫撥入數　③無形資產　④負債準備
(A) 0 項　(B) 1 項　(C) 2 項　(D) 3 項

6 依中央總會計制度規定，政府年度會計報告之公告及保存，應分別依何種法律規定辦理？
(A)皆依決算法　(B)決算法及會計法
(C)會計法及審計法　(D)皆依會計法

7 依中央總會計制度規定，有關整體資產負債表、公務機關與特種基金財務報表之敘述，下列何者錯誤？
(A)整體資產負債表，依公務機關及特種基金財務報表等彙編而成
(B)公務機關與特種基金財務報表之會計科目，原則依各機關與基金報表科目辦理
(C)整體資產負債表之會計科目分類為資產類、負債類及淨資產類
(D)整體資產負債表非流動資產之三級會計科目，包括應收款項等項

8 依中央政府普通公務單位會計制度之一致規定，下列敘述何者正確？
(A)支付辦公大樓耐震補強工程款時，貸記房屋建築及設備
(B)支付辦公大樓耐震補強工程款時，借記累計折舊－房屋建築及設備
(C)機械設備按月提列折舊時，借記累計折舊－機械及設備
(D)支付將空調系統中之部分零件更換為高效能之種類時，借記累計折舊－機械及設備

9 依中央政府普通公務單位會計制度之一致規定，甲機關於 X0 年 1 月收到乙機關委託代為採購機械設備款項 1,000 萬元，3 月完成採購，支付 950 萬元，該資產暫由甲機關保管。11 月始依約定將設備及賸餘款交付乙機關。甲機關完成採購時，3 月應作之分錄為何？
(A)僅作借：應付代收款 950 萬元，貸：專戶存款 950 萬元
(B)借：應付代收款 1,000 萬元，貸：專戶存款 950 萬元、應付款項 50 萬元；借：機械及設備 950 萬元，貸：應付保管品 950 萬元
(C)借：應付代收款 950 萬元，貸：專戶存款 950 萬元；借：保管品 950 萬元，貸：應付保管品 950 萬元
(D)借：機械及設備 950 萬元，貸：專戶存款 950 萬元；借：應付代收款 950 萬元，貸：應付保管品 950 萬元

10 依中央政府普通公務單位會計制度之一致規定，下列交易何者不會影響公務機關之支出？
(A)收回以前年度支出　(B)退還本年度收入
(C)取得長期投資　(D)償付長期負債

11 依政府會計觀念公報第 3 號規定，政府會計資訊之表達與揭露，下列敘述何者錯誤？
(A)提供有用資訊，以達成政府會計報告之目的
(B)可按組織觀點、基金觀點、預算觀點或計畫觀點等方式編製
(C)公共建設預計完成所需時間應予揭露
(D)以金額表達為原則

12 依中央政府普通公務單位會計制度之一致規定，X1 年 11 月 1 日甲機關持有上市之 A 公司普通股 500 萬股，該投資之帳面價值為 2 億元，每股市價為 39 元，占 A 公司股權比例為 8%，該公司董事長係由甲機關選派，X1 年 12 月 31 日每股市價漲為 41 元，但 A 公司之淨值未變動，其會計分錄應為：
(A)借：其他長期投資評價調整 500 萬元，貸：投資利益 500 萬元
(B)借：採權益法之投資評價調整 1,000 萬元，貸：投資利益 1,000 萬元
(C)借：採權益法之投資評價調整 500 萬元，貸：投資利益 500 萬元
(D)不作分錄

13 依中央政府普通公務單位會計制度之一致規定，下列何者為固定資產項下之會計科目？
(A)權利　(B)運輸設備　(C)公共建設及設施　(D)雜項設備

14 甲機關本年度支付員工薪資 100 萬元、電費 5 萬元，並採購材料 100 萬元，該材料本年度實際使用 60 萬元；另收回以前年度已認列獎補助支出之賸餘款並繳庫 2 萬元，依中央政府普通公務單位會計制度之一致規定，請問甲機關本年度支出類會計科目金額為何？
(A) 165 萬元　(B) 167 萬元　(C) 205 萬元　(D) 207 萬元

15 依中央政府普通公務單位會計制度之一致規定，丙機關 X2 年度單位預算案歲入編列 200 萬元、歲出編列 1 億 2,500 萬元，送立法院完成審議後丙機關歲入預算增列 20 萬元、歲出預算減列 500 萬元，法定預算並經總統 X2 年 2 月 16 日公布。丙機關 X2 年 2 月底編製之會計月報，預計繳付數科目餘額及預計撥入數科目餘額分別為何？
(A) 200 萬元、1 億 2,500 萬元　(B) 1 億 2,500 萬元、200 萬元
(C) 220 萬元、1 億 2,000 萬元　(D) 1 億 2,000 萬元、220 萬元

16 甲機關於 X1 年 9 月 5 日委託 B 民間機構辦理政府對少子女化對策成效之研究，依契約規定預先撥

付委辦經費 120 萬元，嗣於同年 12 月 31 日 B 民間機構辦理期中經費結報 90 萬元，尚餘 30 萬元未結報，依中央政府普通公務單位會計制度之一致規定，如平時係採現金基礎，下列何者正確？
(A)預先撥付時，借：公庫撥入數 120 萬元，貸：業務支出 120 萬元
(B)預先撥付時，借：預付款 120 萬元，貸：公庫撥入數 120 萬元
(C)辦理期中結報時，借：業務支出 90 萬元，貸：預付款 90 萬元
(D)辦理期中結報時，借：預付款 30 萬元，貸：業務支出 30 萬元

17 依中央政府普通公務單位會計制度之一致規定，總統公布 X1 年度中央政府總預算，其中列有財產售價收入 10 億元之部分，相應之分錄為何？
(A)借：收入預算數 10 億元，貸：歲計餘絀 10 億元
(B)借：歲入預算數 10 億元，貸：預計繳付數 10 億元
(C)借：預計繳付數 10 億元，貸：歲入預算數 10 億元
(D)借：歲計餘絀 10 億元，貸：收入預算數 10 億元

18 甲機關 X3 年度決算中，有一筆經行政院核定之已簽約但超過 4 年未動支之工程計畫，經審計部查核結果，依決算法第 7 條規定，減列該項保留案。依中央政府普通公務單位會計制度之一致規定，針對審計部之修正，甲機關應作何分錄？
(A)不作分錄
(B)借：歲出保留數準備，貸：歲出保留數
(C)借：應付款項，貸：資產負債淨額；借：歲出保留數準備，貸：歲出保留數
(D)借：應付款項，貸：購建中固定資產；借：歲出保留數準備，貸：歲出保留數

19 甲機關簽訂租賃合約，自 X1 年 1 月 1 日起向廠商租用機械設備 1 部，租期 3 年，租賃合約係屬融資租賃，每年 1 月 1 日給付租金 10 萬元，租期屆滿廠商將機械設備產權無償移轉給甲機關時，依中央政府普通公務單位會計制度之一致規定，甲機關應貸記下列那兩個科目？①機械及設備 ②累計折舊－機械及設備 ③租賃資產 ④應付租賃款 ⑤累計折舊－租賃資產
(A)①② (B)①⑤ (C)②③ (D)③④

20 下列財政部所頒布之各項特種公務會計制度，何者訂有餘絀類科目？
(A)國庫出納會計 (B)中央公共債務會計
(C)國有財產會計 (D)關稅徵課會計

21 依國庫出納會計制度之規定，國庫統制會計之國庫收支實況表，係依據下列何種會計簿籍編製？
(A)備查簿 (B)序時帳簿 (C)總分類帳簿 (D)明細分類帳簿

22 依中央公共債務會計制度規定，該制度會計作業之結構，分為下列那兩大系統？
(A)公債及國庫券會計系統 (B)借款及短期借款會計系統
(C)公債及借款會計系統 (D)主管機關及經理機構會計系統

23 依內地稅徵課會計制度之規定，收到用以擔保稅款用之有價證券時，應貸記下列何者？
(A)應付擔保品 (B)應付保證品 (C)存入保證金 (D)應付保管有價證券

24 依中央公共債務會計制度之規定，下列何者之定期對外會計報告應編製旬報？
(A)經理公債會計 (B)主管公債會計 (C)經理國庫券會計 (D)主管國庫券會計

25 依國立大學校院校務基金會計制度之一致規定，國立大學收到政府機關（構）撥補獎補助屬資本門款項，應貸記下列何者？
(A)補助收入 (B)基金 (C)預收收入 (D)遞延收入

測驗式試題標準答案

考試名稱：112年特種考試地方政府公務人員考試

類科名稱：會計

科目名稱：政府會計（試題代號：7314）

更多地特考試科目的歷屆題庫
立即上網搜尋“地特歷屆考古題懶人包”
高鋒公職補習班整理
Line@帳號：@gaofeng
連絡電話：07-236-7296

單選題數：25題　　單選每題配分：2.00分

複選題數：　　複選每題配分：

標準答案：

題號	第1題	第2題	第3題	第4題	第5題	第6題	第7題	第8題	第9題	第10題
答案	A	A	B	D	C	B	D	B	C	D

題號	第11題	第12題	第13題	第14題	第15題	第16題	第17題	第18題	第19題	第20題
答案	C	D	D	B	C	D	B	B	C	A

題號	第21題	第22題	第23題	第24題	第25題	第26題	第27題	第28題	第29題	第30題
答案	C	D	A	A	D					

題號	第31題	第32題	第33題	第34題	第35題	第36題	第37題	第38題	第39題	第40題
答案										

題號	第41題	第42題	第43題	第44題	第45題	第46題	第47題	第48題	第49題	第50題
答案										

題號	第51題	第52題	第53題	第54題	第55題	第56題	第57題	第58題	第59題	第60題
答案										

題號	第61題	第62題	第63題	第64題	第65題	第66題	第67題	第68題	第69題	第70題
答案										

題號	第71題	第72題	第73題	第74題	第75題	第76題	第77題	第78題	第79題	第80題
答案										

題號	第81題	第82題	第83題	第84題	第85題	第86題	第87題	第88題	第89題	第90題
答案										

題號	第91題	第92題	第93題	第94題	第95題	第96題	第97題	第98題	第99題	第100題
答案										

備　　註：

112 年特種考試地方政府公務人員考試試題

等　　別：三等考試
類　　科：會計
科　　目：會計審計法規（包括預算法、會計法、決算法與審計法）
考試時間：2 小時　　座號：＿＿＿＿＿＿

※注意：禁止使用電子計算器。

更多地特考試科目的歷屆題庫
立即上網搜尋“地特歷屆考古題懶人包”
高鋒公職補習班整理
Line@帳號：@gaofeng
連絡電話：07-236-7296

甲、申論題部分：（50分）

㈠不必抄題，作答時請將試題題號及答案依照順序寫在申論試卷上，於本試題上作答者，不予計分。
㈡請以藍、黑色鋼筆或原子筆在申論試卷上作答。
㈢本科目除專門名詞或數理公式外，應使用本國文字作答。

一、試依預算法之規定，說明歲入、歲出、收入、支出的定義及內容，並繪圖說明歲入、歲出、收入、支出、償債支出、舉債收入及移用累計賸餘的關係。（25 分）

二、試依會計法之規定，分別說明主辦會計人員及會計佐理人員辦理交代的內容及程序。（25 分）

乙、測驗題部分：（50分）　　代號：8314

㈠本試題為單一選擇題，請選出一個正確或最適當答案。
㈡共25題，每題2分，須用2B鉛筆在試卡上依題號清楚劃記，於本試題或申論試卷上作答者，不予計分。

1 甲機關編列財產收入預算 200 萬元，為執行該項業務，並編列管理財產相關業務費用預算 25 萬元，另於年度中決定僱用臨時人力 2 人，須支出人事費用 100 萬元，惟未編列預算，財產收入實際收取 250 萬元，較法定預算數超收 50 萬元，下列敘述何者正確？
(A)臨時人力人事費用 100 萬元，未編列預算，故甲機關以執行財產收入實際執行數扣除臨時人力人事費用後，按 150 萬元繳庫
(B)甲機關應解繳國庫 250 萬元
(C)甲機關應按法定預算數 200 萬元繳庫
(D)臨時人力人事費用 100 萬元，未編列預算，故甲機關以財產收入法定預算數扣除臨時人力人事費用後，按 100 萬元繳庫

2 依預算法之規定，下列敘述何者錯誤？
(A)定額特許執照之授與，其拍賣收入應全數解繳國庫，其他法律不得明定排除
(B)監察委員就預算事件，得為機關或附屬單位起訴、上訴或參加其訴訟
(C)立法委員所提法律案大幅增加歲出或減少歲入者，應先徵詢行政院意見，指明彌補資金之來源
(D)地方政府預算因應地方自治得另以法律定之，惟實務上尚無地方政府制定預算法

3 111 及 112 年度 A 財團法人由 B 機關捐助基金 40%及 20%，C 機關為 B 機關之主管機關，下列敘述何者正確？
(A) A 財團法人 111 及 112 年度均應編製營運及資金運用計畫由 B 機關送立法院
(B) A 財團法人屬政府捐助之財團法人，C 機關應將捐助效益評估列入決算辦理
(C) A 財團法人為 B 機關捐助基金累計達 60%，故應全部納入政府會計報導個體範圍
(D) A 財團法人為私法人，B 機關及 C 機關財務報表無須揭露任何資訊

4 依預算法及政府會計觀念公報之規定，特種基金之敘述，下列何者錯誤？
(A)信託基金非屬政府所有，故不納入政府會計報導個體範圍
(B)特種基金與普通基金之差異，前者歲入係供特殊用途，後者則供一般用途
(C)特種基金以歲入、歲出之一部編入總預算者，其預算為附屬單位預算
(D)債務基金係依公共債務法成立，為籌措財源供償還普通基金債本之用，故非屬特種基金之種類

5 依預算法之規定，附屬單位預算與單位預算（均含分預算）執行有顯著差異，針對附屬單位預算及其分預算之敘述，下列何者錯誤？
(A)配合業務需要得於預算外增加收入及支出，併入決算辦理
(B)遇經營環境發生重大變遷或正常業務之確實需要，經行政院核准後得於預算外先行辦理
(C)預算外先行辦理事項，其中固定資產之建設、改良、擴充及資金之轉投資，應補辦以後年度預算
(D)不得於預算所定外動用公款，亦不得於預算外增加債務

6 各機關實施內部審核，下列敘述何者正確？
(A)內部審核為會計人員法定職責，均由會計人員執行，未涉業務主辦單位工作
(B)會計人員執行內部審核工作只需查閱會計簿籍及憑證等，至於現金及財物由總務（秘書）單位負責，會計人員無須檢查
(C)會計人員執行內部審核工作，得兼採書面審核與實地抽查方式辦理
(D)會計憑證關係現金、票據及證券等出納者，為求時效，得先為出納之執行再由主辦會計人員簽名或蓋章

7 有關會計人員之敘述，下列何者正確？
(A)會計人員於不影響公務範圍，得兼營會計師業務
(B)主辦會計人員，應自後任接替之日起 10 日內交代清楚
(C)會計檔案遇有遺失、毀損等情形，如已盡良善管理人應有之注意，即無須再呈報上級主計機關、所在機關長官與所管審計機關
(D)各機關會計憑證、會計報告及記載完畢之會計簿籍等檔案，於總決算公布或令行日後，應移交所在機關管理檔案人員保管

8 司法院得獨立編列司法概算，下列敘述何者正確？
(A)司法院就該年度之概算，逕送立法院審議
(B)行政院就司法院所提之年度司法概算，得加註意見，編入中央政府總預算案，併送立法院審議
(C)行政院就司法院所提之年度司法概算，得加註意見，編入中央政府總預算案，併送立法院，立法院不再審議
(D)立法院院長認為必要時，得要求司法院院長列席立法院司法及法制委員會會議

9 下列何者非屬營業基金決算之主要內容？
(A)現金流量情形　(B)資產及負債財務狀況
(C)淨值變動情形　(D)盈虧撥補之擬議

10 有關公有營業及公有事業審計，下列敘述何者錯誤？
(A)中國輸出入銀行為政府獨資經營，該銀行應經審計機關審核
(B)高雄港區土地開發股份有限公司由中央與高雄市政府合資成立，不論股權比例為何，只要有一方將該公司送審計機關審核即可
(C)公有營業及事業編製結算表、年度決算表，均應送審計機關審核
(D)公有營業及事業之盈虧，必須以審計機關審定數為準

11 有關公務審計，下列敘述何者正確？

(A)各機關已核定之分配預算，應依限送審計機關，修正時無須再送
(B)審計機關派員赴各機關就地辦理審計事務，依事先擬訂查核計畫辦理，不必再評核其內部控制建立及執行之有效程度
(C)審計人員依法獨立行使審計職權，不受干涉，其就地辦理各機關審計事務，無須由該管審計機關核定其審計結果
(D)各機關於會計年度結束後，應編製年度決算送審計機關審核，審計機關應予審定，並發給審定書

12 有關審計法核定財務責任，下列敘述何者錯誤？
(A)各機關人員對於財務上行為應負之責任，非經審計機關審查決定，不得解除
(B)各機關主辦及經辦出納人員簽發支票或給付現金，如查明有超過核准人員核准數額，應負損害賠償責任
(C)由數人共同經管之遺失或損失案件，不能確定何人未盡善良管理人應有之注意，只要有人出來承擔，即由其負損害賠償責任
(D)各機關經管財物，如有遺失、毀損，經審計機關查明未盡善良管理人應有之注意時，該機關長官及主管人員應負損害賠償責任

13 審計機關派員赴各公營事業就地辦理審計事務，依審計法施行細則規定，下列何者非屬查核資本支出應特別注意事項？
(A)工程進度　(B)興建後之效能
(C)支出之內容　(D)資本支出年度預算變動趨勢

14 依預算法所述，預算以提供政府於一定期間完成作業所需經費為目的，此所指之政府為：
(A)中央政府　(B)地方政府
(C)中央政府不包含立法院　(D)地方政府不包含地方立法機關

15 下列關於預算之執行何者正確？
(A)預算之執行，遇國家發生特殊事故而有裁減經費之必要時，得經立法院之審議，呈請總統以令裁減之
(B)繼續經費之按年分配額，在一會計年度結束後，未經使用部分，經核准者，得轉入下年度支用
(C)會計年度結束後，各機關已發生尚未收得之收入，應即轉入下年度列為下年度收入
(D)會計年度結束後，其經費未經使用者，應即停止使用。但已發生而尚未清償之債務或契約責任部分，經核准者，得轉入下年度列為以前年度應付款或保留數準備

16 甲機關 112 年度預算一般行政項下編列人事費 3 億元，業務費 20 億元，一般建築及設備項下編列設備及投資 2 億元，第一預備金編列 200 萬元。執行結果為人事費短少 100 萬元，業務費節餘 150 萬元，一般建築及設備節餘 80 萬元。關於人事費短少部分，可採下列何種方式補足？
(A)由業務費流入 100 萬元
(B)由一般建築及設備流入 80 萬元，業務費流入 20 萬元
(C)由一般建築及設備流入 80 萬元，動支第一預備金 20 萬元
(D)動支第一預備金 100 萬元

17 關於附屬單位預算之敘述，下列何者正確？
(A)附屬單位預算為單位預算之附屬組織或部門
(B)在特種基金，應於總預算中編列全部歲入、歲出之基金預算
(C)在特種基金，應以歲入、歲出之一部編入總預算
(D)附屬單位預算之執行，不得於預算所定外，動用公款、處分公有財務或為投資之行為

18 特種基金中之信託基金，於政府會計之報導中，下列敘述何者正確？

(A)列入政府會計報導範圍，得揭露必要之資訊
(B)列入政府會計報導範圍，但不須揭露資訊
(C)不宜列入政府會計報導範圍，也不須揭露資訊
(D)不宜列入政府會計報導範圍，得揭露必要之資訊

19 關於會計事務，下列敘述何者正確？
(A)公務機關之現金、票據、證券之出納、保管、移轉之會計事務，屬公務出納之會計事務
(B)公務機關之不動產物品及其他財產之增減、保管、移轉之會計事務，屬財物經理之會計事務
(C)各機關關於公債之發生、處理、清償之會計事務，屬公債之會計事務
(D)各機關之規費收入及其他依法處理之程序，屬徵課之會計事務

20 會計報告分為動態與靜態報告，下列敘述何者正確？
(A)平衡表、歲入累計表屬靜態報告；現金出納表、成本計算表屬動態報告
(B)票據結存表、固定負債目錄屬靜態報告；經費累計表、證券結存表屬動態報告
(C)公債現額表、資金運用表屬靜態報告；票據出納表、票照等憑證出納表屬動態報告
(D)特種財物目錄、現金結存表屬靜態報告；成本計算表、盈虧撥補表屬動態報告

21 關於政府會計制度，下列敘述何者正確？
(A)中央政府普通公務單位會計制度之一致規定，由行政院定之，並採用權責發生制
(B)中央政府普通公務單位會計制度之一致規定，由行政院主計總處定之，並採用權責發生制
(C)國庫出納會計制度，由行政院定之，並採用權責發生制
(D)國庫出納會計制度，由行政院主計總處定之，並採用權責發生制

22 關於會計簿籍的規定，下列敘述何者正確？
(A)會計簿籍分為帳簿及序時帳簿二類
(B)會計資料採用機器處理者，其機器貯存體中之紀錄，為編造會計報告事實所需，爰視為備查簿
(C)總分類帳簿，以編造會計報告總表為主要目的而設
(D)特種序時帳簿，僅於特種基金為序時登記而設者

23 關於會計法及審計法的規定，下列敘述何者正確？
(A)各機關實施內部審核，應由審計人員執行之。但涉及非會計專業規定、實質或技術性事項，應由業務主辦單位負責辦理
(B)審計人員於執行內部審核工作時，包含事前審核，事項入帳前之審核，著重收支之控制，及事後複核，事項入帳後之審核，著重憑證、帳表之複核與工作績效之查核
(C)審計人員為行使內部審核職權，向各單位查閱簿籍、憑證暨其他文件，或檢查現金、財物時，各該負責人不得隱匿或拒絕。遇有疑問，並應為詳細之答復
(D)各機關主辦會計人員，對於不合法之會計程序或會計文書，應使之更正；不更正者，應拒絕之，並報告該機關主管長官

24 有關會計事務程序，下列敘述何者錯誤？
(A)成本會計事務，對於成本要素應詳細記錄及精密計算，並比較分析增減原因，除作為編製財務報告之用外，並提供內部管理依據
(B)機關裁撤時，無須立刻辦理結算工作，於會計年度終了一併辦理決算即可
(C)機關大宗財物之增減、保管、移轉，應隨時造具記帳憑證
(D)公營事業之會計事務，應採權責基礎記錄外，對於折舊、折耗、攤銷及用品盤存等損益事項，均須整理記錄

25 各機關人員對於財務上行為應負之責任，非經審計機關審查決定，不得解除，其中財務上行為應負之責任，例如：①機關經管現金、票據、證券、財物或其他資產，如有遺失、毀損，或因其他意外事故而致損失者　②審計機關決定應剔除或繳還之款項，其未能依限悉數追還，致遭受損失者　③誤為簽發支票或給付現金，致公款遭受損失者④會計簿籍或報告發生錯誤，致公款遭受損失者。下列何者正確？
(A)僅①②③　(B)僅②③④　(C)僅①②④　(D)①②③④

測驗式試題標準答案

考試名稱：112年特種考試地方政府公務人員考試

類科名稱：會計

科目名稱：會計審計法規（包括預算法、會計法、決算法與審計法）（試題代號：8314）

更多地特考試科目的歷屆題庫
立即上網搜尋“地特歷屆考古題懶人包”
高鋒公職補習班整理
Line@帳號：@gaofeng
連絡電話：07-236-7296

單選題數：25題　　單選每題配分：2.00分

複選題數：　　複選每題配分：

標準答案：

題號	第1題	第2題	第3題	第4題	第5題	第6題	第7題	第8題	第9題	第10題
答案	B	A	B	D	D	C	D	B	C	B

題號	第11題	第12題	第13題	第14題	第15題	第16題	第17題	第18題	第19題	第20題
答案	D	C	D	A	D	D	C	D	A	D

題號	第21題	第22題	第23題	第24題	第25題	第26題	第27題	第28題	第29題	第30題
答案	B	C	D	B	D					

題號	第31題	第32題	第33題	第34題	第35題	第36題	第37題	第38題	第39題	第40題
答案										

題號	第41題	第42題	第43題	第44題	第45題	第46題	第47題	第48題	第49題	第50題
答案										

題號	第51題	第52題	第53題	第54題	第55題	第56題	第57題	第58題	第59題	第60題
答案										

題號	第61題	第62題	第63題	第64題	第65題	第66題	第67題	第68題	第69題	第70題
答案										

題號	第71題	第72題	第73題	第74題	第75題	第76題	第77題	第78題	第79題	第80題
答案										

題號	第81題	第82題	第83題	第84題	第85題	第86題	第87題	第88題	第89題	第90題
答案										

題號	第91題	第92題	第93題	第94題	第95題	第96題	第97題	第98題	第99題	第100題
答案										

備　　註：

112 年特種考試地方政府公務人員考試試題

等　　別：三等考試
類　　科：會計
科　　目：中級會計學
考試時間：2 小時

更多地特考試科目的歷屆題庫
立即上網搜尋“地特歷屆考古題懶人包”
高鋒公職補習班整理
Line@帳號：@gaofeng
連絡電話：07-236-7296

座號：_____

※注意：可以使用電子計算器。

甲、申論題部分：（50分）

㈠不必抄題，作答時請將試題題號及答案依照順序寫在申論試卷上，於本試題上作答者，不予計分。
㈡請以藍、黑色鋼筆或原子筆在申論試卷上作答。
㈢本科目除專門名詞或數理公式外，應使用本國文字作答。

一、丙公司於 X1 年 1 月 1 日與丁公司簽訂 5 年期的租賃合約，進行一項丙公司營運所需的機器設備的承租。該合約約定丙公司須於每年年底進行租賃給付＄60,000，且租約起始日的原始直接成本＄2,500，由丙公司支付。租賃合約條款中，包含租賃延長 3 年期間的選擇權，惟丙公司於簽訂租約時，無法合理確定將行使租賃延長之選擇權。租約訂定時，丁公司隱含利率為 6%，為丙公司所知，丙公司以直線法進行承租機器設備的折舊提列。此外，5 年租期屆滿之際，租賃設備須返還丁公司，丙公司估計於機器設備返還之日，無須支付機器設備的保證殘值。惟租賃合約執行至 X3 年 1 月 1 日時，上述承租機器設備所生產的產品，因應市場需求量提升，丙公司合理確定行使租賃延長的選擇權，剩餘租賃期間的隱含利率，丙公司並非容易確定，此時，丙公司的增額借款利率為 8%。再者，對於行使選擇權所影響的租賃期間變動，丙公司考量修正後之租賃給付，此時，修正後租賃期間的屆滿日，丙公司在保證殘值下，預期應付＄3,000 金額予丁公司。

試作：丙公司有關上述租賃合約在下列日期的必要分錄。

（註：複利現值因子：1 期，6%＝0.943396，2 期，6%＝0.889996，3 期，6%＝0.839619，4 期，6%＝0.792094，5 期，6%＝0.747258，6 期，6%＝0.704961，7 期，6%＝0.665057，8 期，6%＝0.627412。複利現值因子：1 期，8%＝0.925926，2 期，8%＝0.857339，3 期，8%＝0.793832，4 期，8%＝0.735030，5 期，8%＝0.680583，6 期，8%＝0.630170，7 期，8%＝0.583490，8 期，8%＝0.540269）

㈠ X1 年 1 月 1 日。（4 分）
㈡ X1 年 12 月 31 日。（8 分）
㈢ X3 年 1 月 1 日。（5 分）
㈣ X3 年 12 月 31 日。（8 分）

二、甲公司投資於兩項金融資產，相關資料如下：

債務工具：X0 年 12 月 31 日以$208,904（含交易成本）購買乙公司發行之公司債，面額$200,000，5%，5 年期，每年 12 月 31 日付息一次。依據國際財務報導準則第 9 號「金融工具」規範金融資產之分類的兩項基礎：企業管理金融資產之經營模式，及金融資產之合約現金流量特性，甲公司將投資於乙公司公司債分類為透過其他綜合損益按公允價值衡量之債務工具。購買債務工具之當日，有效利率為 4%，此債券的 12 個月預期信用損失估計金額為$600。

權益工具：X1 年 1 月 1 日以$250,000 投資於丙公司發行的普通股 5,000 股，每股面額$10，此項投資符合國際財務報導準則第 9 號「金融工具」範圍內的權益工具。在 X1 年 1 月 1 日進行此項權益工具的原始認列時，甲公司將其分類為透過損益按公允價值衡量之權益工具。

上述投資持有至 X1 年 12 月 31 日，甲公司收取債券利息$10,000，同時評估債券信用風險並未顯著增加，12 個月預期信用損失金額為$1,100，當日，債券公允價值為$195,000。X1 年 12 月 31 日的丙公司普通股每股市價為$54。此外，上述債務工具投資存在下列兩種獨立情況：

情況 1：甲公司於 X1 年 12 月 31 日決定改變債務工具之經營模式，將債務工具的分類由透過其他綜合損益按公允價值衡量，重分類為透過損益按公允價值衡量的債務工具。X2 年 1 月 1 日債券的公允價值為$220,000。

情況 2：甲公司於 X1 年 12 月 31 日以公允價值$39,000 出售面額$40,000 債券。

試問：請計算甲公司上述投資的相關金額（註：列示計算過程。請標明綜合損益表科目的（損）益金額或資產負債表科目的（借或貸方）餘額。）

㈠ X1 年 12 月 31 日「透過損益按公允價值衡量之權益工具投資評價調整」餘額？（5 分）

㈡情況 1 之下，X1 年度「其他綜合損益－透過其他綜合損益按公允價值衡量之債務工具投資備抵損失」？ X1 年 12 月 31 日「其他權益－透過其他綜合損益按公允價值衡量之債務工具投資評價損益」餘額？（10 分）

㈢情況 2 之下，X1 年度「透過其他綜合損益按公允價值衡量之債務工具處分（損）益」？X1 年 12 月 31 日「其他權益－透過其他綜合損益按公允價值衡量之債務工具投資評價損益」餘額？（10 分）

乙、測驗題部分：（50分）　　代號：3314

㈠本試題為單一選擇題，請選出一個正確或最適當答案。
㈡共20題，每題2.5分，須用2B鉛筆在試卡上依題號清楚劃記，於本試題或申論試卷上作答者，不予計分。

1 甲公司 X3 年的綜合損益表包含下列項目：出售透過其他綜合損益按公允價值衡量之債務工具投資利益$15,000、國外營運機構財務報表換算之兌換差額$2,600，確定福利計畫下之再衡量損失$8,400，地震災損$3,000，公允價值模式下之投資性不動產公允價值調整利益$6,600。假設上述金額均為稅後，且無其他收益費損項目，試問甲公司 X3 年之本期淨利金額為何？
㈠$7,600　㈡$10,200　㈢$16,000　㈣$18,600

2 甲公司於 X2 年初以$525,000 買入乙公司發行之可轉換公司債，面額為$500,000，另支付手續費$2,350。購買當日公司債轉換權之公允價值為$13,200，試問購買時應作之分錄包含：
㈠借：透過損益按公允價值衡量之債券投資$514,091
㈡借：透過損益按公允價值衡量之債券投資$525,000
㈢借：透過損益按公允價值衡量之金融資產－轉換權$13,141
㈣借：透過損益按公允價值衡量之金融資產－轉換權$13,200

3 下列有關會計政策及會計估計變動之敘述何者錯誤？
㈠若會計估計變動及會計政策變動同時發生且二者影響可劃分時，應先處理會計政策變動，再計算估計變動之影響
㈡若一項會計變動無法明顯區分是會計政策變動，或是會計估計變動時，該變動應視為會計估計變動
㈢應收帳款壞帳衡量方式由帳齡分析法改為應收帳款餘額百分比法為會計政策變動
㈣交易、其他事項或情況之實質不同於先前發生者，所採用之會計政策非屬會計政策變動

4 甲公司於 X1 年 1 月 1 日以$180,000 購入設備，估計耐用年限 5 年，無殘值。會計帳上使用年數合計法提列折舊，報稅時使用直線法。X1 年底時外幣應收帳款按期末匯率衡量，認列外幣兌換損失$21,000，依稅法規定實現時方可認列。假設甲公司 X1 年的會計利潤為$490,000，稅率為 20%，且無發生其他造成會計利潤與課稅所得間差異的交易。試問 X1 年底與所得稅有關的敘述何者正確？
㈠遞延所得稅資產$9,000　㈡應付所得稅$102,800
㈢所得稅費用$116,000　㈣遞延所得稅資產$600

5 甲公司在 X3 年至 X5 年間的財務資料有下述錯誤事項：
1. 期末漏作預收收入之調整分錄（下一年度實現），X3 年 $30,500；X4 年 $37,000；X5 年$46,000。
2. 期末漏作應付租金之調整分錄（下一年度實現），X3 年$42,000；X4 年正確無誤；X5 年$37,000。
3. X5 年以$33,000 出售已提盡折舊之設備，此交易之分錄漏作。
4. 期末存貨 X3 年多計$57,000；X4 年少計$69,000；X5 年正確無誤。
假設上述錯誤於 X5 年結帳前發現，且不考慮所得稅影響。試問 X5 年度淨利高估或低估多少？
㈠高估$82,000　㈡低估$82,000　㈢低估$115,000　㈣高估$115,000

6 甲公司有關確定福利計畫之相關資料如下，折現率為 9%：

X1 年底調整後相關項目金額		X2 年相關資料	
淨確定福利負債	$332,000	當期服務成本	$ 388,000
確定福利義務現值	910,000	提撥基金	400,000
計畫資產公允價值	578,000	支付確定福利	160,000
		期末確定福利義務現值應有餘額	1,240,000
		期末計畫資產之公允價值	883,000
		期初修改計畫發生前期服務成本	56,000

試計算 X2 年度之確定福利計畫再衡量數為何？

(A)利益$7,120 (B)利益$12,980 (C)利益$53,920 (D)利益$65,000

7 甲公司 X3 年度淨利$750,000，普通股全年流通在外股數為 200,000 股。X3 年初有流通在外認股權 15,000 單位，每單位得按每股$40 認購普通股 1 股，截至年底尚未執行。此外，X3 年 1 月 1 日公司發行員工股票選擇權 10,000 股，員工於服務滿 4 年後，每單位得按每股$30 認購普通股 1 股，發行日每單位員工股票選擇權之公允價值為$15，X3 年 12 月 31 日員工尚須提供服務之每股公允價值為$12。甲公司普通股全年平均市價為$48。試問甲公司 X3 年稀釋每股盈餘為何？

(A)$3.64 (B)$3.68 (C)$3.69 (D)$3.70

8 甲牧場於 X1 年初以$220,000 購買 40 頭乳牛，另支付$10,000 運費，準備飼養成熟後用來生產牛乳。甲牧場估計若立即出售此批乳牛，將須負擔運送到市場的成本為$15,000 及市場管理費為$6,000，試問甲牧場原始認列該生物資產應認列之費損金額為何？

(A)$0 (B)$10,000 (C)$21,000 (D)$31,000

9 下列有關財務報表觀念之敘述，何者正確？

(A)出售庫藏股票損失應認列為費損

(B)符合財務報表要素定義之項目，即應予以認列

(C)財務報表要素之衡量基礎，一經決定即不可改變

(D)當 IASB 財務報表觀念架構與國際財務報導準則規定發生衝突時，應以國際財務報導準則為準

10 甲公司 X10 年初以$10,000,000 取得某煤礦，並另支付無形開發成本$1,000,000，估計煤的蘊藏量為 1,000,000 噸，開採完後須支付$2,000,000 將土地復原，X10 年度的開採量及銷售量分別為 300,000 噸及 200,000 噸。X11 年初甲公司重新評估時發現煤的總蘊藏量為 800,000 噸，X11 年度的開採量及銷售量分別為 200,000 噸及 300,000 噸。煤每噸的售價為$25，加工成本為$3，銷售費用為$2。則甲公司 X11 年度的銷貨毛利為：

(A)$2,700,000 (B)$2,417,500 (C)$1,060,000 (D)$1,660,000

11 甲公司於 X2 年 7 月 1 日獲得政府對某個 4 年期專案計畫的補助款$60,000,000，該數額占整個專案計畫支出之 50%。甲公司於 X2 年及 X3 年執行該專案累計已投入專案活動之支出為$90,000,000。X3 年底甲公司因未符合附帶條件而遭要求退還全部之政府補助款，試問此退還事件對甲公司 X3 年稅前淨利的影響為何？

(A)無影響 (B)減少$22,500,000 (C)減少$45,000,000 (D)減少$60,000,000

12 甲公司與乙公司簽訂不可取消之銷貨合約，約定於 X1 年 10 月 1 日至 X2 年 3 月 31 日間，以每單位$22 的價格銷售 80,000 單位商品給乙公司。甲公司於 X1 年度已銷售 30,000 單位。X1 年底甲公司庫存商品數量為 40,000 單位，每單位成本為$19，當日之單位重置成本為$20。該商品於銷售給乙公司時，甲公司尚需負擔之銷售費用為售價的 15%，試問甲公司於 X1 年底應認列與此銷貨合約有關的費損金額為何？

(A)$0 (B)$12,000 (C)$15,000 (D)$25,000

13 甲公司於 X10 年 5 月 1 日以完全追索權方式，出售帳面金額$2,500,000 之應收帳款予乙銀行，乙銀行負責收款，但銷貨退回、折扣、讓價仍由甲公司負責，故乙銀行保留 10%以供沖抵可能發生之銷貨退回、讓價及折扣。乙銀行另收取應收帳款總額 5%之手續費，5 月份共計發生銷貨退回$70,000，銷貨讓價$10,000，並發生呆帳$55,000。另外，甲公司帳上於 X10 年 4 月 30 日前已對此項帳款估列備抵呆帳$40,000。有關應收帳款移轉之會計處理，下列敘述何者正確？

(A)甲公司在 5 月 1 日應貸記應收帳款$2,500,000

(B)甲公司對此項應收帳款之移轉交易整體共收到現金為$2,240,000

(C)甲公司在 5 月份應認列呆帳費用$55,000

(D)甲公司在 5 月 1 日應認列出售帳款損失$125,000

14 甲公司 X1 年底營業活動淨現金流入為$450,000，本期賒銷之銷貨收入$100,000，應收帳款收現$80,000，沖銷無法收回之帳款$5,000，提列預期信用減損損失$10,000，折舊費用$25,000，應付公司債折價攤銷$13,000，遞延所得稅負債增加$15,000，應付股利增加$60,000，採權益法認列之關聯企業損失份額$80,000，利息費用$27,000，宣告股利$120,000。因利息及股利在現金流量表各有不同活動歸類選項，請問甲公司 X1 年度淨利不可能為下列何者？

(A)$313,000 (B)$327,000 (C)$373,000 (D)$388,000

15 甲公司於 X1 年 12 月 1 日與乙客戶約定，將於 X2 年 2 月 1 日以每件價格$800 銷售 2,000 件商品給乙客戶，並提供自交貨日起為期 1 年之免費保固服務，該保固屬保證型保固。甲公司依據過去經驗估計商品於保固期內回廠維修之機率為 5%，平均每件商品之維修成本為$300，而 X2 年實際保固支出為$25,000。下列敘述何者正確？

(A) X1 年應認列保固費用$30,000，於 X2 年底保固負債準備餘額為$5,000

(B) X1 年應認列保固費用$80,000，於 X2 年底保固負債準備餘額為$55,000

(C) X2 年應認列保固費用$30,000，於 X2 年底保固負債準備餘額為$5,000

(D) X1 年及 X2 年皆無須認列負債準備

16 甲公司於 X1 年初給與 10 位主管各 1,000 單位認股權，必須服務 4 年始能既得，當日認股權之公允價值每單位$15。於 X1 年底，因股價下跌，甲公司重設認購價格以維持該認股權計畫之吸引力，主管仍需服務至 X4 年底才能取得認股權，即既得期間維持不變。價格重設之前認股權之公允價值每單位$3，而價格重設之後認股權之公允價值每單位$9。甲公司 X1 年底、X2 年底、X3 年底，預期分別有 2 位、4 位、5 位主管會在 X4 年底前離職，X4 年底前實際有 5 位主管離職，則 X4 年甲公司應認列之薪資費用為何？

(A)$28,750 (B)$0 (C)$18,750 (D)$19,250

17 甲公司 X10 年初同時承攬乙及丙兩間公司的長期工程合約，預計 X11 年底前皆可完工，甲公司採用完工百分比法，兩項工程的相關資料如下：

	乙公司	丙公司
合約價格	$36,000,000	$27,000,000
X10 年已投入工程成本	21,600,000	12,960,000
X10 年底估計至完工尚須投入的成本	5,400,000	8,640,000
X10 年請款金額	16,200,000	22,500,000
X10 年收款金額	10,800,000	19,800,000

在編製甲公司 X10 年底的財務狀況表時，有關上述兩項合約，流動資產與流動負債餘額之表達，下列何者正確？

(A)流動資產$18,000,000；流動負債$3,600,000
(B)流動資產$14,400,000；流動負債$0
(C)流動資產$53,100,000；流動負債$38,700,000
(D)流動資產$20,700,000；流動負債$6,300,000

18 下列關於無形資產的敘述，正確者共有幾項？

①非確定耐用年限的無形資產每年須定期測試減損
②尚未可供使用的無形資產每年須提列攤銷費用
③尚未可供使用的無形資產之減損損失未來不得迴轉
④可選擇採用重估價模式作為會計政策
⑤建立技術可行性前之電腦軟體成本應予以資本化

(A) 2 項　(B) 3 項　(C) 4 項　(D) 5 項

19 甲公司於 X1 年 12 月 1 日與乙客戶約定，將於 X2 年 1 月 1 日以每件售價$1,200 銷售單位成本$600 的商品共 2,000 件給乙客戶，除自交貨日起為期 1 年之免費保證類型保固服務外，若要加購第 2 年和第 3 年的服務型保固，每件商品須另外支付$300，乙客戶於 X2 年 1 月 1 日選擇每件另外支付$300 購買第 2 年和第 3 年的保固。甲公司依據過去經驗估計平均每件商品之維修成本為$500，商品於保固期內第 1 年回廠維修之機率為 5%，第 2 年維修機率為 10%，第 3 年維修機率為 15%。甲公司以投入法將合約對價分配到履約義務。下列敘述何者正確？

(A) X2 年認列銷貨收入$2,400,000　(B) X2 年認列保固收入$600,000
(C) X3 年認列保固收入$500,000　(D) X4 年認列保固收入$300,000

20 甲公司 2021 年初購入面額$1,000,000 之債券投資，票面利率 10%，5 年期，有效利率為 12%，並分類為按攤銷後成本衡量債券投資。該債券於 2022 年底有備抵損失$10,000。若甲公司 2023 年初改變其管理債券之經營模式，該債券於重分類日公允價值為$930,000，下列有關重分類之敘述何者正確？

(A)重分類前的總帳面金額為$951,963
(B)若重分類至透過其他綜合損益按公允價值衡量類，則其他權益影響數合計為$11,963（借方）
(C)若重分類至透過損益按公允價值衡量類，則對損益影響合計為損失$21,963
(D)若重分類至透過其他綜合損益按公允價值衡量類，則對損益影響合計為損失$10,000

測驗式試題標準答案

考試名稱：112年特種考試地方政府公務人員考試

更多地特考試科目的歷屆題庫
立即上網搜尋“地特歷屆考古題懶人包”
高鋒公職補習班整理
Line@帳號：@gaofeng
連絡電話：07-236-7296

類科名稱： 會計

科目名稱： 中級會計學（試題代號：3314）

單選題數：20題　　單選每題配分：2.50分

複選題數：　　複選每題配分：

標準答案：

題號	第1題	第2題	第3題	第4題	第5題	第6題	第7題	第8題	第9題	第10題
答案	D	B	C	A	A	C	B	D	D	D

題號	第11題	第12題	第13題	第14題	第15題	第16題	第17題	第18題	第19題	第20題
答案	C	D	B	D	C	A	D	A	D	B

題號	第21題	第22題	第23題	第24題	第25題	第26題	第27題	第28題	第29題	第30題
答案										

題號	第31題	第32題	第33題	第34題	第35題	第36題	第37題	第38題	第39題	第40題
答案										

題號	第41題	第42題	第43題	第44題	第45題	第46題	第47題	第48題	第49題	第50題
答案										

題號	第51題	第52題	第53題	第54題	第55題	第56題	第57題	第58題	第59題	第60題
答案										

題號	第61題	第62題	第63題	第64題	第65題	第66題	第67題	第68題	第69題	第70題
答案										

題號	第71題	第72題	第73題	第74題	第75題	第76題	第77題	第78題	第79題	第80題
答案										

題號	第81題	第82題	第83題	第84題	第85題	第86題	第87題	第88題	第89題	第90題
答案										

題號	第91題	第92題	第93題	第94題	第95題	第96題	第97題	第98題	第99題	第100題
答案										

備　　註：

代號：31350
31450
頁次：3－1

112 年特種考試地方政府公務人員考試試題

等　　別：三等考試
類　　科：財稅行政、會計
科　　目：財政學
考試時間：2 小時

更多地特考試科目的歷屆題庫
立即上網搜尋“地特歷屆考古題懶人包”
高鋒公職補習班整理
Line@帳號：@gaofeng
連絡電話：07-236-7296

座號：_____

※注意：禁止使用電子計算器。

甲、申論題部分：（50分）

㈠不必抄題，作答時請將試題題號及答案依照順序寫在申論試卷上，於本試題上作答者，不予計分。
㈡請以藍、黑色鋼筆或原子筆在申論試卷上作答。
㈢本科目除專門名詞或數理公式外，應使用本國文字作答。

一、施打疫苗可提升自我免疫力、預防感染以致於減少罹病的風險。但同時，施打疫苗將不會再有將病毒傳染給他人的可能，間接減少了他人的罹病率。因此，個人施打疫苗的決定帶來了外部利益。然而，隨著愈來愈多的人施打疫苗，每次疫苗施打的邊際外部利益可能逐步下降；當施打疫苗的群眾達到足夠人數時，病毒便難以在人與人之間傳播，施打疫苗的邊際外部利益最終降為零。假設疫苗市場為完全競爭市場，請繪圖分析政府是否應給予消費者施打疫苗的補貼？對疫苗的市場價格、社會福利淨利益又有何影響？（25 分）

二、各國稅局課徵個人所得稅時，通常會提供納稅者得以享受租稅優惠（tax preferences）的項目，請說明何謂租稅優惠？租稅優惠的立論基礎及其可能的經濟效果又為何？（25 分）

乙、測驗題部分：（50分）　　代號：5313

㈠本試題為單一選擇題，請選出一個正確或最適當答案。
㈡共25題，每題2分，須用2B鉛筆在試卡上依題號清楚劃記，於本試題或申論試卷上作答者，不予計分。

1 當公共支出之成本係以貨幣衡量，而利益涉及以質性指標為決策依據時，下列方法何者適用？
(A)成本效益分析　(B)成本效用分析　(C)成本效果分析　(D)敏感性分析

2 下列何者不是成本效益分析決定無形財貨或勞務影子價格的常用方法？
(A)特徵價格法（hedonic price method）
(B)條件評估法（contingent valuation method）
(C)旅遊成本法（travel-cost method）
(D)淨變現價值法（net realizable value method）

3 若某一投資計畫估計一年後之名目報酬為 1,100 元，市場利率為 8%，通貨膨脹率為 2%，則該計畫報酬之現值為：
(A) 1,100 元　(B) 1,019 元　(C) 1,000 元　(D) 943 元

4 下列那一個圖形最能代表皮寇克（A. Peacock）及魏斯曼（J. Wiseman）的公共支出成長法則？圖形中，G 代表政府支出，GNP 代表國民生產毛額。

(A) $\frac{G}{GNP}$

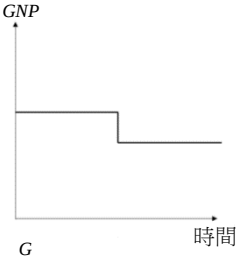

(B) $\frac{G}{GNP}$

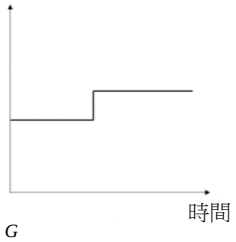

(C) $\frac{G}{GNP}$

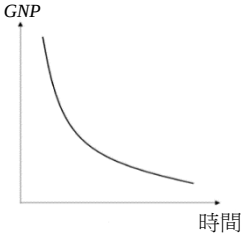

(D) $\frac{G}{GNP}$

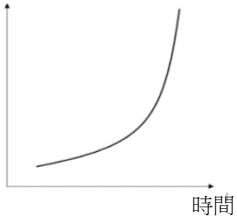

5 下列有關網路外部性（network externalities）的敘述，何者錯誤？
(A)網路遊戲玩家的效用因更多玩家參與遊戲而提升，此為正的網路外部性
(B)線上影音檔案下載速度會因網路使用人數擴增而減緩，此為負的網路外部性
(C)政府不需因某一產品或服務具備正的網路外部性，而提出租稅或補貼等鼓勵措施
(D)具備正的網路外部性的產品，經常因閉鎖效果（lock-in effect），而使得產品容易被取代

6 下列何者不是具有自然獨占特性的公用事業？
(A)臺灣高鐵公司 (B)台灣糖業公司 (C)台灣電力公司 (D)臺灣自來水公司

7 福利經濟學第一定理主要在強調經濟資源配置效率與下列何者之關係？
(A)租稅公平 (B)社會福利 (C)完全競爭市場 (D)政府存在

8 下列有關古典財政理論的敘述，何者正確？
(A)主張政府應積極介入市場經濟 (B)反對國家發行公債
(C)贊成以貨幣政策調節產出 (D)主張國家生產體說

9 下列何者並非中位數投票者定理所推論？
(A)候選人會以中位數投票者的政策立場訂定其選舉政見以尋求多數選民的支持
(B)以代議制取代直接選舉不影響定理的預測結果
(C)追求中位數投票者支持的結果導致穩定的兩黨政治體系
(D)候選人的個人魅力與領導能力是贏得中位數投票者支持的關鍵

10 假設一選區有甲、乙、丙 3 位候選人，投票者針對候選人偏好排序，將票投給偏好最高的候選人，選舉採兩輪選舉制，首輪投票中擇得票最多的兩人，進入二輪決選，以得票過半數者當選。假定選民的偏好如下，請問那位候選人會贏得選舉？
42%選民偏好：甲＞乙＞丙；35%選民偏好：乙＞丙＞甲；18%選民偏好：丙＞乙＞甲；5%選民偏好：丙＞甲＞乙
(A)甲候選人 (B)乙候選人 (C)丙候選人 (D)出現循環多數決

11 全民健康保險所提供的預防保健服務，下列敘述何者正確？
(A)可改善逆選擇問題 (B)為避免浪費醫療資源，收取高額部分負擔
(C)為現金補助措施之一 (D)免除部分負擔

12 社會救助法的中央主管機關為：
(A)內政部 (B)衛生福利部 (C)勞動部 (D)財政部

13 在相同稅收下，有關租稅課徵的超額負擔（EB）之敘述，下列何者正確？①稅率累進度愈高，EB 愈大　②替代效果愈大，EB 愈大　③所得效果愈大，EB 愈小　④稅基愈廣，EB 愈大
(A)①②　(B)①②④　(C)②③　(D)①③④

14 由於我國人口結構發生變化，導致勞保財務問題日益嚴重，下列何者非主要原因？
(A)依賴人口比率日增　(B)男女性別比例失衡
(C) 65 歲以上人口比例日漸增加　(D)生育率逐年下滑

15 我國現行的特種貨物及勞務稅是一種：
(A)單階段加值型消費稅　(B)選擇性多階段消費稅
(C)稅收指定用途的租稅　(D)累進課徵之財產稅

16 在部分均衡分析架構下，對完全競爭市場商品從量課稅所產生之超額負擔，下列敘述何者錯誤？
(A)與商品需求彈性呈正相關　(B)與商品價格呈正相關
(C)與課徵稅額的平方呈正相關　(D)與商品交易數量呈正相關

17 下列那些是亞當斯密的租稅課徵原則？①公平原則　②普遍原則　③中性原則　④確實原則　⑤便利原則
(A)①②③④　(B)①②③⑤　(C)①④⑤　(D)②④⑤

18 下列有關租稅課徵效果之敘述，何者正確？①課稅與補貼都會產生超額負擔　②課稅會產生超額負擔，補貼不會　③平均稅率愈大，替代效果愈弱　④邊際稅率愈大，替代效果愈強
(A)①③　(B)①④　(C)②③　(D)②④

19 在所得固定且全部用於消費的條件下，對所有財貨（不含休閒）課徵比例消費稅（CT），或是對所得課徵比例所得稅（IT），下列敘述何者正確？
(A) CT 與 IT 都具效率　(B) CT 具效率、IT 不具效率
(C) CT 與 IT 都不具效率　(D) CT 不具效率、IT 具效率

20 丁波（C. M. Tiebout）認為下列何種方法可以讓地方公共財的提供達到效率？
(A)課徵人頭稅　(B)徵收克拉奇租稅
(C)居民以腳投票　(D)依所得高低強制比例繳稅

21 下列何者不是財產稅新觀點的特徵？
(A)在單一稅率下，財產稅負全由買方負擔
(B)在單一稅率下，對土地課徵財產稅具累進性
(C)在差別稅率下，財產稅具貨物稅效果
(D)在長期財產供給可變下，財產稅可能是累退的

22 下列何項稅目沒有統籌分配的規定？
(A)貨物稅　(B)土地增值稅　(C)房屋稅　(D)使用牌照稅

23 若某一國家遭遇巨大天災，依據貝羅（R. Barro）的論點，為了減少扭曲，應以下列何者為重建財源？
(A)提高稅賦　(B)發行公債　(C)減少政府其他支出　(D)貨幣融通

24 假設受補助地區收到 1 元補助款時所增加的公共支出為 X，而其所得增加 1 元時所增加的公共支出為 Y。捕蠅紙效果（flypaper effect）係指下列何種現象？
(A) $X>Y$　(B) $X=Y$　(C) $X<Y$　(D) $X=(1/Y)$

25 比較凱因斯及布坎南對於公債是否存在代際間負擔移轉之推論，下列何者正確？
(A)前者須視公債收入之用途而定，後者認為不存在代際間移轉
(B)前者不存在代際間移轉，後者認為須視公債收入之用途而定
(C)二者均認為須視公債收入之用途而定
(D)二者均認為不存在代際間移轉

測驗式試題標準答案

考試名稱：112年特種考試地方政府公務人員考試

類科名稱：會計、財稅行政

科目名稱：財政學（試題代號：5313）

更多地特考試科目的歷屆題庫
立即上網搜尋“地特歷屆考古題懶人包”
高鋒公職補習班整理
Line@帳號：@gaofeng
連絡電話：07-236-7296

單選題數：25題　　單選每題配分：2.00分

複選題數：　　複選每題配分：

標準答案：

題號	第1題	第2題	第3題	第4題	第5題	第6題	第7題	第8題	第9題	第10題
答案	B	D	B	B	D	B	C	B	D	B

題號	第11題	第12題	第13題	第14題	第15題	第16題	第17題	第18題	第19題	第20題
答案	D	B	A	B	C	B	C	B	A	C

題號	第21題	第22題	第23題	第24題	第25題	第26題	第27題	第28題	第29題	第30題
答案	A	D	B	A	B					

題號	第31題	第32題	第33題	第34題	第35題	第36題	第37題	第38題	第39題	第40題
答案										

題號	第41題	第42題	第43題	第44題	第45題	第46題	第47題	第48題	第49題	第50題
答案										

題號	第51題	第52題	第53題	第54題	第55題	第56題	第57題	第58題	第59題	第60題
答案										

題號	第61題	第62題	第63題	第64題	第65題	第66題	第67題	第68題	第69題	第70題
答案										

題號	第71題	第72題	第73題	第74題	第75題	第76題	第77題	第78題	第79題	第80題
答案										

題號	第81題	第82題	第83題	第84題	第85題	第86題	第87題	第88題	第89題	第90題
答案										

題號	第91題	第92題	第93題	第94題	第95題	第96題	第97題	第98題	第99題	第100題
答案										

備　　註：